INTERNATIONAL ACADEMY
MATEMÁTICAS
BLOQUE 5

NÚMEROS DECIMALES A FRACCIONES Y REPRESENTACIÓN DE NÚMEROS DECIMALES EN LA SEMIRRECTA NUMÉRICA

RESPONDER LAS SIGUIENTES PREGUNTAS

1. Completar

Si el decimal tiene una cifra, en el denominador escribimos.....; si tiene dos cifras decimales, escribimos.....; y si tiene tres cifras decimales, escribimos..... .

2. Une con flechas los números decimales con la fracción que corresponda.

0,9	352/1000	1,4	736/100
0,352	50/100	7,36	14/10
0,50	9/10	6,152	6152/1000

3. Completa el siguiente cuadro, según corresponda. Juan juega con sus amigo armar fracciones decimales

Nombre	Número decimal	Fracción decimal	Se lee
Juan	0,15	15/100	
Katy	0,18		18 centésimos
Samuel	3,4		
Bela	0,205		

4. Escribe los números decimales que se señalan en las semirrectas numéricas

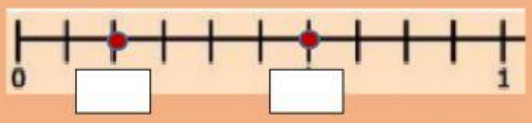

LIVEWORKSHEETS

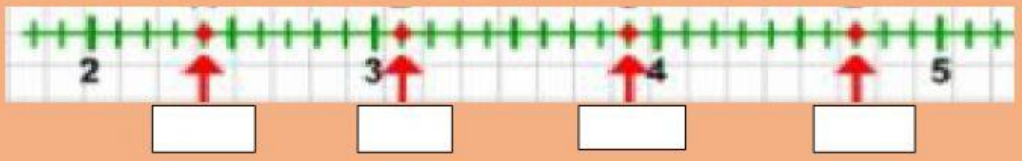

5. Completa con la fracción o número decimal que corresponda.

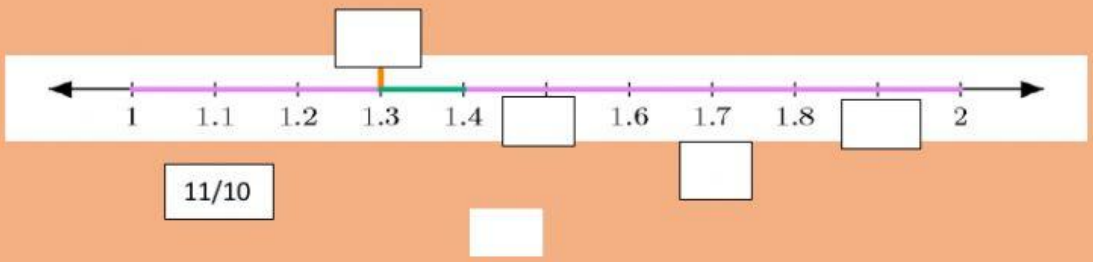

6. Coloque la fracción equivalente a los siguientes decimales (Aplicar la simplificación).

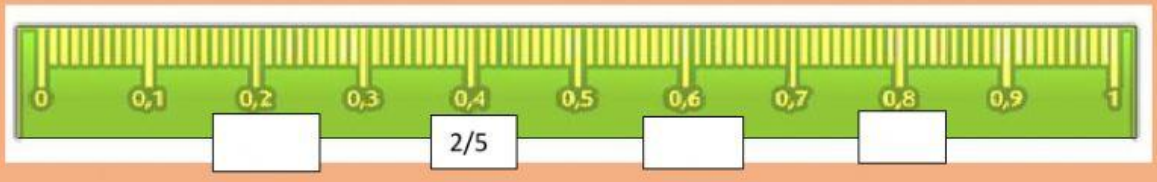

Elaborado por: Erika Angamarca

LIVEWORKSHEETS