Fecha: _____

Repaso: Geometría
Lección 5.3: Las Rectas

I. Escoge la mejor contestación

1. Dos rectas que se **cortan** (**cruzan o intersecan**) se llaman _____.

   a. Secantes b. Oblicuas c. Paralelas

2. Las perpendiculares cuando se cruzan **forman ángulos** _____.

   a. Rectos b. Obtusos c. Agudos

3. Las rectas oblicuas tienen **un punto en común** y forman cuatro_____.

   a. Segmentos b. Rectas c. Ángulos

4. Las rectas perpendiculares tienen un **punto en común un forman ángulos** de _____.

   a. 40˚ b. 90˚ c. 180˚

5. Las perpendiculares cuando se **cruzan forman ángulos** _____.

   d. Rectos e. Obtusos f. Agudos

6. Dos líneas en un mismo plano que **no se cruzan** son _____.

   a. Perpendicular b. Paralelas c. Oblicuas

II. Identifica cada recta (**oblicua, vertical, horizontal**)

_____

_____

_____

I.

II. Clasifica las rectas en paralelas, perpendiculares u oblicuas.

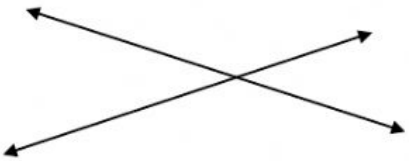

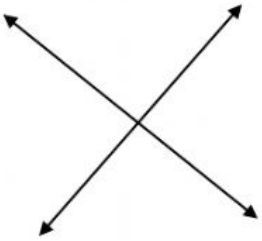

LIVEWORKSHEETS

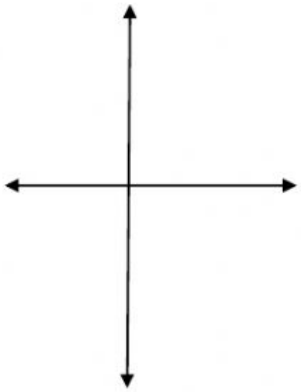

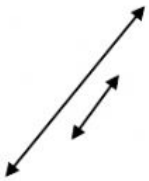

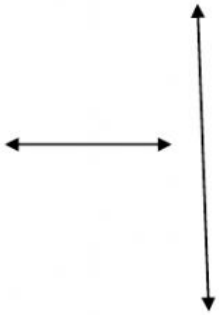



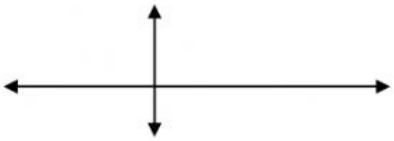

LIVEWORKSHEETS