CADERNO
M0201

AVALIAÇÃO DIAGNÓSTICA DE ENTRADA
2021

GOVERNO DO ESTADO DE SÃO PAULO
SECRETARIA DE EDUCAÇÃO

CAEd UFJF

MATEMÁTICA **2º ano do Ensino Fundamental**

Nome da Escola _____

Nome do Aluno _____

Data ____/____/____ Turma _____

UTILIZE O LEITOR RESPOSTA ABAIXO DESSA LINHA ENQUADRANDO A CÂMERA APENAS MAS BONITAS

LIVEWORKSHEETS

01) (M02044617) Observe abaixo Leandro em sua cozinha.

Qual é o objeto que está em cima do balcão?

A

B

C

D

02) (M010712H6) Observe abaixo o desenho de uma lata de milho.

A forma dessa lata de milho lembra qual figura geométrica?

A 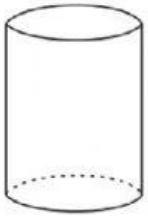

B 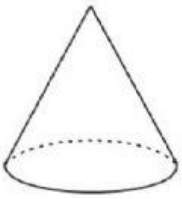

C 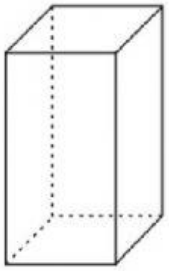

D 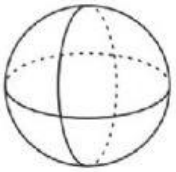

LIVEWORKSHEETS

03) (M010421I7) Daniel tem 5 livros e Murilo tem 2 livros.
Quantos livros Daniel e Murilo têm juntos?

A 3

B 6

C 7

D 52

04) (M010423I7) Observe, na imagem abaixo, os horários das atividades que Lucas fez ao longo do dia.

8 HORAS	10 HORAS	12 HORAS	13 HORAS	15 HORAS

De acordo com essa imagem, o que Lucas fez depois das 13 horas?

A

B

C

D

LIVEWORKSHEETS

05) (M010662H6) Observe abaixo a quantidade de chapéus que quatro amigos têm.



MARA



JOANA



CARLOS



LUCAS

Qual desses amigos tem a maior quantidade de chapéus?

A CARLOS.

B JOANA.

C LUCAS.

D MARA.

06) (M030140I7) Gustavo e Lucas jogam no mesmo time de futebol. Em uma partida, Gustavo fez 5 gols e Lucas fez 7 gols.
Quantos gols Gustavo e Lucas fizeram ao todo nessa partida?

A 2

B 5

C 11

D 12

LIVEWORKSHEETS

07) (M010716H6) Observe abaixo o desenho de uma capa de celular que Tiago comprou.



A forma dessa capa de celular lembra qual figura geométrica?

A 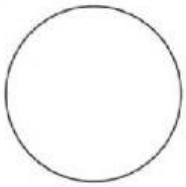

B 

C

D 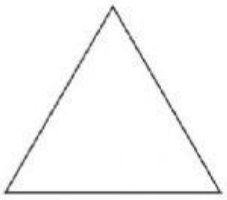

08) (M020484I7) Observe os bancos abaixo.

I II III IV

Qual desses bancos é o mais baixo?

A I

B II

C III

D IV

LIVEWORKSHEETS

09) (M01014717) Observe abaixo as garrafas de leite em cima da mesa.



Quantas garrafas de leite tem, ao todo, em cima dessa mesa?

A 3

B 4

C 5

D 6

10) (M02009417) Jaqueline viajou para o Rio de Janeiro e ficou 2 semanas.
Quantas dias Jaqueline ficou no Rio de Janeiro?

A 30 DIAS.

B 14 DIAS.

C 10 DIAS.

D 7 DIAS.

LIVEWORKSHEETS