GAZETA MATEMATICĂ Junior

CONCURS • Etapa a II-a – 3 aprilie 2017

SUBIECTE
CLASA PREGĂTITOARE

Timp de lucru – 60 minute

Nume: _____

Prenume: _____

Clasa: _____

Școala: _____

A.

1. Nicu a realizat roboțelul din imagine folosind diferite figuri geometrice. Câte figuri geometrice a folosit din fiecare fel?

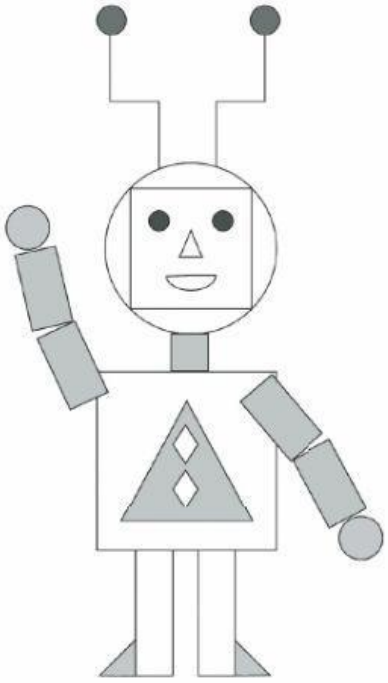

Scrieți în tabelul următor numărul corespunzător pentru fiecare figură geometrică folosită de Nicu:

○	□	▭	◇	△

2. Iepurașul vrea să ajungă la morcov. El trebuie să aleagă numai drumul cu numerele scrise în ordine crescătoare.

Colorați casetele cu aceste numere, pornind de la numărul indicat.

	3		4		5		7		8		9		
	9		9		2		6		4		1		
	8		3		4		5		2		6		
	1		2		7		1		3		5		

LIVEWORKSHEETS

B.

3. În cadrul jocului *„Desenează flori cu atâtea petale câte arată cifra!”*, trei elevi din clasa pregătitoare au rezolvat astfel:

ARIS	MARA	AURA
		
9	7	9

Scrieți X în caseta corespunzătoare răspunsului corect.

a. Care copil a desenat tot atâtea petale câte arată cifra?

ARIS	MARA	AURA

b. Mara a desenat:

cu două petale mai multe decât arată cifra	cu două petale mai puține decât arată cifra	tot atâtea petale câte arată cifra

c. Pentru a rezolva corect, Aris trebuia să mai deseneze:

4 petale	3 petale	2 petale

4. Observați calendarul lunii martie a anului în care ne aflăm, apoi marcați cu X în tabel răspunsul corect:

LUNI	MARȚI	MIERCURI	JOI	VINERI	SÂMBĂTĂ	DUMINICĂ
		1	2	3	4	5
6	7	8	9	10	11	12
13	14	15	16	17	18	19
20	21	22	23	24	25	26
27	28	29	30	31		

LIVEWORKSHEETS

a. Prima zi a lunii martie este într-o zi de:

LUNI	MARȚI	MIERCURI

b. Ultima zi a lunii martie este într-o zi de:

VINERI	SÂMBĂTĂ	DUMINICĂ

c. Ziua Femeii a fost sărbătorită în acest an într-o zi de:

MIERCURI, PE 1 MARTIE	MIERCURI, PE 8 MARTIE	MIERCURI, PE 22 MARTIE

C.

5. Observați desenele. Îngheţata este desenată în caseta **B4**, ursuleţul este desenat în caseta **D5**.

În ce casetă este desenat iepuraşul?

Marchează cu X în tabel caseta corespunzătoare răspunsului corect.

D1	B1	A2

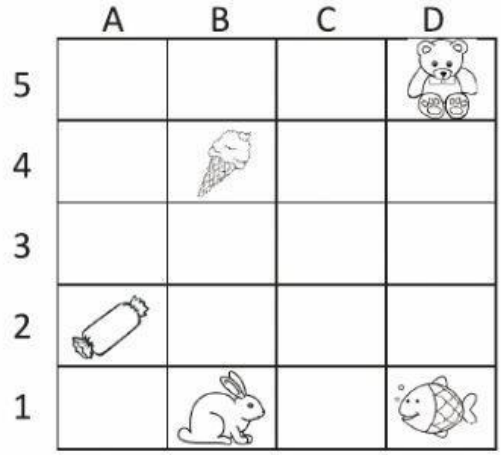

6. Observați următoarele coduri:

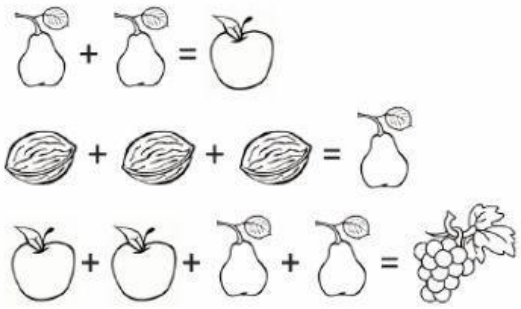

Desenați fructe pentru a rezolva următoarele cerințe:

a. = ?

b. = ?

c. 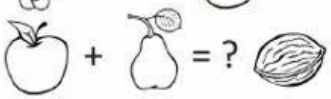 = ?

• Toate subiectele sunt obligatorii.

succes!

LIVEWORKSHEETS