ACTIVIDAD 1

¿Qué nombre corresponde a cada letra?

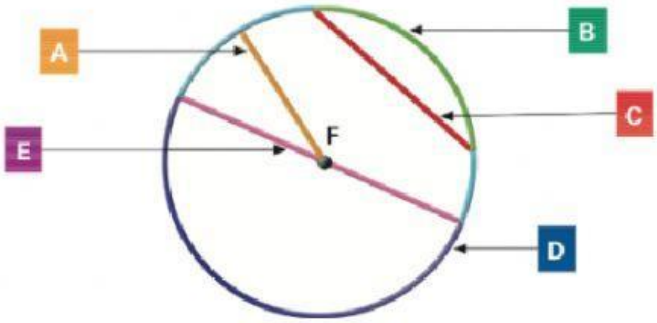

Recuerda comenzar cada palabra en mayúscula y utilizar TILDES.

A	
B	
C	
D	
E	

ACTIVIDAD 2

Selecciona el nombre de la parte del círculo que corresponde a cada letra:

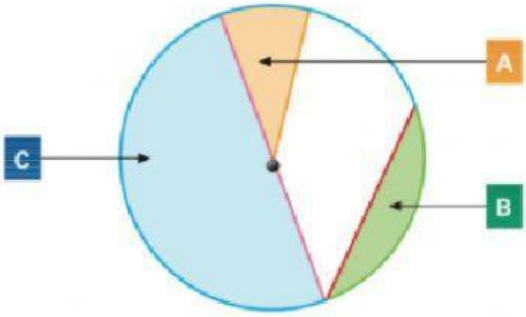

A	
B	
C	

LIVEWORKSHEETS

ACTIVIDAD 3

El segmento AB mide 10 cm. ¿Cuánto mide el radio de las semicircunferencias azules? ¿Y el de la roja?

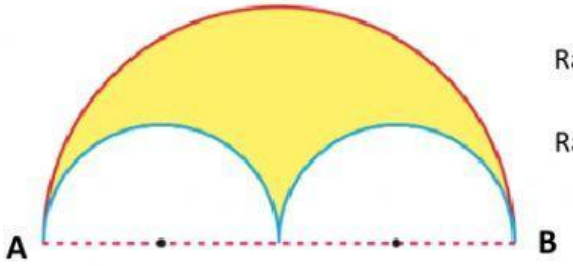

Radio de semicircunferencias azules: cm

Radio de semicircunferencia roja: cm

ACTIVIDAD 4

Indica la posición que ocupa cada recta respecto a la circunferencia:

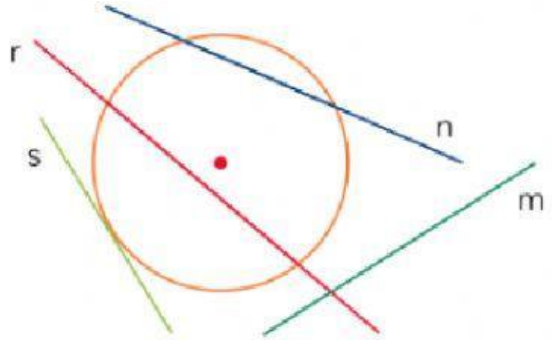

Recuerda comenzar cada palabra en mayúscula y utilizar TILDES (si las hay).

s	
r	
n	
m	

ACTIVIDAD 5

Observa la figura y completa las frases:

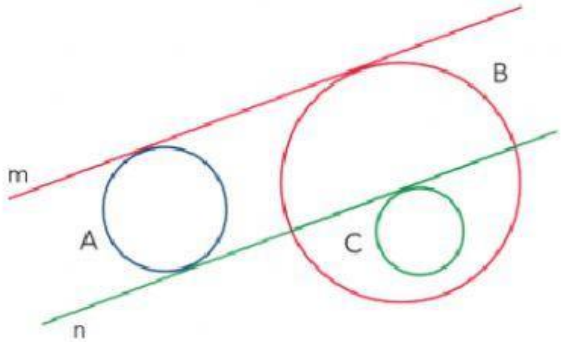

OJO: es importante distinguir entre **MAYÚSCULAS** (circunferencias) y **minúsculas** (rectas).

- La recta m es tangente respecto a las circunferencias _____ y _____ .
- La recta _____ es secante respecto a la circunferencia _____ .
- La recta _____ es exterior respecto a la circunferencia _____ .
- La recta _____ es tangente respecto a las circunferencias A y C.
- Las rectas m y n son tangentes respecto a la circunferencia _____ .

LIVEWORKSHEETS