MINISTERUL EDUCAȚIEI NAȚIONALE

COMPER

FUNDAȚIA PENTRU ȘTIINȚE ȘI ARTE

CONCURSUL ŞCOLAR NAŢIONAL DE COMPETENŢĂ ŞI PERFORMANŢĂ COMPER

EDIŢIA 2018-2019 / ETAPA a II-a – 22 martie 2019

COMPER – MATEMATICĂ, CLASA PREGĂTITOARE

- **Toate subiectele sunt obligatorii.**
- **Timpul efectiv de lucru este de 50 de minute.**
- **Cerințele vor fi citite de învățător/supraveghetor.**

Ascultă cu atenție enunțurile, apoi încercuiește răspunsurile corecte.

STANDARD

1. Imaginea care apare de cele mai multe ori este:



A. ; **B.** ; **C.** ; **D.** .

2. BUHA zăreşte în pădure 2 albine, 3 buburuze şi 4 fluturaşi.
Câte insecte a numărat BUHA?

A. 5; **B.** 7; **C.** 6; **D.** 9.

3. Încercuiește numerele mai mici decât 13. Ai găsit … numere.

8	11	13	1	2	12	14	10	15	7

A. 7 numere; **B.** 8 numere; **C.** 6 numere; **D.** 5 numere.

4. Privește imaginea alăturată.
Operația matematică potrivită este:
A. 4 – 1;
B. 4 + 2;
C. 6 – 3;
D. 6 + 1.

LIVEWORKSHEETS

5. Ce număr urmează?

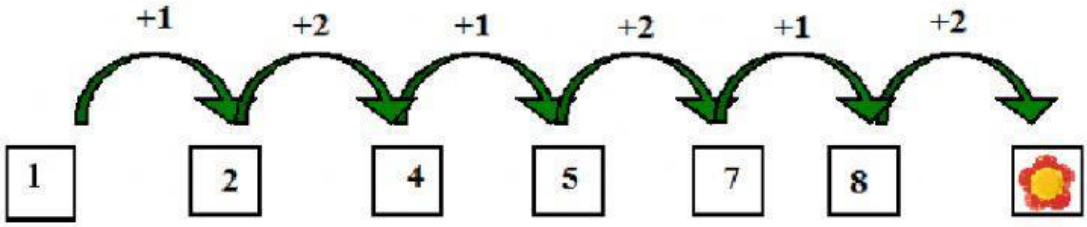

A. 7; **B.** 8; **C.** 9; **D.** 10.

6. Găsește numerele care au fost șterse de ploaie.

18 **17** **.....** **.....** **14** **.....**

Acestea sunt:

A. 16, 11, 15; **B.** 12, 16, 15; **C.** 16, 15, 13; **D.** 16, 15, 10.

7. Nu are rezultatul 8, exercițiul din dreptul:

3 + 5 =

8 + 2 =

7 + 1 =

4 + 4 =

A. pisicii; **B.** ursului; **C.** cățelului; **D.** elefantului.

8. Privește cu atenție **popicele dărâmate**. Care dintre copii este câștigătorul?



Ionuț	Dan	Mircea	Matei

A. Dan; **B.** Ionuț; **C.** Matei; **D.** Mircea.

9. Ce numere ascund florile?

7 + **= 10 ,**  **+** **= 10**

A. = 3 , = 4; **B.** = 3, = 5; **C.** = 2, = 5; **D.** = 3, = 6.

Itemii 1-9 se notează cu câte 10 puncte fiecare; se acordă 10 puncte din oficiu.
Total: 100 de puncte.

LIVEWORKSHEETS