ASSSITA AO VÍDEO E RESOLVA AS ATIVIDADES.

1 A PROFESSORA CIRCULOU 10 PIÕES. AGORA CONTE TODOS OS PIÕES E COMPLETE A FRASE ABAIXO.



FORAM CERCADOS ☐ PIÕES OU ☐ DEZENA DE PIÕES.

LIVEWORKSHEETS

2 LIGUE CADA ENGRADADO AMARELO A UM ENGRADADO VERMELHO CORRESPONDENTE PARA JUNTAR 10 GARRAFAS.

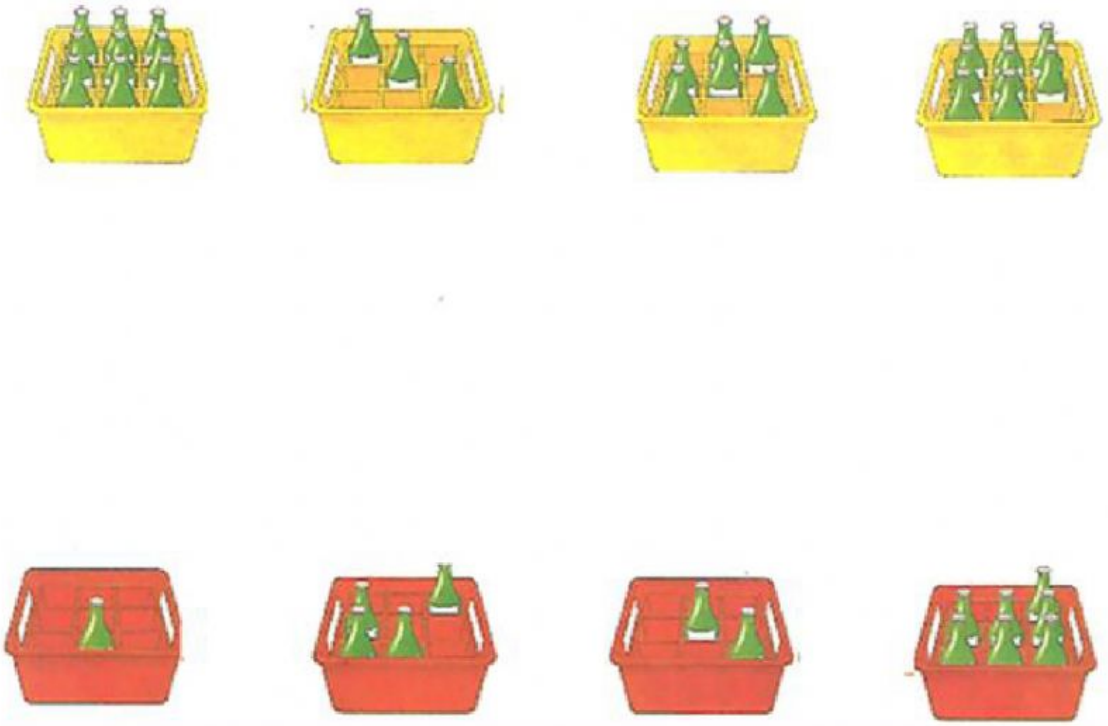

3 ARRASTE 5 FLORES PARA CADA FLOREIRA.

AGORA, CONTE TODAS AS FLORES E COMPLETE.

NO TOTAL HÁ ☐ FLORES OU 1 DEZENA DE FLORES.



LIVEWORKSHEETS