Lembar Kerja Peserta Didik

Nama Siswa : …… **Kelas/Semester: II (Dua)/2**

Nomor Absen: …….. **Sekolah: SDN 016 Bal-Tim**

PPKn

Tanggal: 05 April 2021 3.1 Mengidentifikasi hubungan antara simbol dan sila-sila Pancasila dalam lambang negara "Garuda Pancasila"

Jawablah soal dibawah ini dengan tepat!	**Jawaban:**
1. Keadilan sosial bagi seluruh rakyat Indonesia. Kalimat tersebut merupakan bunyi dari Pancasila sila …	1……
2. Warga bergotong royong dalam bekerja. Hal tersebut menunjukkan mereka hidup …	2……
3. Bunyi sila Pancasila yang memiliki lambang pohon beringin yaitu …	3……
4. Dalam bermusyawarah, kita harus saling …	4……
5. Kerja bakti membersihkan lingkungan dilakukan dengan cara …	5……

Tanggal: 06 April 2021 3.2 Mengidentifikasi aturan dan tata tertib yang berlaku di sekolah

Jawablah soal dibawah ini dengan tepat!	**Jawaban:**
1. Warga masyarakat yang melanggar peraturan akan mendapat … .	1……
2. Sebelum masuk ke rumah teman kita harus …	2……
3. Sebelum bermain hendaknya meminta izin kepada … .	3……
4. Meletakan sepatu di rak sepatu termasuk aturan di … .	4……
5. Anak yang suka membantu memiliki banyak …	5……

Tanggal: 08 April 2021 3.3 Mengidentifikasi jenis-jenis keberagaman karakteristik individu di sekolah

Jawablah soal dibawah ini dengan tepat!	**Jawaban:**
1. Menolong adalah perilaku	1……
2. Edo piket pada hari ini, maka Edo harus datang	2……
3. Bersatu kita teguh bercerai kita …	3……
4. Jika teman kita tertimpa musibah, maka kita harus	4……
5. Kesukaannya dalam keluarga berbeda-beda, tetapi kita harus	5……

Tanggal: 09 April 2021 3.4 Memahami makna bersatu dalam keberagaman di sekolah

Jawablah soal dibawah ini dengan tepat!	**Jawaban:**
1. Hidup rukun itu rasanya …	1……
2. Jika banyak teman kita yang setiap hari bertengkar di kelas, maka suasana kelas menjadi …	2……
3. Jika ada tetangga yang sedang kesusahan maka kita wajib untuk ….	3……
4. Bertengkar ketika ikut musyawarah adalah perbuatan yang …	4……
5. Musyawarah juga dapat dilakukan untuk menyelesaikan …	5……

Bahasa Indonesia

Tanggal: 12 April 2021 3.6 Mencermati ungkapan permintaan maaf dan tolong melalui teks tentang budaya santun sebagai gambaran sikap hidup rukun dalam kemajemukan masyarakat Indonesia

Jawablah soal dibawah ini dengan tepat!	**Jawaban:**
1. Jika berbuat salah kepada teman, kita harus	1.....
2. Saat ada teman yang memberikan pertolongan maka kita perlu mengucapkan	2.....
3. Menolong teman harus dengan sikap yang ...	3.....
4. Contoh ucapan minta tolong yang baik adalah ...	4.....

Tanggal: 13 April 2021 3.8 Menggali informasi dari dongeng binatang (fabel) tentang sikap hidup rukun dari teks lisan dan tulis dengan tujuan untuk kesenangan

*Bacalah penggalan dongeng fabel "**Kelinci yang Cerdik**" berikut untuk menjawab soal!*

Suatu hari, Gajah dan kelompoknya datang ke danau.
Danau itu terletak di tengah hutan. Kedatangan Gajah dan kelompoknya mengganggu ketenangan para Kelinci. Kelompok Kelinci ingin menasehati kelompok Gajah. Akan tetapi, kelompok Kelinci takut menghadapi kelompok gajah. Kelompok Gajah memiliki tubuh beukuran besar.

Jawablah soal dibawah ini dengan tepat!	**Jawaban:**
1. Apa judul dongeng fabel di atas?	1.....
2. Dimanakah letak danau?	2.....
3. Siapakah yang mengganggu kelompok kelinci?	3.....
4. Apa nasihat yang dapat kita ambil dari cerita di atas?	4.....

Tanggal: 15 April 2021 3.9 Menentukan kata sapaan dalam dongeng secara lisan dan tulis

Silanglah jawaban yang paling benar dibawah ini!

1. " Hai belalang, jangan banyak makan ! Rajinlah bekerja !"
kata sapaan dari dialog di atas adalah ...
a. jangan banyak makan ! b. rajinlah bekerja ! c. Hai belalang

2. Kata sapaan pada fabel adalah ...
a. kata yang di gunakan untuk menyapa atau menegur seseorang saat berbicara langsung
b. kata ajakan untuk mengajak seseorang
c. kata menunjukkan menegur kesalahan orang

3. "Maaf tikus tanah, sebenarnya kami ke sini ingin berbicara denganmu," ucap geri. Pada dialog di atas yang termasuk kata sapaan adalah ...
a. maaf tikus tanah b. ingin berbicara denganmu c. maaf

4. Bagai mana cara menentukan kata sapaan dalam fabel ?
a. membaca fabel secara saksama b. membaca dengan cepat c. membaca intinya saja

Tanggal: 16 April 2021 3.10 Mencermati penggunaan huruf kapital (nama Tuhan nama orang, nama agama) serta tanda titik dan tanda tanya dalam kalimat yang benar

Jawablah soal dibawah ini dengan tepat!	**Jawaban:**
1. Menulis nama Tuhan, nama orang, nama agama, nama kota, bulan dan hari harus diawali dengan huruf	1.....
Sempurnakan kalimat di bawah ini dengan penggunaan huruf kapital yang benar! 2. *udin sedang bermain bersama dayu di taman*	2.....
3. ayah ahmad membeli sapi pada hari selasa	3.....
4. ahmad dan teman-temannya upacara pada hari senin	4.....

Matematika

Tanggal: 19 April 2021 3.6 Menjelaskan dan menentukan panjang (termasuk jarak), berat, dan waktu dalam satuan baku, yang berkaitan dengan kehidupan sehari-hari

Jawablah soal dibawah ini dengan tepat!

1. Perhatikan gambar jam dibawah ini

Gambar jam menunjukkan pukul...

2. Perhatikan gambar jam dibawah ini

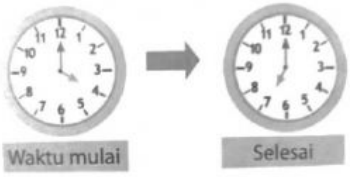

Lama kegiatan pada gambar tersebut adalah..... Jam

3. 25 ons + 15 ons = ...ons =.....kg

4. 250 cm - 50 cm =.....cm = ...m

Tanggal: 20 April 2021 3.7 Menjelaskan pecahan 1/2, 1/3 , dan 1/4 menggunakan benda-benda konkret dalam kehidupan sehari-hari

Perhatikan gambar di bawah ini!

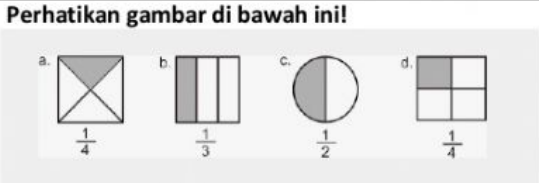

Kemudian isilah titik-titik dibawah ini!

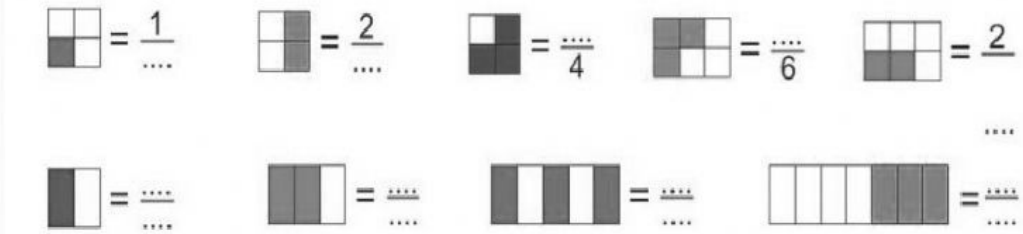

Seni Budaya dan Prakarya

Tanggal: 22 April 2021 3.1 Mengenal karya imajinatif dua dan tiga dimensi

Silanglah jawaban yang paling benar dibawah ini!

1. Seni lukis merupakan karya seni ....
a. Cetak b. Batik c. Rupa

2. Dalam karya 3 dimensi terdapat unsur rupa ....
a. Warna, bidang, garis b. Gelap terang, dan bidang c. Panjang dan lebar

3. Dibawah ini yang termasuk dari contoh benda 2 dimensi yaitu ....
a. Gambar dan lukisan b. Bola dan kain c. Patung dan guci

4. Dibawah ini yang termasuk dari contoh benda 3 dimensi yaitu ....
a. Gambar dan lukisan b. Bola dan kain c. Patung dan guci

Tanggal: 23 April 2021 3.2 Mengenal pola irama sederhana melalui lagu anak-anak

Silanglah jawaban yang paling benar dibawah ini!
1. Bunyi benda terbagi menjadi beberapa macam, salah satunya ada yang tinggi dan ....
a. Rendah c. Tinggi b. Cepat

2. Irama musik terbentuk dari ....
a. Tinggi rendah b. Panjang pendek c. Cepat pelan

3. Melodi merupakan unsur bunyi yang terbentuk dari .... nada.
a. Cepat pelan b. Panjang pendek c. Tinggi rendah

4. Nada yang ditulis dengan angka disebut...
a. not b. not balok c. not angka

Tanggal: 26 April 2021 3.3 Mengenal gerak keseharian dan alam dalam tari

1. Menggerakkan badan secara sederhana disebut dengan ....
a. Menyanyi b. Menari c. Berdansa

2. Udara yang bergerak disebut ...
a. gemerisik b. angin c. gemuruh

3. Berikut yang **bukan** gerakan matahari adalah ...
a. Menyinari bumi b. Bergoyang c. Memancarkan sinar

4. Berikut merupakan gerakan matahari adalah ..
a. Turun dari langit b. Menyinari tanaman c. Berkibar

Tanggal: 27 April 2021 3.4 Mengenal pengolahan bahan alam dan buatan dalam berkarya

1. Kunyit dapat menghasilkan warna ...
a. Hijau b. biru c. kuning

2. Benda berikut yang **tidak** diwarnai dengan pewarna alam adalah ...
a. Kain songket b.Meja tenis c.Wayang

3. Berikut yang tidak termasuk pewarna alam adalah ...
a. Indigo b. Cat air c. Jelaga

4. Benda berikut yang diwarnai dengan pewarna alam adalah ...
a. Kain batik b. Kain songket c. Topeng

PKLH

Tanggal: 29 April 2021

evaluasi

Jawablah pertanyaan di bawah ini!

1. Termasuk hewan peliharaan misalnya . . . .
2. Agar sehat, hewan peliharaan harus . . . .
3. Jika kamu menemukan hewan yang terluka tindakanmu adalah . . . .
4. Pemupukan pada tanaman berfungsi untuk . . . .
5. Penyiraman pada tanaman dapat dilakukan dua kali yaitu pada . . . .
6. Contoh hewan yang yang ada di KRB adalah . . . .
7. Bekantan mempunyai ciri khusus yaitu . . . .
8. Di Balikpapan beruang madu dapat ditemukan di . . . .
9. Bunganya berwarna hijau dan berlidah hitam adalah ciri tanaman . . . .
10. Bawang tiwai bermanfaat sebagai . . . .

Scanned with CamScanner

Tanggal: 30 April 2021

Isilah titik-titik di bawah ini dengan jawaban yang benar!

1. Menjaga keselamatan di perjalanan sangat banyak bentuknya, salah satu contohnya adalah . . . .
2. Agar tidak tersesat dalam perjalanan, kita bisa melihat . . . .
3. Kegiatan membersihkan lingkungan yang dilakukan secara gotong royong oleh seluruh warga masyarakat disebut . . . .
4. Apa yang harus kita gunakan saat menggunakan kendaraan bermotor . . . .
5. Jika cuaca terik matahari yang kamu gunakan . . . .
6. Di mana kamu membuang sampah di sekolah . . . .
7. Alat yang digunakan untuk menutup hidung bila berkendaraan adalah . . . .
8. Polisi lalu lintas mengatur kendaraan di . . . .
9. Bungas membersihkan halaman sekolah menggunakan . . . .
10. Untuk melindungi tubuh agar tidak basah saat hujan kita menggunakan . . . .

Scanned with CamScanner