CADERNO
M0101

GOVERNO DO ESTADO DE SÃO PAULO
SECRETARIA DE EDUCAÇÃO

CAEd UFJF

AVALIAÇÃO DIAGNÓSTICA DE ENTRADA

2021

MATEMÁTICA **1º ano do Ensino Fundamental**

Nome da Escola _____

Nome do Aluno _____

Data ____/____/____ Turma _____

LIVEWORKSHEETS

01) (M010662H6) Observe abaixo a quantidade de chapéus que quatro amigos têm.



MARA



JOANA



CARLOS



LUCAS

Qual desses amigos tem a maior quantidade de chapéus?

A CARLOS.

B JOANA.

C LUCAS.

D MARA.

02) (M030140I7) Gustavo e Lucas jogam no mesmo time de futebol. Em uma partida, Gustavo fez 5 gols e Lucas fez 7 gols.
Quantos gols Gustavo e Lucas fizeram ao todo nessa partida?

A 2

B 5

C 11

D 12

LIVEWORKSHEETS

03) (M010716H6) Observe abaixo o desenho de uma capa de celular que Tiago comprou.



A forma dessa capa de celular lembra qual figura geométrica?

A 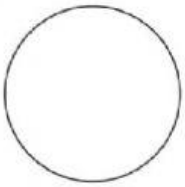

B 

C

D 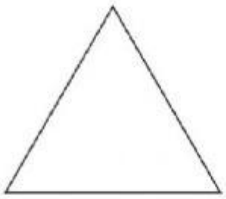

04) (M020484I7) Observe os bancos abaixo.

I II III IV

Qual desses bancos é o mais baixo?

A I

B II

C III

D IV

LIVEWORKSHEETS

05) (M010605H6) Observe abaixo os livros que a professora Flora tem na prateleira.



Quantos livros a professora Flora tem, ao todo, nessa prateleira?

A 6

B 7

C 8

D 9

06) (M02032017) Qual desses celulares é o maior?

A

B

C 

D

LIVEWORKSHEETS

07) (M011109H6) Observe abaixo o desenho de um par de brincos.

A forma desse par de brincos lembra qual figura geométrica?

A 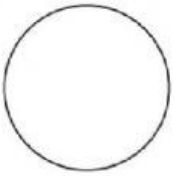

B

C 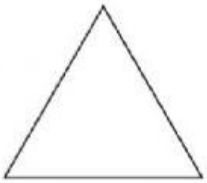

D 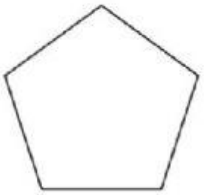

08) (M020486I7) Observe, na imagem abaixo, os horários das atividades que Marcela, Ana e Paula fizeram ao longo do dia.

8 HORAS	10 HORAS	11 HORAS	13 HORAS	14 HORAS

De acordo com essa imagem, o que Marcela, Ana e Paula fizeram depois das 13 horas?

A

B

C

D

LIVEWORKSHEETS

09) (M02028717) Observe abaixo o desenho de uma lata de chá.

A forma dessa lata de chá lembra qual figura geométrica?

A 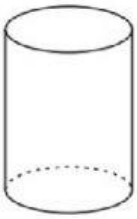

B 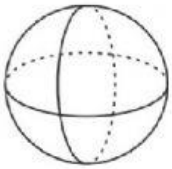

C 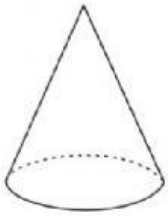

D 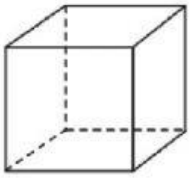

10) (M01014817) Observe, no cesto abaixo, os ovos que Janete comprou.

Quantos ovos, ao todo, Janete comprou?

A 3

B 4

C 5

D 6

LIVEWORKSHEETS

11) (M01038817) Observe abaixo os animais em uma floresta.

Qual é o animal que está mais perto do coelho?

A

B

C

D

12) (M01017117) Observe abaixo a quantidade de flores que quatro amigas levaram para a professora.

	
CAMILA	**MARIANA**
GISELE	**LARISSA**

Qual dessas amigas levou a menor quantidade de flores?

A CAMILA.

B GISELE.

C LARISSA.

D MARIANA.

LIVEWORKSHEETS

13) (M010075G5) Observe abaixo o desenho de alguns pintinhos.



Quantos pintinhos há, no total, nesse desenho?

A 5

B 6

C 7

D 9

14) (M020370E4) João levou uma bola para a escola. Na aula de Matemática, ele observou que a bola tinha o mesmo formato de um dos sólidos que estavam na mesa do professor. Observe abaixo.



A bola lembra a forma de qual sólido que está nessa mesa?

A

B

C

D

LIVEWORKSHEETS

15) (M011101H6) Observe abaixo a quantidade de laranjas que quatro irmãos colheram em um pomar.



Qual desses irmãos colheu a maior quantidade de laranjas?

A SILVIO.

B SAMUEL.

C RICARDO.

D RAMON.

16) (M010026I7) Observe abaixo os objetos no desenho da cozinha de Lucas.

Qual é o objeto que está mais próximo da torneira?

A

B

C

D

LIVEWORKSHEETS