LİVE WORKSHEETS ÇALIŞMA SAYFASI

EKSİK OLAN RAKAMLARI TAMAMLA

1	2	3	4		6		8	9	10

Şekilleri doğru eşleştir.



Aşağıdaki toplama işlemlerini yapınız

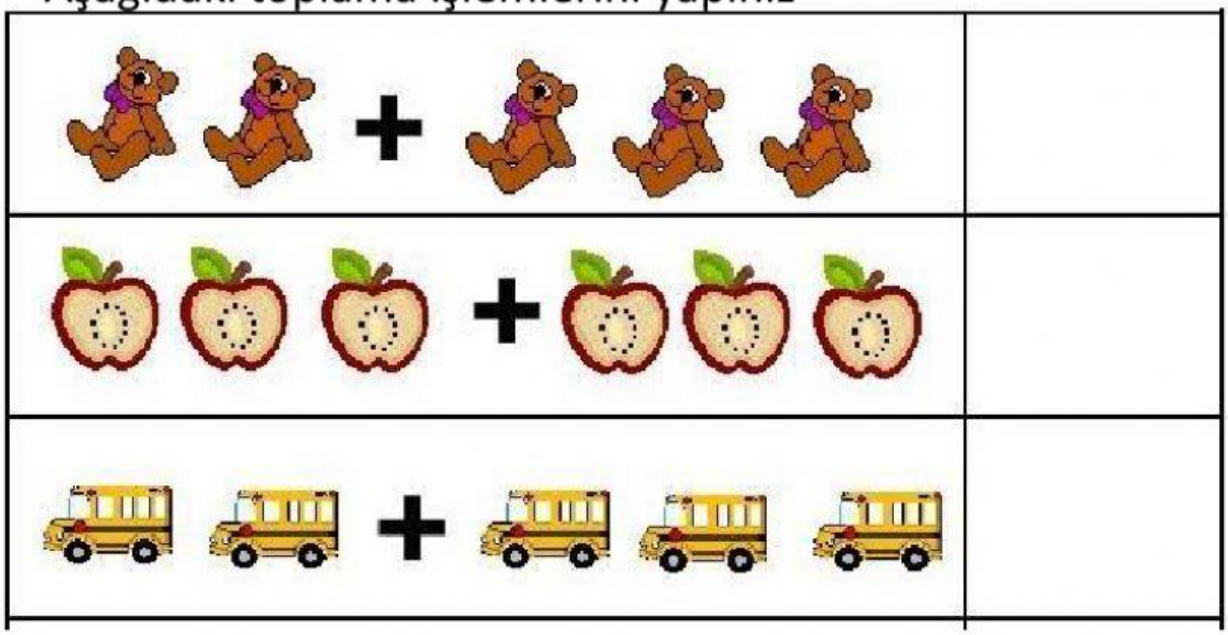

LIVEWORKSHEETS

AÇILIR KUTU İŞLEMLERİ

Aşağıdaki boşlukları doldur

BİSE	.....
LÜK	.....
T İZY	.....

Aşağıdaki örüntüyü tamamla



LIVEWORKSHEETS

Doğru olan seçeneğiişaretle.

Hangisi toplu taşıma aracı değildir? İşaretleyiniz.

☐ ☐ ☐ ☐ ☐

Hangisi motorlu taşıt değildir? İşaretleyiniz.

☐ ☐ ☐ ☐ ☐

Çoktan seçmeli sorular

1- Aşağıdakilerden hangisi ülkemizin haritasıdır?

A.

B.

C.

3- Aşağıdakilerden hangisi geri dönüşüm kutusuna atılmaz?

A.

B.

C.

LIVEWORKSHEETS