TRUPMENOS

1. **Parašyk trupmeną, kuri rodo kiekvienos figūros subrūkšniuotą dalį.** **4 t.** ☐

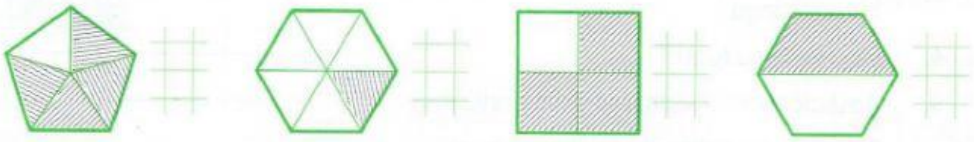

2. **Palygink trupmenas.** **4 t.** ☐

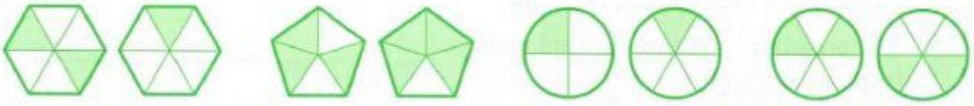

$\frac{2}{6}$ ☐ $\frac{1}{6}$ $\frac{3}{5}$ ☐ $\frac{4}{5}$ $\frac{1}{4}$ ☐ $\frac{1}{6}$ $\frac{2}{6}$ ☐ $\frac{2}{6}$

3. **Pavaizduok nurodytas trupmenas.** **3 t.** ☐

$\frac{4}{6}$

$\frac{2}{3}$

$\frac{7}{8}$

4. **Parašyk, kokias trupmenas dengia lapeliai.** **2 t.** ☐

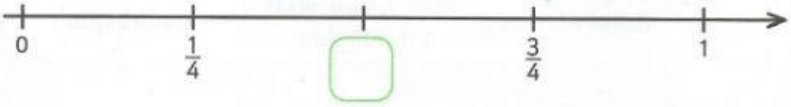

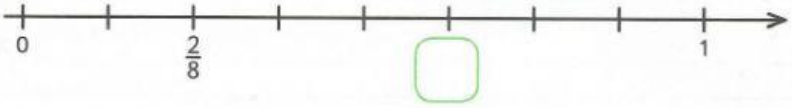

LIVEWORKSHEETS

5. **Žodžiais užrašytą trupmeną pavaizduok trimis būdais.** **3 t.**

Viena ketvirtoji



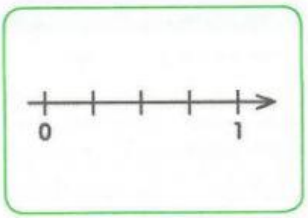

6. **Paveikslėliuose pateikta prekių kaina prieš atpiginimą.** **4 t.**
Atpigintų šių prekių kaina sumažėjo $\frac{1}{7}$ pradinės kainos.
Suskaičiuok, keliais eurais atpigo kiekviena prekė.

14 Eur	21 Eur	7 Eur	70 Eur

7. **Kiekvienoje schemoje nurodyta, kam lygi viena skaičiaus dalis.** **4 t.**
Rask visą skaičių.

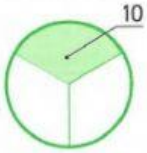

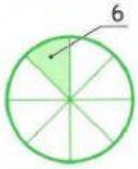

LIVEWORKSHEETS

8. Nuo Izoldos namų iki Kaziuko mugės yra 42 km. $\frac{1}{6}$ šio kelio Izolda jau nuvažiavo. Kiek kilometrų Izolda jau nuvažiavo? 2 t.

9. Kaziuko mugės teritorijos ilgis 16 km. $\frac{1}{8}$ šio ilgio skirta prekybai medžio dirbiniais, o kita dalis – kitoms prekybos zonoms. Kiek kilometrų skirta kitoms prekybos zonoms? 4 t.

LIVEWORKSHEETS

Apmąstau ir įsivertinu kiekvieną atliktą užduotį.

Užd. nr.	GEBĖJIMAS	☹ ☺
1.	Parašiau trupmenas.	
2.	Palyginau trupmenas.	
3.	Pavaizdavau trupmenas.	
4.	Įrašiau tinkamas trupmenas.	
5.	Skirtingais būdais pavaizdavau trupmeną.	
6.	Radau skaičiaus dalį, kai žinomas visas skaičius.	
7.	Radau visą skaičių, kai žinoma jo dalis.	
8.	Išsprendžiau uždavinį su trupmena.	
9.	Išsprendžiau dviejų žingsnelių uždavinį su trupmena.	

Galėjai surinkti 30 taškų. Surinkai _____.

0–9 taškai	10–17 taškų	18–28 taškai	29–30 taškų
Man reikia pagalbos!	Atkreipsiu dėmesį į tai, ką būtina išmokti!	Man sekasi gerai! Pagalvosiu, kaip galėčiau pasiekti dar daugiau.	Mano pasiekimai puikūs. Šauniai padirbėjau!

KOMENTARAI:

LIVEWORKSHEETS