Nama Lengkap :

Kelas :

Ayo Berlatih

Pasangkanlah bilangan pecahan yang sesuai dengan pecahan yang menunjukkan banyak buku yang bertanda X pada tumpukan buku berikut ini!

$\frac{1}{4}$

$\frac{1}{3}$

$\frac{1}{2}$

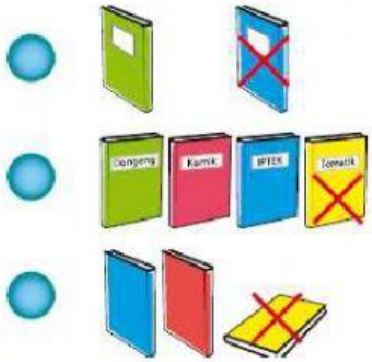

Ayo Mencari Tahu

Isilah titik-titik di bawah ini dengan pecahan yang tepat! Misal: 1/2

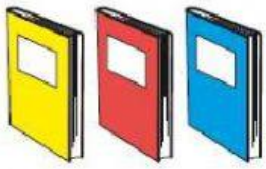

Buku yang berwarna biru dapat dinyatakan dengan pecahan ....



Buku yang disusun berdiri dapat dinyatakan dengan pecahan ....

Andi mengambil sebuah bola. Sebuah bola dari kumpulan di samping dapat dinyatakan dengan pecahan ....

LIVEWORKSHEETS