7 Per dieną kepykla iškepa 136 kg pyragų. Kiek kilogramų pyragų ji iškepa per 7 dienas?



8 Apskaičiuok.

$330 \times 3 = \square$ $\quad 152 \times 4 = \square$ $\quad 125 \times 3 = \square$ $\quad 128 \times 3 = \square$ $\quad 247 \times 2 = \square$ $\quad 119 \times 4 = \square$

9 Pagal lentelėje pateiktus duomenis nubraižyk diagramą.

Paukštis	Baltasis gandras	Juodasis gandras	Gervė	Garnys
Jo masė (kg)	4	3	5	2



Sunkiausias paukštis yra .....,

lengviausias – .....

10 Stačiakampio perimetrą apskaičiuok dviem būdais.



1 būdas	*2 būdas*
(.....)	(.....)

Teisingai atlikęs visas užduotis, galėjai surinkti 30 riešutėlių.

Tavo krepšelyje yra .

Įvertinimas .....

LIVEWORKSHEETS