Valor Posicional

Nombre:_____

1. Observa y escribe en cifras el número que se representa en el ábaco.

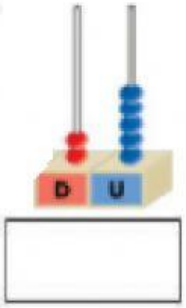

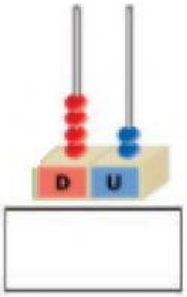

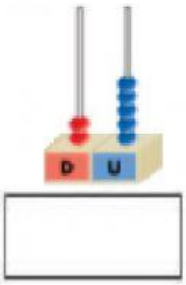

2. Une con una línea según corresponda.

3D + 4U	diecinueve
2D + 9U	treinta y cuatro
3D +5U	veintinueve
1D + 9U	treinta y cinco

LIVEWORKSHEETS

3. Observa la descomposición y escribe el número en cifras.

4D + 5U = ____

2D+ 4U = ____

3D + 8U = ____

3D + 9U = ____

4. Descomponer. Escribe la descomposición de los números según el valor posicional.

35	+	30	+	5
28	+		+	
16	+		+	
39	+		+	

LIVEWORKSHEETS