DESAFÍOS MATEMÁTICOS

Realiza lo que te pide en cada uno de los desafios.

1. **Completa los círculos con un número del 1 al 4, de tal forma que: los números no se repitan en una fila, columna, ni en los círculos unidos por las líneas.**

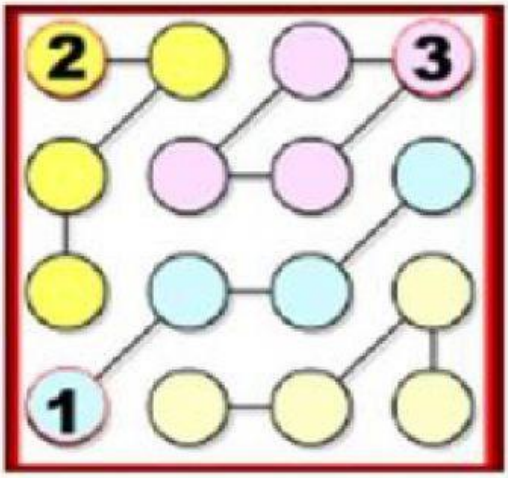

2. **Forma palabras matemáticas. Las letras deben de estar unidad por líneas.**

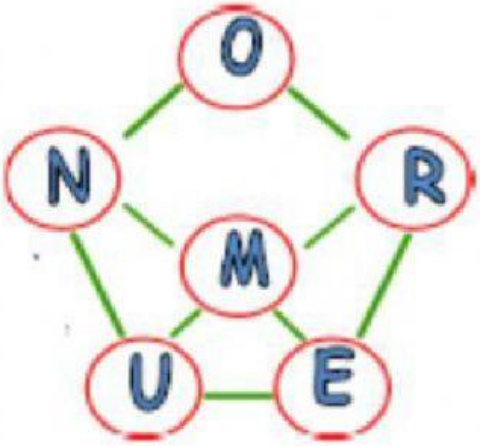

De 3 letras: _____

De 5 letras: _____

De 6 letras: _____

LIVEWORKSHEETS

DESAFÍOS MATEMÁTICOS

3. ¿Cuál es el número total de triángulos que tiene la figura?
R: _____

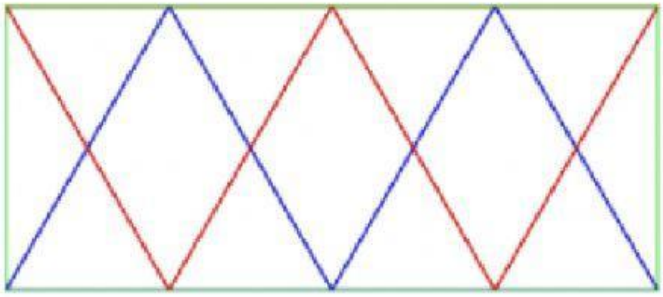

4. Completa el cuadrado mágico, de tal manera que en forma horizontal, vertical y diagonal sumen 36.

	12	
15		13

LIVEWORKSHEETS