COGNOME_____NOME_____DATA_____

Verifica di Geografia, Classe I

Monti, ghiacciai, vulcani e colline

1) **Completa** il testo inserendo le **parole** corrette.

Una montagna è un rilievo con un'altitudine superiore ai …….. m s. l. m: si forma per effetto dello ……tra due placche e questo processo si chiama ……..Le montagne possono continuare a …… per effetto dello stesso movimento che le ha formate, ma anche diminuire a causa dell'…… dovuta ai corsi d'acqua, ai …….. e agli …… …….. Infatti, le montagne più antiche presentano una forma …….. e generalmente una …….. altitudine rispetto a quelle più recenti.

Al di sopra dei …….. la vegetazione montana diventa composta da arbusti e pascoli, mentre al di sopra dei 3000 m si formano i …….

……/12

2) **Fornisci le definizioni** dei seguenti elementi.

Valle a U……

Valle a V……...

Ghiacciaio……

……

Vulcano……

……....

……/8

LIVEWORKSHEETS

3) **Osserva l'immagine** e **inserisci** il termine corretto, scegliendo tra quelli sottostanti

ZONA DI ALIMENTAZIONE – LINGUA – FRONTE – MORENE – CREPACCI

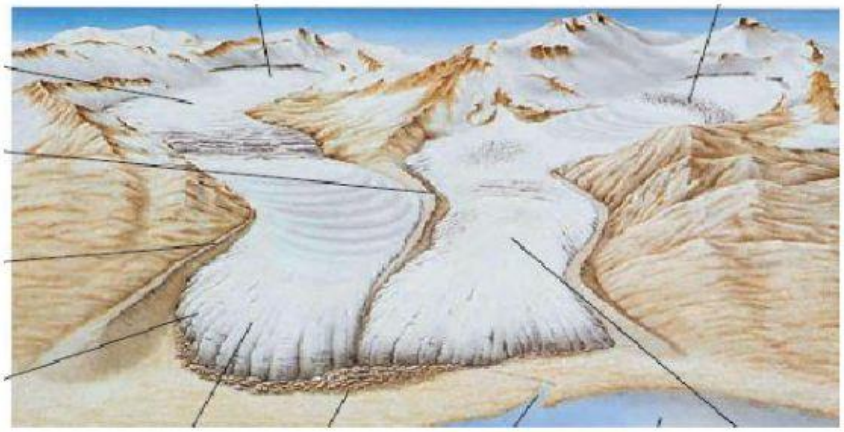

……/5

4) **Osserva l'immagine** e **inserisci** il termine corretto, scegliendo tra quelli sottostanti

CAMERA MAGMATICA – CAMINO VULCANICO – CRATERE – CONO VULCANICO

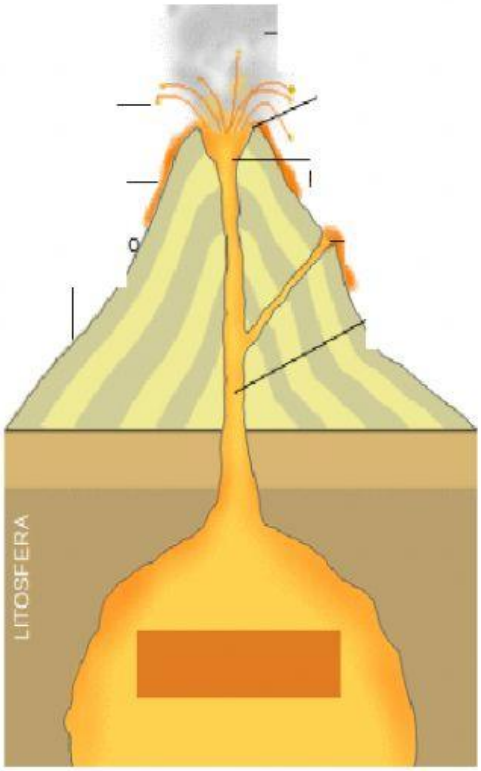


……./4

LIVEWORKSHEETS

5) **Riporta nei quadratini** il numero del monte, della collina o della catena corrispondenti

1. Monte Bianco
2. Aspromonte
3. Gennargentu
4. Gran Sasso
5. Etna
6. Dolomiti
7. Monferrato
8. Colli Albani

...../8

LIVEWORKSHEETS

6) **Riporta nei quadratini** il numero del monte, delle colline o della catena corrispondenti

1. Sierra Nevada
2. Caucaso
3. Alpi
4. Appennini
5. Pirenei
6. Carpazi
7. Balcani
8. Urali
9. Monti Grampiani (Monti Gran Bretagna)
10. Monti Scandinavi
11. Ardenne
12. Rialto Centrale

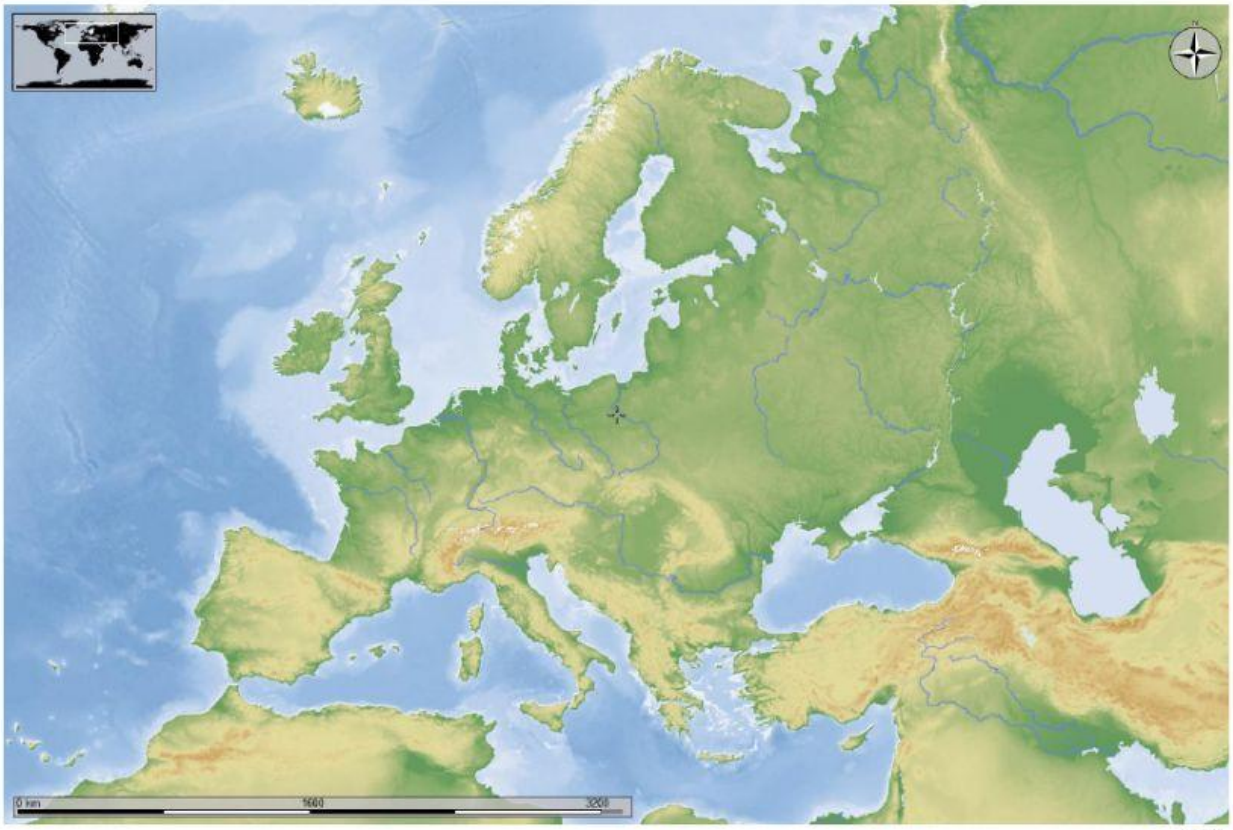

...../12

LIVEWORKSHEETS

7) **Scrivi nel riquadro V** se l'affermazione è vera e **F** se l'affermazione è falsa; **correggi** le affermazioni errate nello spazio sottostante.

1. Un rilievo più basso è sempre più antico di un rilievo più alto.

.....

2. Magma e lava hanno la stessa composizione chimica.

.....

3. Un vulcano è spento solo se la sua camera magmatica è vuota.

.....

4. I rilievi della fase Ercinica sono più antichi dei rilievi della fase Caledoniana.

.....

5. La maggior parte dei vulcani è collocato ai confini delle placche.

.....

6. Le colline di origine strutturale si formano per l'erosione dei rilievi montuosi.

.....

7. Le colline tettoniche si alzano isolate su un territorio pianeggiante.

.....

8. Le colline vulcaniche sono disposte a catene.

9. Il territorio italiano è coperto per il 40% da colline.

.....

10. Nel nord Europa le colline erano per lo più antiche montagne.

.....

...../10

LIVEWORKSHEETS

LIVEWORKSHEETS