تلميذتي المبدعة((اجبتك دليل تفوقك))

هيا ساعدي فاطمه

نشاط ختامي

صل بين المخطط والعدد الكسري الذي يمثله.

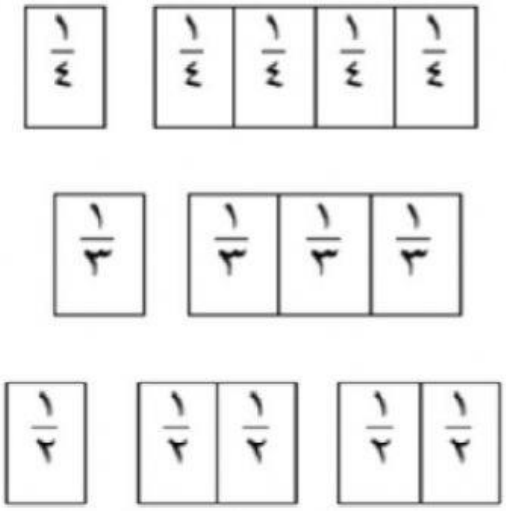

$\frac{٥}{٢}$ $\frac{٤}{٣}$ $\frac{٥}{٣}$ $\frac{٥}{٤}$

ضع كل عدد كسري في مكانه المناسب على خط الأعداد

$٢\frac{٣}{٨}$ $١\frac{١}{٢}$ $٢\frac{٣}{٤}$

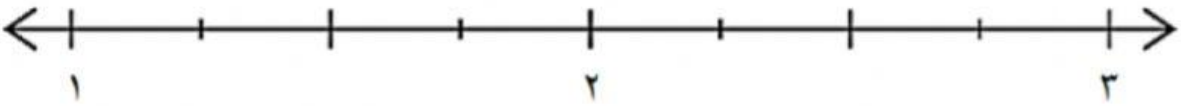

اليك أربعة اعداد $\frac{١}{٢}$ $٣\frac{٨}{١٦}$ $٨\frac{١}{٤}$ $\frac{٥}{٣}$

أكتب كل رقم في المربع الصحيح على خط الأعداد (لن تحتاج إلى جميع المربعات)

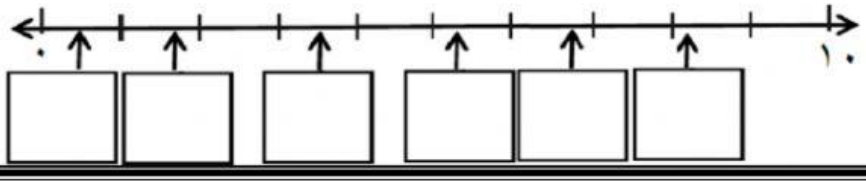

LIVEWORKSHEETS

ارسُم خط أعدادٍ من ٠ إلى ٣ وضَع عليه الأعداد الكسرية الآتية.

$١\frac{١}{٤}$ $٢\frac{١}{٢}$ $٢\frac{٣}{٤}$ $١\frac{٣}{٨}$ $١\frac{٧}{٨}$ $٢\frac{١}{٨}$



LIVEWORKSHEETS