EVALUACIÓN DE DIMENSIÓN COGNITIVA

Matemáticas 104

Lee con atención cada enunciado, al final le das terminar para ver cuál fue tu resultado.

1. Observa las regletas ordenadas en forma ascendente y responde las preguntas usando los nombres de las regletas (colores en minúscula) o los números del 0 al 10 de acuerdo con el tipo de pregunta que se te hace.

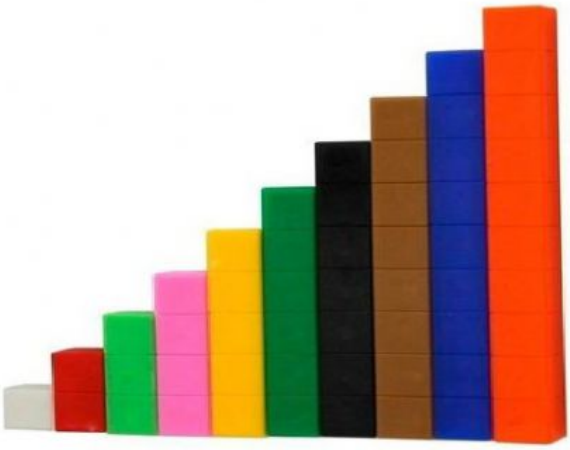

Naranja
Azul
café
negra
Verde oscura
amarilla
Rosada
verde
roja
blanca

¿cuál es la regleta anterior a la roja?	
¿cuál es la regleta siguiente a la verde oscura?	
¿cuántas regletas hay entre la rosada y la café?	
¿cuántas regletas hay después de la negra?	
¿cuáles regletas están entre la verde y la amarilla?	

Profesora: María Andrea Torres Aldana

LIVEWORKSHEETS

EVALUACIÓN DE DIMENSIÓN COGNITIVA

Matemáticas 104

2. Responde cada pregunta, eligiendo el dibujo correcto

¿cuál es más largo?

1.

2.

¿cuál es más corto?

1.

2.

¿cuál es más alto?

1. 2.

¿cuál es más gordo?

1. 2.

3. Observa los números del 1 al 5 y responde las preguntas

1 2 3 4 5

¿cuál es el anterior al 3?	
¿cuál es el número siguiente al 4?	
¿cuáles números hay entre 1 y 3?	
¿cuántos números hay después del 2?	
¿cuántos números hay antes del 3?	

Profesora: María Andrea Torres Aldana

LIVEWORKSHEETS

EVALUACIÓN DE DIMENSIÓN COGNITIVA

Matemáticas 104

4. Vamos a comparar las dos regletas, eligiendo mayor, menor o igual, de acuerdo con la opción correcta.

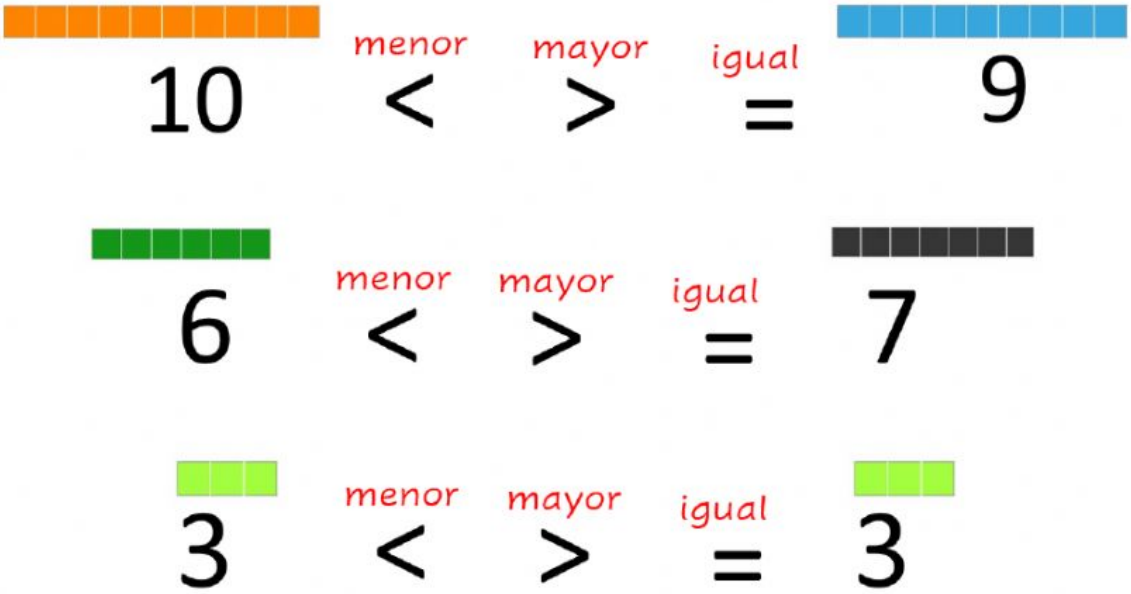

5. Se pregunto a los niños de primero sobre su mascota preferida. Observa el gráfico y contesta las preguntas

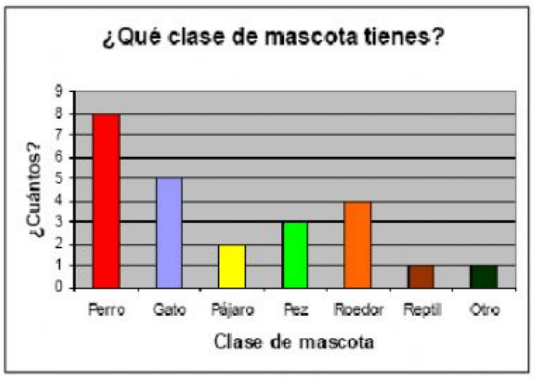

1. ¿cuál la mascota que más prefieren los niños de primero?	
2. ¿cuál es la mascota que prefieren tan solo 3 niños de primero?	

Profesora: María Andrea Torres Aldana

LIVEWORKSHEETS