LKM

Petualangan Seru Mengenal Bangun Datar!



Nama : _____

Kelas : _____

Kelompok : _____

LIVEWORKSHEETS

Identitas LKM



Satuan Pendidikan	:	SDN 12 Padang Besi
Mata Pelajaran	:	Matematika
Fase / Kelas	:	A / I
Elemen	:	Geometri
Materi	:	Mengenal Bentuk Bangun Datar
Alokasi Waktu	:	2 × 35 menit

Capaian Pembelajaran (CP)



Mengenal berbagai bangun datar (segitiga, segiempat, segi banyak, lingkaran).

Tujuan LKM

Setelah mengerjakan LKM ini, kamu diharapkan dapat:

- Menyebutkan nama-nama bangun datar.
- Mengelompokkan bangun datar dengan benar.
- Menemukan contoh bangun datar di sekitar kita.
- Menjawab pertanyaan dengan percaya diri.

LIVEWORKSHEETS

Petunjuk Kerja

Ikuti langkah-langkah berikut dengan baik, ya!

1. Bacalah setiap petunjuk dengan teliti.



2. Amati gambar dan benda yang tersedia.



3. Gunakan media AR dengan bimbingan guru.



4. Kerjakan setiap kegiatan bersama kelompok.



5. Cocokkan dan kelompokkan gambar sesuai bentuknya.

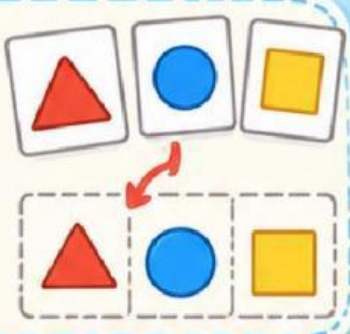

6. Periksa kembali jawabanmu.



Semangat Belajar, ya!

LIVEWORKSHEETS

Misi 1:
Ayo, Amati Benda di Sekitarmu!

Halo, penjelajah kecil!
Lihatlah benda-benda di bawah ini.
Setiap benda memiliki bentuk yang berbeda.
Yuk, amati dengan teliti!









Jawablah pertanyaan berikut!

1. Benda manakah yang bentuknya bulat? _____
2. Benda manakah yang memiliki tiga sisi? _____
3. Benda manakah yang memiliki empat sisi? _____
4. Apakah semua benda memiliki bentuk yang sama? _____



LIVEWORKSHEETS

Misi 2: Kenali Bentuknya!

Yuk, kenali empat bangun datar yang akan kita pelajari!



Segitiga

Memiliki 3 sisi dan 3 titik sudut.



Persegi

Memiliki 4 sisi sama panjang dan 4 titik sudut.



Persegi Panjang

Memiliki 4 sisi dan 4 titik sudut.



Lingkaran

Berbentuk bulat dan tidak memiliki titik sudut.



Aktivitas:

Tuliskan nama bangun datar di bawah gambar yang sesuai!



LIVEWORKSHEETS

Misi 3:
Jelajahi Bentuk dengan AR!

Wah, sekarang kamu menjadi penjelajah bentuk!
Amati bangun datar melalui media AR
bersama guru dan teman kelompokmu.

Langkah Petualangan:

1. Scan QR Code media AR dengan bantuan guru.
2. Amati bentuk segitiga.
3. Amati bentuk persegi.
4. Amati bentuk persegi panjang.
5. Amati bentuk lingkaran.
6. Perhatikan jumlah sisi dan titik sudut setiap bentuk.

Scan di Sini!





Ayo, catat hasil pengamatanmu!

Bentuk	Jumlah Sisi	Jumlah Titik Sudut
Segitiga	.....	.....
Persegi	.....	.....
Persegi Panjang	.....	.....
Lingkaran	.....	.....

LIVEWORKSHEETS

Misi 4: Pasangkan dengan Tepat!

Ayo, hubungkan benda dengan bentuk bangun datar yang sesuai!













- Segitiga
- Persegi
- Persegi Panjang
- Lingkaran

Ayo, belajar dengan semangat!

LIVEWORKSHEETS

Misi 5: Kelompokkan Benda!

Wah, banyak benda yang bercampur!
Yuk, bantu kelompokkan benda-benda tersebut berdasarkan bentuk bangun datarnya!

Benda-benda yang Tersedia:



Petunjuk Kegiatan:

1. Amati gambar benda yang tersedia.
2. Perhatikan bentuk setiap benda.
3. Kelompokkan benda sesuai bentuknya.
4. Tempelkan gambar pada kotak yang sesuai.

Kelompok Segitiga

Tempelkan benda berbentuk segitiga!

Kelompok Persegi

Tempelkan benda berbentuk persegi!

Kelompok Persegi Panjang

Tempelkan benda berbentuk persegi panjang!

Kelompok Lingkaran

Tempelkan benda berbentuk lingkaran!

Ayo, selesaikan misinya!

LIVEWORKSHEETS

Misi 6: Detektif Bentuk!

Hebat! Kamu telah mengelompokkan benda. Sekarang, ayo periksa kembali apakah benda-benda tersebut sudah berada di kelompok yang tepat!

Kegiatan 1: Beri tanda centang (✓) pada benda yang memiliki bentuk sesuai!

Segitiga	Persegi	Persegi Panjang	Lingkaran
			
☐	☐	☐	☐

Kegiatan 2: Ayo, pilih jawaban yang tepat!

1. Segitiga memiliki ... sisi.
   ○ 2 ○ 3 ○ 4



2. Persegi memiliki ... sisi yang sama panjang.
   ○ 2 ○ 3 ○ 4



3. Lingkaran memiliki titik sudut ...
   ○ 0 ○ 2 ○ 4



4. Bentuk permukaan buku biasanya menyerupai ...
   ○ Segitiga ○ Persegi Panjang ○ Lingkaran





Ayo, periksa lagi hasilnya!

LIVEWORKSHEETS

Misi 7: Aku Hebat!

Wah, hebat sekali! Kamu telah menyelesaikan petualangan mengenal bangun datar. Yuk, ingat kembali apa yang telah kita pelajari!

Ayo, lengkapi kesimpulan berikut!

1. Bangun datar yang memiliki 3 sisi adalah _____.
2. Bangun datar yang memiliki 4 sisi sama panjang adalah _____.
3. Bangun datar yang memiliki 4 sisi dan 4 titik sudut adalah _____.
4. Bangun datar yang berbentuk bulat dan tidak memiliki titik sudut adalah _____.



Ayo, refleksi!

Hari ini aku belajar:

- Segitiga
- Persegi
- Persegi Panjang
- Lingkaran

Bagaimana perasaanmu saat belajar hari ini?

 Senang!

 Biasa saja

 Belum paham

Bentuk yang paling mudah aku kenali adalah:

_____

Bentuk yang masih ingin aku pelajari adalah:

_____

Teruslah mengamati, karena banyak bentuk menarik yang dapat kita temukan di sekitar kita!

LIVEWORKSHEETS