LKPD

Daur Hidup Kupu-Kupu



Nama: .....

Kelas: .....

LIVEWORKSHEETS

IPAS KELAS 3 FASE B

Nama: _____

Kelas: _____ Nomor Absen: _____

Penilaian:

Nilai: _____ Paraf: _____

SIKLUS MAKHLUK HIDUP: KUPU-KUPU

Jawablah pertanyaan-pertanyaan berikut ini dengan benar!




Fase
telur kupu-kupu


Fase
ulat atau larva


Fase
kepompong


Fase
kupu-kupu dewasa

1. Sebutkan urutan siklus hidup kupu-kupu!

_____

2. Apa nama tahap setelah telur menetas?

_____

3. Apa yang terjadi pada tahap kepompong?

_____

4. Mengapa kupu-kupu disebut metamorfosis sempurna?

_____

LIVEWORKSHEETS

Metamorfosis Kupu-Kupu

Guntinglah dan tempelkan gambar pada kotak yang sesuai dengan urutan metamorfosis kupu-kupu!

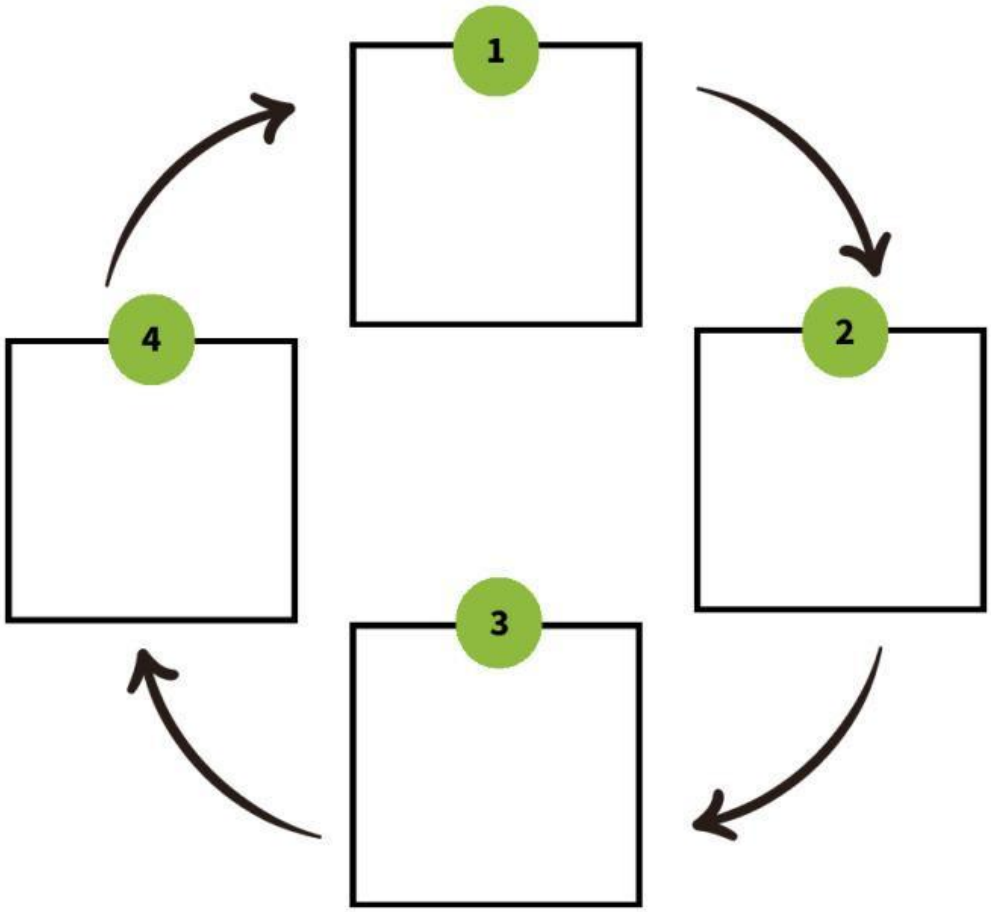

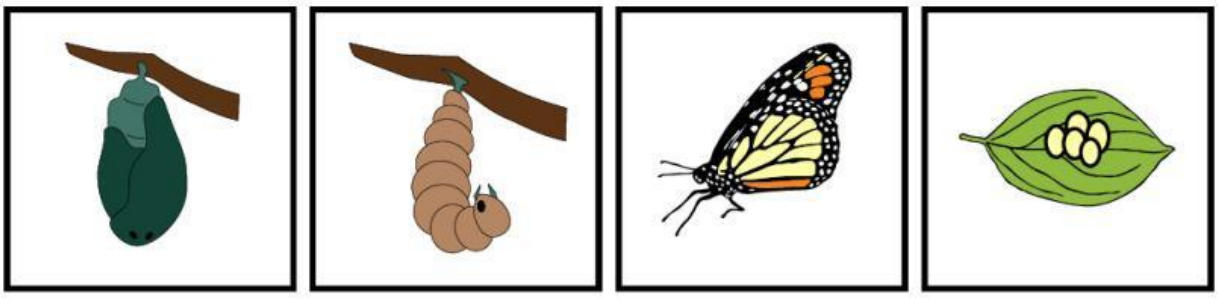

LIVEWORKSHEETS

Metamorfosis

Hubungkan gambar di bawah ini sesuai dengan urutan siklus hidupnya!

1			1
2			2
3			3
4			4
5			5

LIVEWORKSHEETS

Nama: Kelas:

Refleksi

Setelah mempelajari materi metamorfosis, lakukan refleksi sesuai dengan beberapa hal di bawah ini. Berilah tanda centang pada bagian yang kamu anggap sesuai.

Hal yang aku pelajari	Bisa melakukan	Masih perlu belajar
Dapat menyebutkan empat tahapan daur hidup kupu-kupu		
dapat mengurutkan tahapan daur hidup kupu-kupu		
Memahami bentuk kupu- kupu saat masih menjadi ulat dan setelah dewasa		
Memilih kata hubung yang tepat untuk kalimat majemuk		
Mengelompokkan gambar dengan urutan siklus hidup hewan		

LIVEWORKSHEETS