ASESMEN SUMATIF AKHIR SEMESTER GANJIL
MADRASAH IBTIDAIYAH (MI) PSM BENDO BARAT
MATA PELAJARAN : FIKIH
KELAS : 6
TAHUN PELAJARAN 2026/2027

Petunjuk Umum:
1. Berdoalah sebelum mulai mengerjakan soal.
2. Bacalah setiap bacaan (stimulus), tabel, grafik, maupun keterangan gambar dengan cermat.
3. Pada soal Pilihan Ganda (nomor 1–40), pilihlah satu jawaban yang paling benar (A, B, C, atau D).
4. Pada soal Pilihan Ganda Kompleks (nomor 41–45), pilihlah dua jawaban yang benar sesuai perintah soal.

A. PILIHAN GANDA

Berilah tanda silang (X) pada huruf A, B, C, atau D di depan jawaban yang paling tepat!

1. Perhatikan Gambar 1! Jika seseorang memperoleh makanan dari hasil mencuri atau menipu, bagian bernomor berapakah pada bagan tersebut yang paling tepat menunjukkan asal mula hukum haramnya?

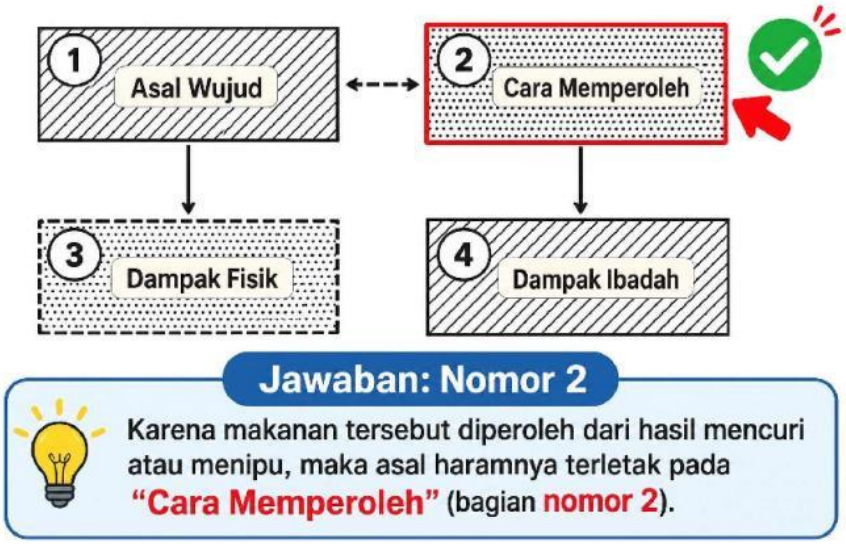

Gambar 1. Bagan Klasifikasi & Dampak Makanan

A. Bagian 1
B. Bagian 2
C. Bagian 3
D. Bagian 4

LIVEWORKSHEETS

2. Perhatikan Gambar 2! Berdasarkan skema perubahan cairan pada gambar tersebut, manakah pernyataan yang sesuai dengan ketentuan minuman dalam Fikih?

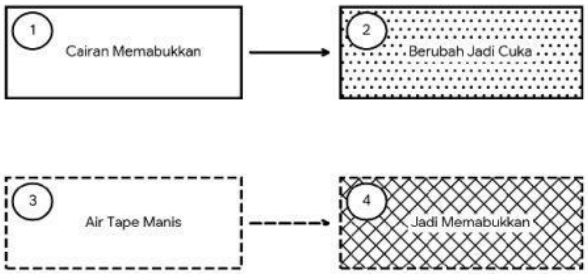

Gambar 2. Skema Perubahan Cairan

A. Tahap 1 haram diminum, dan setelah menjadi seperti pada tahap 2 tetap haram diminum
B. Tahap 2 halal diminum karena cairan memabukkan telah berubah menjadi cuka
C. Tahap 3 haram diminum sejak awal karena berasal dari tumbuhan
D. Tahap 4 tetap halal diminum selama belum memabukkan secara penuh

3. Perhatikan Gambar 3! Diagram tersebut menggambarkan pembagian isi lambung yang seimbang sesuai adab makan dan minum dalam Islam. Jika bagian 1 adalah tempat makanan, maka bagian 2 dan 3 secara berurutan menunjukkan ....

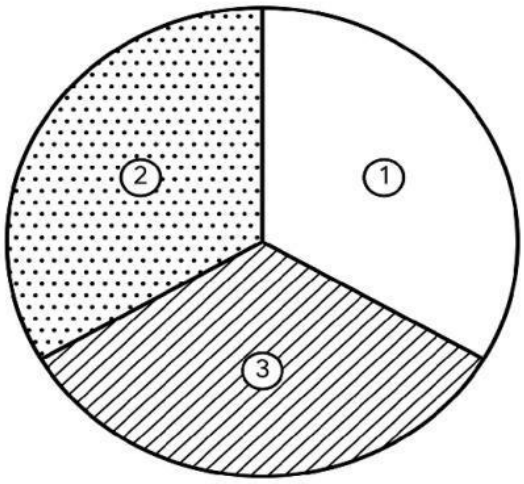

Gambar 3. Diagram Proporsi Isi Lambung

A. tempat minuman dan tempat udara
B. tempat udara dan tempat minuman
C. tempat air dan tempat sisa makanan
D. tempat udara dan tempat pencernaan

LIVEWORKSHEETS

4. Perhatikan Gambar 4! Kotak bernomor berapakah yang menunjukkan jenis binatang yang tetap halal dikonsumsi meskipun matinya tanpa disembelih secara syar'i?

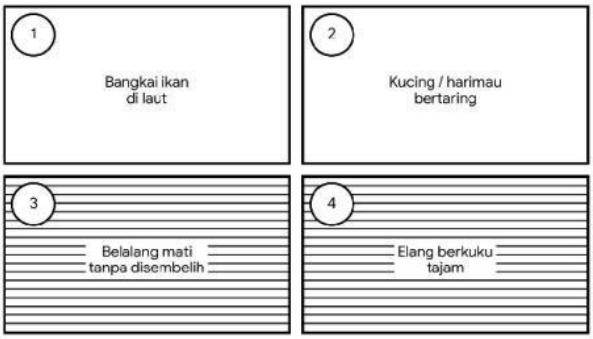

Gambar 4. Matriks Jenis Binatang

A. 1 dan 2
B. 2 dan 4
C. 1 dan 3
D. 3 dan 4

5. Perhatikan Gambar 5! Dalam praktik menyembelih binatang sesuai sunah dan ketentuan syariat, bagian bernomor 2 merupakan titik penyembelihan yang harus memutus saluran napas dan saluran makanan, sedangkan bagian 3 menunjukkan sisi tubuh yang sebaiknya ....

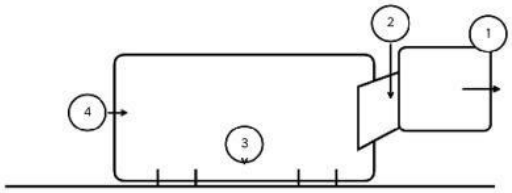

Gambar 5. Skema Penyembelihan Binatang

A. berada di atas agar mudah diikat
B. berada di bawah menghadap ke arah kiblat
C. dipotong terlebih dahulu sebelum bagian leher
D. dihindari karena termasuk bagian yang haram dimakan

6. Istilah tayyib dalam ketentuan makanan bagi seorang muslim berarti ....

A. mahal dan mudah ditemukan di pasar
B. baik, bergizi, dan menyehatkan
C. diolah dengan cara modern dan cepat
D. berasal dari luar negeri yang maju

7. Ayat Al-Qur'an yang memerintahkan manusia untuk makan dari yang halal lagi tayyib dan tidak mengikuti langkah-langkah setan terdapat dalam Surah ....

A. Al-Baqarah ayat 168
B. Al-Ma'idah ayat 96
C. Al-A'raf ayat 157
D. An-Nahl ayat 5

LIVEWORKSHEETS

8. Makanan yang semula zatnya halal dapat berubah menjadi haram apabila ....

A. dimasak menggunakan bumbu rempah daerah
B. diperoleh dengan cara yang batil seperti mencuri
C. disimpan di lemari pendingin sebelum dimasak
D. dimakan bersama keluarga di rumah

9. Contoh hewan darat yang halal dikonsumsi sesuai Surah An-Nahl ayat 5 dan materi Fikih adalah ....

A. ular dan buaya
B. sapi dan kambing
C. anjing dan babi
D. serigala dan beruang

10. Hukum memakan binatang yang hidup di air laut maupun air tawar secara umum adalah ....

A. haram kecuali disembelih
B. makruh jika dimakan mentah
C. halal dikonsumsi
D. mubah hanya saat bepergian

11. Makanan yang disebut haram 'aini adalah makanan yang ....

A. halal zatnya tetapi dibeli dengan uang riba
B. haram karena hukum asalnya sejak awal
C. menjadi haram karena lupa membaca basmalah
D. halal jika dimakan dalam jumlah sedikit

12. Berikut ini yang termasuk makanan haram 'aini berupa tumbuhan (nabati) adalah ....

A. bayam dan kangkung
B. kecubung dan ganja
C. beras dan jagung
D. wortel dan kentang

13. Benda dari perut bumi yang haram dikonsumsi karena membahayakan tubuh manusia antara lain ....

A. garam dapur bersih
B. air sumur yang jernih
C. bensin dan solar
D. tanah liat untuk gerabah

14. Makanan yang dibeli menggunakan uang hasil korupsi, judi, atau riba termasuk kategori ....

A. halal tayyib
B. haram 'aini
C. haram sababi
D. sunah muakkad

15. Salah satu manfaat mengonsumsi makanan halal bagi kehidupan seorang muslim adalah ....

A. membuat hati menjadi keras dan mudah marah
B. menjaga kesehatan jiwa dan raga serta membuat doa mudah dikabulkan
C. membuat seseorang merasa sombong di hadapan sesama
D. menghalangi seseorang untuk beribadah

16. Sikap yang tepat ketika menjumpai makanan dalam kemasan yang meragukan kehalalannya adalah ....

A. tetap memakannya karena sudah terlanjur dibeli
B. menanyakan atau memastikan kejelasannya dan menghindarinya bila ragu
C. memberikannya kepada teman agar tidak mubazir
D. memakannya sedikit saja untuk menguji rasa

17. Mengapa bangkai diharamkan dalam Islam?

A. Karena rasanya selalu pahit dan tidak mengenyangkan
B. Karena kemungkinan mengandung bibit penyakit atau baksil yang meracuni tubuh

LIVEWORKSHEETS

C. Karena harganya sangat mahal di pasaran
D. Karena hanya boleh dimakan oleh binatang buas

18. Daging babi diharamkan karena di antaranya mengandung ....
A. vitamin yang berlebihan bagi tubuh
B. cacing pita yang dapat merusak alat pencernaan
C. zat gula yang menyehatkan jantung
D. serat alami yang sulit dicerna

19. Akibat buruk mengonsumsi makanan haram bagi kehidupan rohani seseorang adalah ....
A. meningkatnya ketenangan hati setiap hari
B. terhalangnya doa dan merusak amal saleh
C. semakin mudah menerima nasihat kebaikan
D. bertambahnya keberkahan dalam keluarga

20. Minuman halal adalah semua jenis minuman yang berbahan suci, tidak kotor, tidak memabukkan, dan ....
A. selalu berwarna cerah dan bersoda
B. tidak mendatangkan mudarat menurut syariat Islam
C. diimpor dari negara lain
D. diminum dalam jumlah sebanyak-banyaknya

21. Contoh minuman yang halal menurut syariat Islam adalah ....
A. khamar dan arak
B. air tape yang sudah memabukkan
C. susu sapi dan madu yang suci dan aman
D. minuman yang tercampur najis

22. Arak atau khamar yang semula memabukkan, apabila berubah menjadi cuka dengan sendirinya tanpa dicampur zat haram, hukumnya menjadi ....
A. haram
B. najis berat
C. halal
D. makruh

23. Adab yang dianjurkan sebelum meminum minuman halal adalah ....
A. meniup minuman panas hingga berbunyi keras
B. membaca basmalah dan minum secukupnya
C. minum sambil berlari agar cepat selesai
D. menghabiskan seluruh isi gelas dalam satu tarikan napas

24. Minuman yang haram karena merusak akal, jiwa, dan kesehatan tubuh disebut ....
A. minuman tayyib
B. minuman memabukkan (seperti khamar)
C. minuman suci mensucikan
D. minuman bergizi seimbang

25. Air tape yang awalnya halal tetapi diproses menjadi minuman yang memabukkan hukumnya berubah menjadi ....
A. halal kembali
B. haram
C. mubah
D. wajib

26. Salah satu sikap menjauhi minuman haram adalah ....
A. bergaul tanpa batas di tempat yang menyediakan minuman keras
B. membiasakan diri minum minuman yang jelas kehalalannya dan menyehatkan
C. mencoba sedikit minuman haram agar tahu rasanya

LIVEWORKSHEETS

D. membeli minuman tanpa memperhatikan kebersihan dan kehalalannya

27. Hikmah membiasakan minum minuman halal bagi kesehatan tubuh adalah ....

A. melemahkan fungsi ginjal dan hati
B. menjaga kesehatan organ tubuh dan panca indera
C. menurunkan daya tahan tubuh
D. memicu gangguan saraf sejak dini

28. Kebiasaan minum minuman yang memabukkan dapat berdampak buruk pada akal karena ....

A. mencerdaskan daya ingat secara instan
B. menurunkan tingkat kecerdasan dan kemampuan berpikir
C. menumbuhkan sifat jujur dan amanah
D. mempercepat pemahaman pelajaran

29. Binatang unggas yang halal dikonsumsi dagingnya antara lain ....

A. burung gagak dan burung elang
B. ayam, bebek, dan burung puyuh
C. burung rajawali dan kelelawar
D. burung bangkai dan elang laut

30. Dua jenis bangkai yang dikecualikan dan halal dimakan menurut hadis Nabi Muhammad saw. adalah ....

A. bangkai ayam dan kambing
B. bangkai ikan dan belalang
C. bangkai burung dan kelinci
D. bangkai sapi dan rusa

31. Hewan yang hidup di dua alam (daratan dan air) seperti katak dan buaya termasuk binatang yang ....

A. halal dimakan kapan saja
B. haram dikonsumsi
C. sunah jika disembelih
D. makruh jika dimasak kuah

32. Sepuluh jenis binatang haram yang disebutkan dalam Surah Al-Ma'idah ayat 3 mencakup antara lain ....

A. hewan ternak yang disembelih menyebut nama Allah
B. binatang yang mati tercekik, terpukul, atau jatuh
C. ikan hasil tangkapan di sungai dan laut
D. burung puyuh yang disembelih dengan pisau tajam

33. Binatang buas yang bertaring seperti harimau, serigala, dan kucing hukum memakannya adalah ....

A. halal
B. mubah
C. haram
D. sunah

34. Burung berkuku tajam atau bercakar seperti elang, rajawali, dan gagak termasuk hewan yang ....

A. halal dikonsumsi
B. haram dimakan
C. dianjurkan diternakkan untuk dagingnya
D. halal jika matinya dipanah

35. Binatang yang menjijikkan atau kotor (al-khaba'its) seperti cacing, ulat, dan kaki seribu hukumnya ....

A. haram dikonsumsi
B. halal jika digoreng kering
C. makruh bagi anak-anak
D. mubah saat musim kemarau

36. Salah satu cara menghindari makanan atau minuman yang bersumber dari binatang haram adalah ....

A. berobat menggunakan obat yang mengandung unsur haram saat sakit

LIVEWORKSHEETS

B. bersikap selektif dan mencari informasi yang benar tentang bahan makanan
C. mengabaikan asal-usul daging yang dijual di tempat tidak jelas
D. menyamakan semua hewan di darat boleh dimakan

37. Ketentuan utama bagi orang yang menyembelih binatang agar sembelihannya sah adalah ....
A. beragama Islam, berakal, dan membaca basmalah
B. berusia di bawah balig dan tidak membaca apa pun
C. sedang marah dan terburu-buru
D. menyembelih menggunakan tulang atau kuku

38. Alat yang dilarang digunakan untuk menyembelih binatang berdasarkan hadis Nabi saw. adalah ....
A. pisau baja yang tajam
B. bilah besi yang diasah
C. tulang, kuku, dan gigi
D. pisau dapur yang bersih

39. Sunah dalam menyembelih binatang antara lain ....
A. menggunakan pisau yang tumpul agar prosesnya lama
B. membaringkan binatang pada rusuk kirinya dan menghadapkannya ke arah kiblat
C. menyembelih setelah binatang benar-benar mati membusuk
D. memperlakukan binatang dengan kasar sebelum disembelih

40. Jika seekor sapi disembelih oleh seorang muslim sesuai syariat dan di dalam perut induknya terdapat anak sapi yang mati karena kematian induknya, maka hukum memakan anak sapi tersebut adalah ....
A. haram karena tidak sempat disembelih terpisah
B. halal karena mengikuti hukum induknya yang disembelih secara sah
C. najis berat dan harus dibuang
D. makruh jika dimasak bersamaan

LIVEWORKSHEETS

II. Pilihan Ganda Kompleks (Soal Nomor 41–45 — Pilih 2 Jawaban Benar)

Berilah tanda centang (✓) atau tanda silang (X) pada DUA jawaban yang paling benar untuk setiap soal berikut!

41. Sebuah makanan dapat dikategorikan sebagai makanan yang *halalan thayyiban* apabila memenuhi ketentuan syariat Islam. Manakah dua pernyataan yang merupakan syarat makanan halal?

    A. Memenuhi unsur halal zatnya menurut syariat dan *thayyib* (baik serta menyehatkan).
    B. Cara memperoleh dan mengolahnya sesuai dengan ketentuan syariat Islam.
    C. Diperoleh dengan cara yang batil asalkan rasanya enak dan mengenyangkan.
    D. Mengandung bahan berbahaya dalam kadar sedikit agar cita rasanya lebih lezat.

42. Makanan atau minuman yang zat asalnya halal dapat berubah menjadi *haram sababi* karena cara memperoleh atau mengolahnya yang melanggar syariat. Manakah dua contoh yang termasuk kategori *haram sababi*?

    A. Uang hasil mencuri yang dibelikan nasi kotak.
    B. Daging kambing yang disembelih dengan menyebut nama Allah.
    C. Daging babi hutan yang dimasak dengan bumbu rempah pilihan.
    D. Makanan yang dibeli dari hasil riba atau perjudian.

43. Islam melarang umatnya mengonsumsi minuman yang memabukkan (*khamar*) karena membawa banyak mudarat. Manakah dua dampak buruk dari mengonsumsi minuman haram tersebut?

    A. Menjadikan hati bersih, doa mudah dikabulkan, dan iman meningkat.
    B. Merusak kesehatan tubuh, akal, dan melemahkan daya pikir.
    C. Menambah kecerdasan serta ketenangan jiwa dalam beribadah.
    D. Menghalangi keberkahan dan menjauhkan diri dari rahmat serta ridha Allah.

44. Allah Swt. telah menetapkan jenis-jenis binatang yang halal dan haram dikonsumsi oleh umat Islam. Manakah dua kelompok binatang yang halal dikonsumsi dagingnya?

    A. Ikan nila dan belalang
    B. Singa dan burung elang.
    C. Ayam kampung dan burung puyuh.
    D. Katak sawah dan ular sanca.

45. Agar daging binatang darat halal dikonsumsi, proses penyembelihannya harus memenuhi rukun dan ketentuan syariat. Manakah dua ketentuan penyembelihan binatang yang benar?

    A. Membaringkan binatang di atas rusuk kanannya sambil membelakangi arah kiblat.
    B. Penyembelih beragama Islam, berakal, dan menyembelih dengan sengaja.
    C. Menyembelih binatang yang sudah mati menjadi bangkai agar lebih mudah dipotong.
    D. Memotong saluran napas dan saluran makanan menggunakan alat yang tajam (bukan tulang, kuku, atau gigi).

LIVEWORKSHEETS