GEOMETRY: PERÍMETROS

Problemas sobre perímetros

1 Observa y responde: ¿Cuánta cinta necesito para pegar en todo el borde del cuadro?

a. 12 cm

b. 20 cm

c. 40 cm



2 Verónica está decorando un cuadro para regalarle a su mamá, ella colocará una cinta en el borde del cuadro ¿Cuántos centímetros de cinta necesitará?

a. 60 cm

b. 30 cm

c. 6 cm



3 ¿Cuántos metros recorrerá el niño para dar la vuelta al parque?

a. 22 m.

b. 25 m.

c. 44 m.





LIVEWORKSHEETS

4 **Selecciona un polígono irregular.**



5 **Arrastra el elemento donde corresponda.**

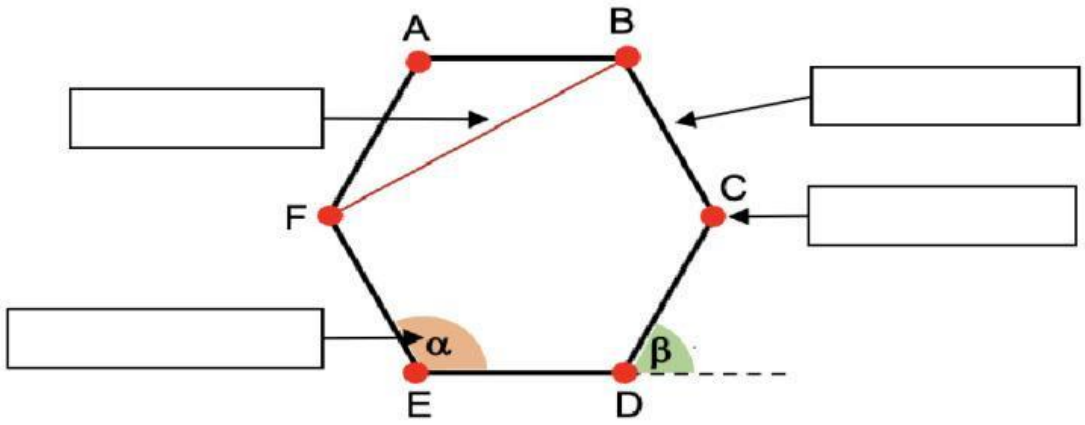

Diagonal | Ángulo interno | Vértice | Lado

6 **Completa el espacio vacío.**

Carlos quiere poner una cerca alrededor de su jardín que tiene forma de cuadrado. Si cada lado mide 8 m, ¿cuántos metros de cerca necesita?

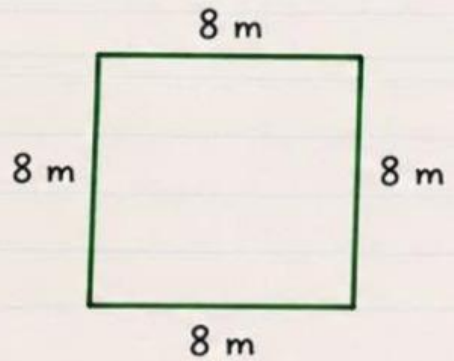

Respuesta:
Carlos necesita ☐ metros de cerca.

LIVEWORKSHEETS

7

Un parque tiene forma de L como se muestra en la figura. ¿Cuántos metros de camino hay alrededor del parque?

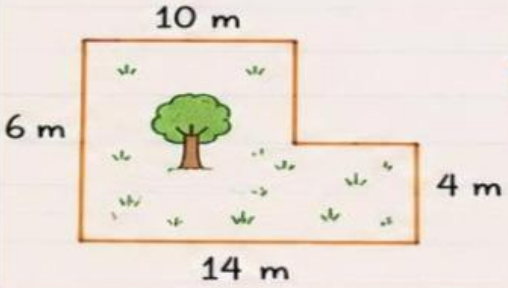

Respuesto:
Hay ☐ metros de camino alrededor del parque.

8 **Observa las figuras y escribe el nombre del polígono que tiene la misma forma.**



9 **¿Cuál es el perímetro de la facha de esta vivienda?**



FACHADA 1: ☐

10 **¿Cuál es el perímetro total de esta figura?**

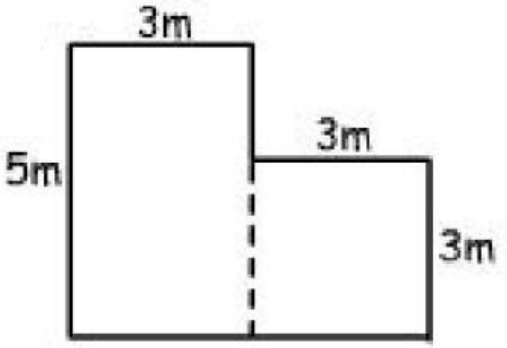

☐ 14m ☐ 22cm ☐ 20cm

LIVEWORKSHEETS