LKPD

BANGUN RUANG SISI DATAR

Perhatikan Video Berikut ini!

1



Perhatikan Materi Presentasi berikut:

2



3





LIVEWORKSHEETS

4 TEKSFIELD

Bangun ruang sisi datar yang lima sisi, sembilan rusuk dan 6 titik sudut disebut ...

5 SINGGLE CHOICE

Bangun ruang sisi datar yang hanya memiliki 7 sisi, 15 rusuk dan 10 titik sudut disebut

6 CHECKBOXES

Yang merupakan bagian dari bangun ruang sisi datar adalah :

- [ ] KUBUS
- [ ] PRISMA
- [ ] TABUNG
- [ ] LIMAS

7 SELECT

Yang merupakan bagian dari bangun ruang sisi Lengkung adalah :

- [ ] KUBUS
- [ ] TABUN
- [ ] LIMAS
- [ ] PRISMA

8 WORD SEARCH

CARI KATA YANG BERKAITAN DENGAN BANGUN RUANG

L	K	L	P	H	K	V	B
I	K	U	B	U	S	P	A
M	G	H	L	K	J	R	L
G	B	H	I	S	S	I	O
S	V	D	M	G	H	S	K
A	D	A	A	B	A	M	I
K	F	D	S	U	T	A	R
E	W	A	V	E	R	A	C

LIVEWORKSHEETS

9 SPEAK

sebutkan nama Bangun ruang berikut ini dengan tepat

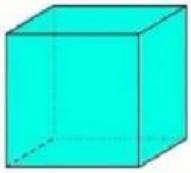



10 LISTENING

Dengarkan Suara berikut dan tuliskan jawabannya

11 Drag and Drop

Pindahkan Bangun ruang di samping ke Kotak yang telah disediakan dengan Tepat!



Prisma Segitiga | Limas Segiempat | Limas Segitiga

12 JOIN AND ARROW

Tarik garis untuk memasangkan bentuk bangun ruang dan nama bangun ruang dibawah ini!







PRISMA SEGITIGA

LIMAS SEGITIGA

BALOK

LIMAS SEGIEMPAT

LIVEWORKSHEETS