PEMERINTAH KOTA BANDUNG
DINAS PENDIDIKAN
SEKOLAH DASAR NEGERI 106 AJITUNGGAL CIJAMBE
Jl.Terusan Sukup Baru No.5 Kel. Pasir Endah Kec. Ujungberung Bandung 40619

ASESMEN SUMATIF AKHIR SEMESTER GANJIL
TAHUN PELAJARAN 2026-2027

Mata Pelajaran : **IPAS**
Kelas/Semester : 6 (Enam) / Ganjil
Hari/Tanggal : Selasa, 2 Desember 2026
Waktu : 120 Menit
Nama : ……..

Bacalah setiap soal dan petunjuknya dengan cermat. I

I. Jawablah pertanyaan-pertanyaan berikut sesuai dengan petunjuk soal!

1. Manusia memiliki sekitar 206 tulang. Tulang-tulang tersebut membentuk kerangka di dalam tubuh. Tulang-tulang tersebut memiliki fungsi .... (Pilihan jawaban dapat lebih dari satu)

   ☐ memberikan bentuk pada tubuh manusia
   ☐ menggerakkan otot dan sendi
   ☐ melindungi organ-organ penting
   ☐ melindungi otot dan sendi

2. Tulang disebut sebagai alat gerak pasif, karena ....

   A. tulang menggerakkan otot dan sendi
   B. tulang memiliki berbagai macam bentuk
   C. tulang dapat bergerak apabila digerakkan oleh otot
   D. tulang tidak berperan dalam sistem gerak

Perhatikan gambar berikut untuk menjawab soal nomor 3–4.



3. Berikan tanda centang (✓) pada kolom benar atau salah sesuai pernyataan berikut.

Pernyataan	Benar	Salah
Tulang jari tangan merupakan tulang keras.		
Tulang telapak tangan terdiri dari tulang-tulang rawan.		
Tulang jari tangan termasuk tulang pipa.		
Tulang telapak tangan memiliki bentuk tidak beraturan.		

LIVEWORKSHEETS

4. Sendi yang menghubungkan antara tulang telapak tangan dan tulang ibu jari adalah ....

   A. sendi engsel
   B. sendi peluru
   C. sendi pelana
   D. sendi putar

5. Pasangkan antara nama otot dan letak otot tersebut di dalam tubuh!

Jenis Otot	
Otot Lurik	●
Otot Polos	●
Otot Jantung	●

Jenis Otot	
●	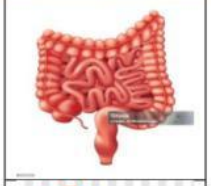
●	
●	
●	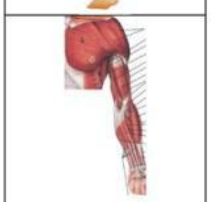

6. Kelainan pada tulang belakang yang ditandai dengan bagian bawah melengkung ke depan secara berlebihan, sehingga punggung bagian bawah terlihat lebih menonjol disebut ....

   A. kifosis
   B. lordosis
   C. skoliosis
   D. rematik

7. Cuping hidung memiliki tekstur lentur dan elastis. Hal ini dikarenakan cuping hidung ....

   A. mengandung banyak zat kapur
   B. tersusun atas gabungan beberapa jenis tulang keras
   C. tersusun atas otot polos
   D. hanya mengandung sedikit zat kapur

8. Darah menjadi bagian penting dalam peredaran darah. Darah memiliki fungsi ....
   (Pilihan jawaban dapat lebih dari satu)

   ☐ membawa oksigen dan nutrisi ke seluruh tubuh
   ☐ memompa air ke seluruh tubuh
   ☐ menghasilkan nutrisi dan vitamin yang dibutuhkan tubuh
   ☐ mengangkut zat sisa metabolisme untuk dikeluarkan dari tubuh

LIVEWORKSHEETS

9. Pasangkan antara komponen-komponen darah dan fungsinya!

Komponen Darah		Komponen Darah
Sel darah merah	●	● membunuh kuman yang masuk ke tubuh
Sel darah putih	●	● berperan dalam proses pembekuan darah dan penyembuhan luka
Plasma darah	●	● mengangkut zat-zat sisa metabolisme
Keping darah	●	● mengangkut oksigen

10. Negara-negara Eropa berikut yang pernah menjajah Indonesia adalah ....
(Pilihan jawaban dapat lebih dari satu)

☐ Jerman ☐ Rusia ☐ Belanda ☐ Portugis

11. Berikan tanda centang (✓) pada kolom benar atau salah.

Pernyataan	Benar	Salah
VOC merupakan perusahaan dagang yang didirikan oleh Belanda.		
Didirikannya VOC memberikan keuntungan dan kesejahteraan bagi rakyat Indonesia.		
VOC melakukan monopoli perdagangan rempah-rempah.		
VOC didirikan oleh rakyat Indonesia pada masa penjajahan Jepang.		

12. Perlawanan rakyat Yogyakarta yang dipimpin Pangeran Diponegoro dilatarbelakangi oleh ....
(Pilihan jawaban dapat lebih dari satu)

☐ Belanda memberlakukan kerja paksa dan beban pajak yang berat
☐ Belanda bersekutu dengan Jepang untuk menjajah Indonesia
☐ Belanda memunculkan budaya Barat yang dapat merusak nilai-nilai Nusantara, seperti minum-minuman keras
☐ Belanda tidak mau ikut campur urusan pemerintahan Kesultanan Yogyakarta

13. Taktik yang digunakan Pangeran Diponegoro untuk melawan Belanda dalam Perang Jawa adalah ....

A. bambu runcing
B. gerilya
C. cultuurstelsel
D. benteng stelsel

14. Seiring dengan munculnya kaum terpelajar, perjuangan pun berganti dengan cara yang lebih modern dan bersifat nasional, yaitu melalui ....

A. peperangan dengan peralatan canggih
B. organisasi-organisasi nasional
C. pendirian armada-armada di perbatasan wilayah Indonesia
D. perlawanan yang bersifat kedaerahan

LIVEWORKSHEETS

15. Peristiwa Sumpah Pemuda memberikan pengaruh bagi pemuda, yaitu .... (Pilihan jawaban dapat lebih dari satu)

- ☐ mengajak para pemuda untuk bersatu dengan bangsa asing
- ☐ memperkuat rasa persatuan dan kebangsaan Indonesia
- ☐ menyatukan semangat para pemuda Indonesia untuk mewujudkan kemerdekaan
- ☐ menyebarluaskan berita kemerdekaan Indonesia

16. Berikan tanda centang (✓) pada kolom benar atau salah.

Pernyataan	Benar	Salah
Jepang datang dan menjajah Indonesia sebelum bangsa Eropa.		
Jepang menduduki Indonesia setelah berhasil menyerang pangkalan Angkatan Laut Amerika Serikat di Hawaii.		
Kedatangan Jepang di Indonesia awalnya ditolak mentah-mentah oleh rakyat.		
Jepang menjajah Indonesia selama tiga tahun.		

17. Pembacaan teks proklamasi Indonesia dilakukan di ....

A. Lapangan IKADA
B. Lapangan Monas
C. Jalan Pegangsaan Timur No. 56, Jakarta
D. Jalan Imam Bonjol No. 1, Jakarta

18. Reaksi Jepang saat mendengar berita kemerdekaan Indonesia adalah .... (Pilihan jawaban dapat lebih dari satu)

- ☐ sangat marah dan mencoba merampas bukti proklamasi
- ☐ turut berbahagia atas berita kemerdekaan Indonesia
- ☐ mendukung kemerdekaan Indonesia
- ☐ merahasiakan berita proklamasi kemerdekaan Indonesia dari Sekutu

19. Manakah pernyataan berikut yang menunjukkan karakteristik Benua Australia? Beri tanda benar atau salah.

Pernyataan	Benar	Salah
Merupakan benua terluas di Asia.		
Merupakan benua paling rata dan kecil di dunia.		
Pembagian wilayahnya didasarkan pada negara bagian.		
Satu-satunya benua yang tidak memiliki gurun.		

20. Negara-negara berikut yang berada di Benua Amerika adalah .... (Pilihan jawaban dapat lebih dari satu)

☐ Brazil ☐ Hawaii ☐ Mesir ☐ Finlandia

LIVEWORKSHEETS

21. Pasangkan antara nama negara dan tempat yang ada di negara tersebut!

Negara	Tempat
Perancis	
Mesir	
Indonesia	
Italia	

22. Turki memiliki banyak bangunan bersejarah, kota kuno, serta wisata alam yang menawan. Potensi ini dimanfaatkan Turki untuk menambah pendapatan negaranya di bidang ....

A. perikanan
B. pertanian
C. peternakan
D. pariwisata

23. Manakah pernyataan berikut yang menunjukkan karakteristik negara Indonesia? Berikan tanda centang (√) pada kolom benar atau salah!

Pernyataan	Benar	Salah
Letak geografis Negara Indonesia terletak diantara 2 samudra yaitu Samudra Hindia dan Samudra Pasifik dan diantara 2 Benua yaitu benua Asia dan Benua Australia		
Negara Indonesia terletak di Benua Asia Timur		
Negara Indonesia memiliki iklim tropis sehingga mengalami 4 musim		
Letak Astronimis Negara Indonesia berada dititik koordinat 6^0 LU – 11^0 LS dan 95^0 BT – 141^0 BT		

LIVEWORKSHEETS

24. Sebagai negara penghasil teh, Jepang memiliki tradisi minum teh yang dianggap sebagai bagian dari seni klasik dan menarik wisatawan. Jepang memanfaatkan potensi tersebut di bidang ....

A. pertanian
B. perikanan
C. sosial budaya
D. pertambangan

25. Suatu negara perlu menjalin kerja sama dengan negara lain, karena .... (Pilihan jawaban dapat lebih dari satu)

- ☐ untuk membentuk sekutu untuk menjajah negara lain
- ☐ untuk memenuhi kebutuhan negaranya
- ☐ untuk menjaga keamanan dan menghindari terjadinya konflik
- ☐ untuk memperluas wilayah negaranya

26. Pasangkan antara bentuk kerja sama internasional dan contoh yang sesuai!

Bentuk Kerjasama		Contoh
Kerjasama Bilateral	●	● 
Kerjasama regional	●	● 
Kerjasma multilateral	●	● 

LIVEWORKSHEETS

27. Berikut merupakan contoh warisan budaya benda adalah .... (Pilihan jawaban dapat lebih dari satu)

☐ 

☐ 

☐ 

☐ 

28. Organisasi yang menangani permasalahan global seperti ekonomi, perubahan iklim, dan polusi adalah ....

A. APEC
B. PBB
C. WTO
D. G20

29. ASEAN merupakan organisasi yang mewadahi kerja sama antara negara-negara yang terletak di wilayah Asia Tenggara. ASEAN diresmikan pada tanggal 8 Agustus 1967 dalam acara Deklarasi Bangkok di Bangkok, Thailand. Deklarasi Bangkok ditandatangani oleh Menteri luar negeri dari lima negara pendiri ASEAN.
Pasangkanlah antara nama Menteri luar negeri dan negara asalnya

Nama Menteri Luar Negeri		Negara Asal
Thanat Khoman	●	● Indonesia
R. Rajaratman	●	● Malaysia
Adam Malik	●	● Thailand
Narsico Ramos	●	● Filipina
Tun Abdul Razak	●	● Singapura

30. Indonesia merupakan negara yang kaya akan budaya. Upaya yang dapat dilakukan untuk melestarikan budaya Indonesia adalah .... (Pilihan jawaban dapat lebih dari satu)

☐ mengikuti berbagai kegiatan atau festival budaya
☐ mengikuti dan mencontoh tren budaya asing
☐ mempelajari kesenian dan budaya dalam negeri
☐ bangga membeli produk negara lain

LIVEWORKSHEETS