LA UNIDAD DE MIL

1. Arrastra cuántas unidades de mil hay según lo representado en el material Base 10

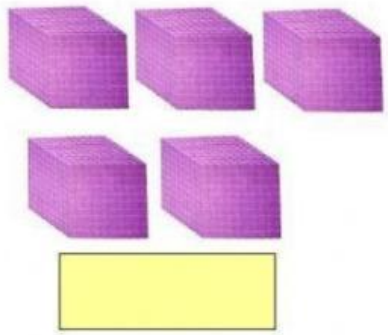



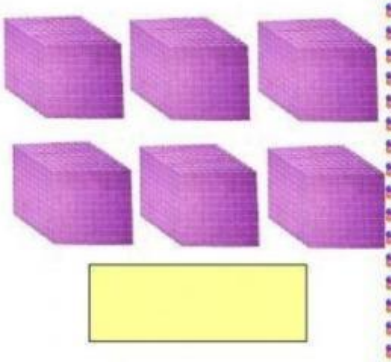

1 000 | 6 000 | 5 000

2. Une con una línea cada número con su representación gráfica

7 509

3 205

1 450

4 568

4 258

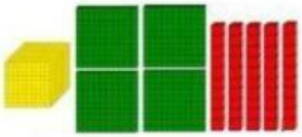





UM	C	D	U
7	5	0	9

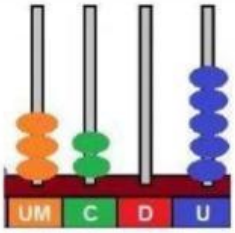

LIVEWORKSHEETS
LIVEWORKSHEETS

3. Toca la bocina, escucha y escribe en letras el número indicado













4. Resuelve las siguientes operaciones. Recuerda escribir el número que vas llevando o prestando

c	d	u
3	4	0
− 1	8	3

c	d	u
6	4	3
+ 2	7	6

c	d	u
7	0	8
− 5	4	1

c	d	u
4	2	3
+ 3	0	8

c	d	u
5	1	8
− 3	2	6

c	d	u
2	8	1
+ 1	2	1

LIVEWORKSHEETS
LIVEWORKSHEETS