MATEMATIKA

E-LKPD

Mengenal Bangun Datar



Nama :.....

No Absen : .....

2

Kelas

LIVEWORKSHEETS

Aktivitas 1

Amati dan Kenali

**Amati gambar bangun datar,
lalu tuliskan nama setiap bangun.**









LIVEWORKSHEETS

Aktivitas 2:

Pasangkan Bangunnya

Tarik garis untuk memasangkan setiap bangun dengan nama yang tepat.









- Persegi Panjang
- Lingkaran
- Segitiga
- Persegi





LIVEWORKSHEETS

Aktivitas 3:

Temukan di Sekitarmu

Tuliskan benda di sekitarmu yang bentuknya menyerupai bangun datar berikut.



Lingkaran _____



Segitiga _____



Persegi _____



Persegi panjang _____



LIVEWORKSHEETS

Aktivitas 4:

Pilihan Ganda

Pilihlah jawaban yang paling tepat dengan memberi tanda silang (×) pada huruf A, B, atau C!

1 Bangun datar yang memiliki tiga sisi disebut ....

A Lingkaran
B Segitiga
C Persegi

2 Bangun datar yang tidak memiliki sudut adalah ....

A Persegi
B Segitiga
C Lingkaran

3 Bangun datar dengan empat sisi sama panjang disebut ....

A Persegi
B Segitiga
C Lingkaran

4 Bentuk permukaan buku tulis biasanya menyerupai ....

A Lingkaran
B Persegi panjang
C Segitiga

5 Bangun datar yang memiliki empat sisi dan dua pasang sisi berhadapan sama panjang adalah ....

A Persegi panjang
B Lingkaran
C Segitiga



LIVEWORKSHEETS