PROBLEMAS CON EQUILIBRIO EN LA BALANZA GRUPO - 1

¡Empecemos!

Resuelve la siguiente situación problemática:



Josefina juega a equilibrar la balanza. **¿Qué regletas debe colocar para hallar el equilibrio?**

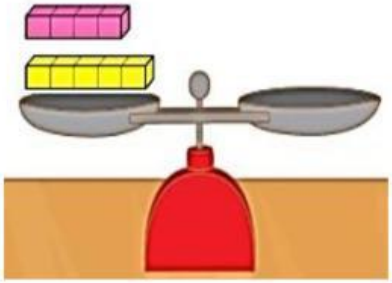

1.Responde las preguntas:

¿De qué trata el problema?

Josefina juega a equilibrar la balanza.	Josefina pesa usando la balanza.	Josefina usa las regletas.

¿Qué nos pide el problema?

¿Qué cubitos debe colocar para hallar el equilibrio?	**¿Qué regletas debe colocar para hallar el equilibrio?**	**¿Qué balanza debe colocar para hallar el equilibrio?**

2.Dibuja y colorea las regletas que necesita para hallar el equilibrio.

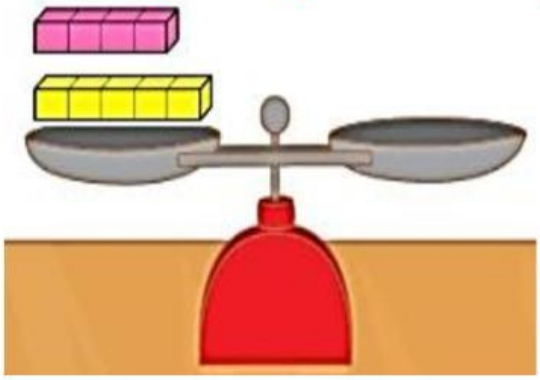

3.Realiza la adición para hallar el equilibrio:

☐ + ☐ = ☐ + ☐

LIVEWORKSHEETS

PROBLEMAS CON EQUILIBRIO EN LA BALANZA GRUPO - 2

¡Empecemos!

Resuelve la siguiente situación problemática:



Josefina juega a equilibrar la balanza. **¿Qué regletas debe colocar para hallar el equilibrio?**

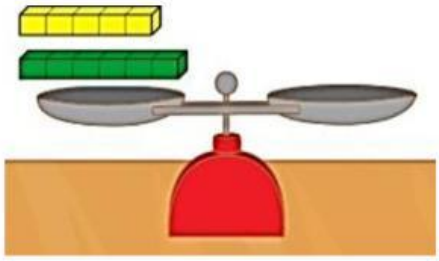

1.Responde las preguntas:

¿De qué trata el problema?

Josefina juega a equilibrar la balanza.	Josefina pesa usando la balanza.	Josefina usa las regletas.

¿Qué nos pide el problema?

¿Qué cubitos debe colocar para hallar el equilibrio?	**¿Qué regletas debe colocar para hallar el equilibrio?**	**¿Qué balanza debe colocar para hallar el equilibrio?**

2.Dibuja y colorea las regletas que necesita para hallar el equilibrio.

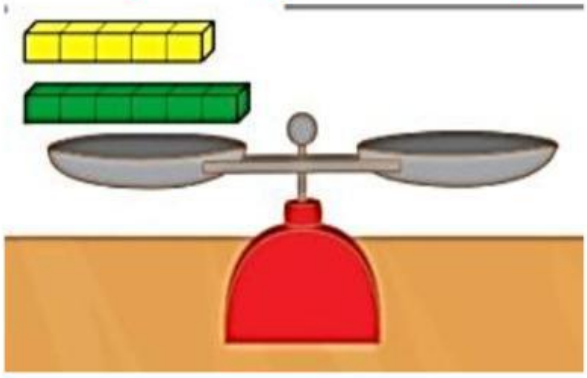

3.Realiza la adición para hallar el equilibrio:

☐ + ☐ = ☐ + ☐

4.Respuesta:

LIVEWORKSHEETS

PROBLEMAS CON EQUILIBRIO EN LA BALANZA GRUPO - 3

¡Empecemos!

Resuelve la siguiente situación problemática:



Josefina juega a equilibrar la balanza. **¿Qué regletas debe colocar para hallar el equilibrio?**

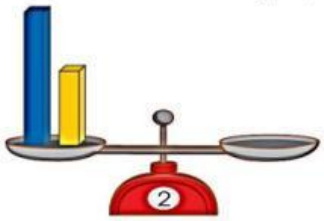

1.Responde las preguntas:

¿De qué trata el problema?

¿Qué nos pide el problema?

2.Dibuja y colorea las regletas que necesita para hallar el equilibrio.

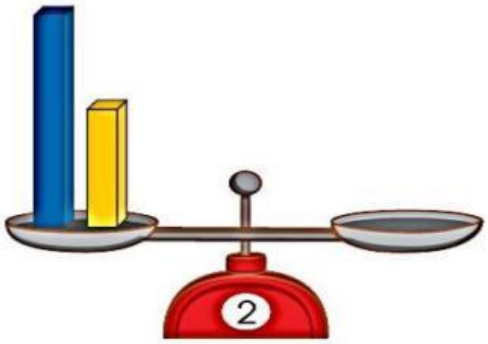

3.Realiza la adición para hallar el equilibrio:

$\square + \square = \square + \square$

4.Respuesta:

LIVEWORKSHEETS