Bahagian A

[50 *markah*]

1. Jadual 1 di bawah menerangkan tentang kaedah mengekalkan hubungan baik dalam pasukan.

Nyatakan kaedah itu pada ruang jawapan yang disediakan .

Penerangan	Kaedah
• Setiap ahli pasukan perlu komited dan bersungguh-sungguh melakukan tugasan yang diamanahkan	(i) .....
• Ketua berperanan menjadi pengantara atau orang tengah untuk menyelesaikan konflik atau perselisihan faham dalam pasukan	(ii) .....
• Setiap ahli dalam pasukan seharusnya berupaya memberikan pendapat tanpa rasa takut atau gentar.	(iii) .....

Jadual 1

[3 *markah*]

2. Jadual 2 menunjukkan dua kaedah untuk mendapatkan maklum balas dalam proses peningkatan kendiri.

Ujian X	Ujian Y
Satu prosedur yang sistematik untuk memerhati tingkah laku manusia dan menerangkannya dengan bantuan skala numerical atau system kategori.	Ujian mengenal pasti kebolehan atau bakat semula jadi pelajar dalam melakukan sesuatu perkara dengan mudah dan cepat.

Jadual 2

Nyatakan jenis ujian itu :

X :.....

Y : .....

[2 *markah*]

[Lihat halaman sebelah

LIVEWORKSHEETS

3. Rajah 1 menunjukkan satu struktur keluarga.

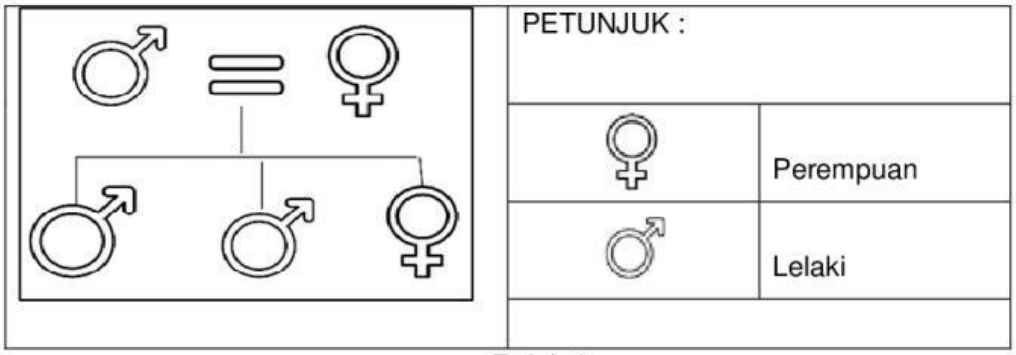

Rajah 1

a) Apakah struktur keluarga tersebut.

.....

[1 *markah*]

b) Jadual 3 di bawah merupakan penerangan fungsi sebuah keluarga. Tulis jawapan yang betul pada ruangan yang disediakan.

Penerangan	Fungsi
Ibu sentiasa mengingatkan tentang adab-adab apabila bertandang ke rumah saudara pada musim hari raya.	(i) .....
Ibu dan ayah merancang belanjawan keluarga pada setiap bulan.	(ii) .....
Ibu dan ayah membimbing anak-anak menyiapkan kerja sekolah pada setiap malam.	(iii) .....

Jadual 3

[3 *markah*]

LIVEWORKSHEETS

4. Maklumat di bawah adalah tentang Encik Ramli.

Encik Ramli bekerja sebagai kerani di sebuah pejabat swasta. Pada waktu malam, Encik Ramli menjadi pemandu grab.

Berdasarkan pernyataan di atas, nyatakan sumber pendapatan keluarga Encik Ramli .

(i) ……

(ii) ……

[2 *markah*]

5. Nyatakan dua kesan negatif konflik kepada remaja.

(i) ……

(ii) ……

[2 *markah*]

6. Maklumat di bawah adalah tentang Encik Amin.

• Encik Amin seorang jurutera Syarikat Automotif ditugaskan untuk menghadiri kursus di Korea pada musim sejuk • Encik Amin mempunyai masalah alahan kepada suhu yang terlalu sejuk

Nyatakan tiga faktor yang mempengaruhi pemilihan pakaian Encik Amin

(i) : ……

(i) : ……

(ii) : ……

[3 *markah*]

LIVEWORKSHEETS

7. Rajah 2 menunjukkan bahagian badan yang perlu diukur.

Nyatakan bahagian badan tersebut pada ruang jawapan yang disediakan .

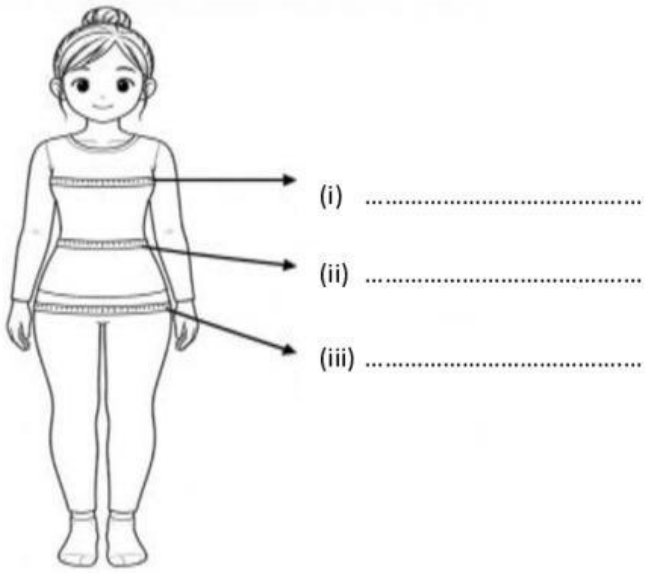

Rajah 2

[3 *markah*]

8. Jadual 4 merupakan sebahagian simbol tanda pola .

Nyatakan maksud tanda pola yang betul pada ruang yang disediakan.

Tanda pola	Maksud tanda pola
	(i) .....
	(ii) .....
	(iii) .....

Jadual 4

[3 *markah*]

LIVEWORKSHEETS

9. Jadual 5 menunjukkan kos bahan untuk menghasilkan sehelai blaus.

Bahan	Kuantiti	Harga seunit (RM)	Kos (RM)
Fabrik	2 meter	6.00	12.00
Benang jahit	1 buku	0.80	0.80
Butang	3 biji	0.30	0.90
Kertas perang	1 helai	0.50	0.50
Jumlah			

Jadual 5

(a) Hitungkan kos projek jika kos upah RM15.00 dan kos sampingan RM3.00.

[2 *markah*]

(b) Kirakan harga jualan jika keuntungan ditetapkan sebanyak 25 %.

[2 *markah*]

LIVEWORKSHEETS

10. Rajah 3 menunjukkan contoh sumber nutrien .



Rajah 3

Berdasarkan rajah di atas ,nyatakan kesan kekurangan dan kesan berlebihan pengambilan nutrien itu.

Kesan kekurangan	Kesan berlebihan
…… …… ……	…… …… ……

[2 *markah*]

[Lihat halaman sebelah

LIVEWORKSHEETS

11. Rajah 4 menunjukkan sumber nutrien.

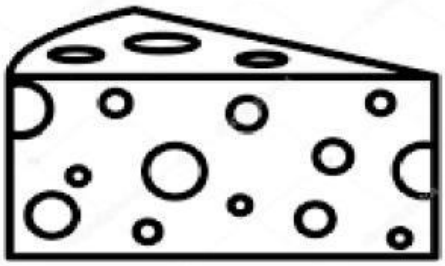

Rajah 4

Nyatakan **dua** hasil akhir pencernaan nutrien dari sumber makanan tersebut.

(i) .....

(ii) .....

[2 *markah*]

12. Pernyataan di bawah merupakan maksud bagi suatu istilah dalam bidang makan dan pemakanan.

> Formula untuk menilai berat badan dan berkait rapat dengan ketinggian individu

Nyatakan istilah tersebut.

.....

[1 *markah*]

LIVEWORKSHEETS

13. Jadual 6 merupakan pernyataan tentang cara memulakan perniagaan.
Nyatakan cara memulakan perniagaan tersebut pada ruang yang disediakan.

Pernyataan	Cara memulakan perniagaan
• Mempunyai minat serta kebolehan • Mempunyai modal yang mencukupi • Mempunyai pengetahuan dan pengalaman	(i) …… ……
• Perniagaan sudah mempunyai rangkaian perniagaan • Membeli perniagaan yang telah sedia wujud daripada pemilik lama.	(ii) …… ……

Jadual 6

[2 *markah*]

14. Senaraikan **tiga** jenis tempat kerja dalam Industri Hospitaliti.

(i) ……

(ii) ……

(iii) ……

[3 *markah*]

[Lihat halaman sebelah

LIVEWORKSHEETS

BAHAGIAN B

[50 *markah*]

1. Rajah 9 menunjukkan sejenis makanan yang telah diambil oleh Abu sebagai sarapannya.



Rajah 9

a) Nyatakan tiga hasil akhir pencernaan karbohidrat yang terdapat dalam makanan tersebut.

(i) .....

(ii) .....

(iii) .....

[3 *markah*]

b) Terangkan proses penyerapan yang berlaku terhadap lemak yang terdapat dalam makanan itu.

.....

.....

.....

.....

.....

LIVEWORKSHEETS

.....

.....

.....

.....

.....

.....

.....

.....

.....

.....

.....

.....

.....

.....

.....

.....

.....

[7 *markah*]

LIVEWORKSHEETS

2. Maklumat di bawah menerangkan tentang keluarga Encik Rahman.

- Encik Rahman bekerja sebagai pengawal keselamatan di kawasan perumahan di bandar dengan pendapatan RM 2200 sebulan .
- Isterinya tidak bekerja dan memiliki seorang anak yang bersekolah di sekolah rendah dan tiga orang anak bersekolah di sekolah menengah yang menetap di kampung
- Jarang pulang ke rumah dan sering bergaduh dengan isteri di hadapan anak-anak apabila pulang bercuti.

Berdasarkan maklumat di atas:

(a) (i) Huraikan punca konflik keluarga Encik Rahman.

.....

.....

.....

.....

.....

.....

.....

.....

.....

.....

.....

.....

.....

.....

.....

.....

.....

[Lihat halaman sebelah

LIVEWORKSHEETS

.....

.....

.....

.....

.....

.....

.....

.....

.....

.....

[9 *markah*]

(ii) Berdasarkan jawapan di (a) (i) ,cadangkan cara mengatasi masalah tersebut .

.....

.....

.....

.....

[3 *markah*]

(a) Nyatakan **tiga** kesan konflik kepada anak-anak Encik Rahim.

(i) .....

.....

(ii) .....

.....

(iii) .....

.....

[3 *markah*]

[Lihat halaman sebelah

LIVEWORKSHEETS