ชื่อ..... ชั้น..... เลขที่..... วันที่.....

ให้นักเรียนเติมคำในช่องว่างให้ถูกต้อง

1. ให้นักเรียนบอกส่วนประกอบของพีระมิดตรงและพีระมิดเอียงต่อไปนี้

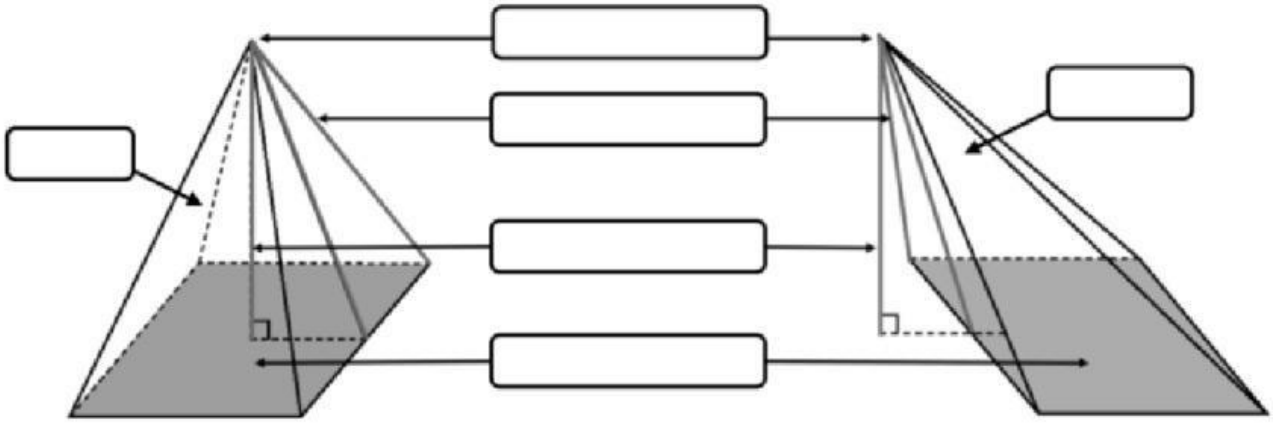

2. ให้นักเรียนระบายสีฐานของพีระมิด พร้อมทั้งบอกชื่อของพีระมิด

2.1

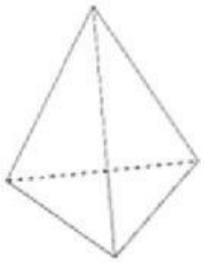

ตอบ.....

2.2

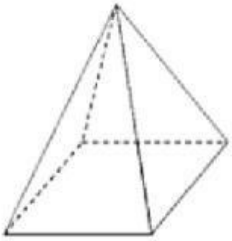

ตอบ.....

2.3

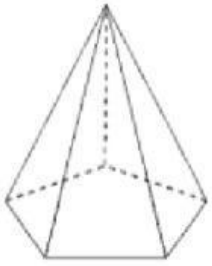

ตอบ.....

2.4

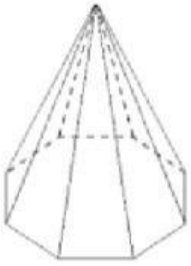

ตอบ.....

LIVEWORKSHEETS

ให้นักเรียนเติมคำในช่องว่างให้ถูกต้อง

2.5

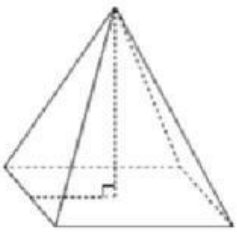

ตอบ.....

2.6

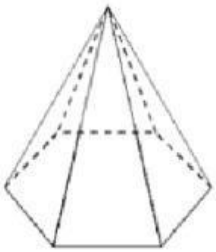

ตอบ.....

3. ให้นักเรียนระบายสีฐานของรูปคลี่ที่กำหนดให้พร้อมทั้งบอกว่าเป็นของพีระมิดชนิดใด

3.1

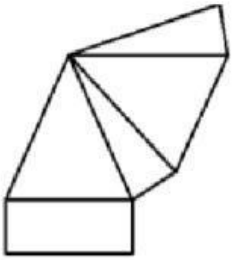

ตอบ.....

3.2



ตอบ.....

3.3

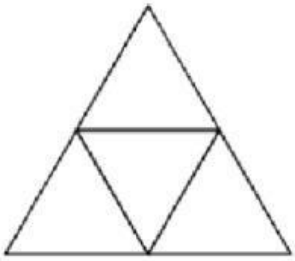

ตอบ.....

3.4

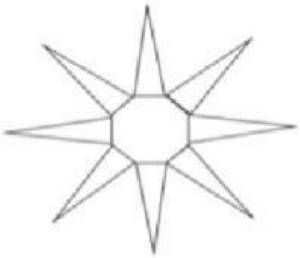

ตอบ.....

LIVEWORKSHEETS