ÜNİTE DEĞERLENDİRME TESTİ -10

1 Hangi öğrencinin söylediği ifade doğrudur?

A) *4 yarım 6 çeyrek eder.*

B) *2 tam 8 çeyrek eder.*

C) *5 çeyrek 3 yarım eder.*

2 Aşağıdakilerden hangisi yarımı temsil eder?

A) 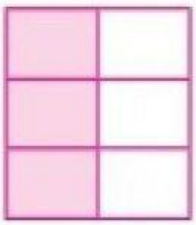

B) 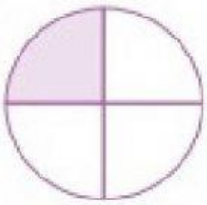

C) 

3 Yelkovan 12'nin akrep 8'in üzerinde ve akşam saatinde ise, dijital saat zamanı nasıl gösterir?

A) 12.00
B) 08.00
C) 20.00

4 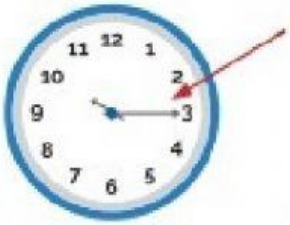

Saatte okla gösterilen kısım, aşağıdakilerden hangisidir?

A) Akrep
B) Saniye
C) Yelkovan

5 Hangi seçenekteki mevsim ve o mevsime ait ay yanlış eşleşmiştir?

A) Yaz — Ağustos

B) Kış — Mart

C) Sonbahar — Kasım

Selimer Yayınları

LIVEWORKSHEETS

6. 1 ay 3 hafta 6 gün, kaç gün eder?

A) 58 gün
B) 56 gün
C) 57 gün

7. Tanesi 50 Kr olan kalemlerden 8 tane alırsam kaç TL öderim?

A) 4 TL
B) 4 TL 50 Kr
C) 5 TL

8, 9 ve 10 soruları yukarıdaki görsele göre cevaplayalım.

8. En pahalı çiçek ile en ucuz çiçek arasında kaç TL fark vardır?

A) 17 TL
B) 18 TL
C) 11 TL

9. 2 demet orkide, 2 demet papatya alırsam kaç TL öderim?

A) 50 TL
B) 71 TL
C) 60 TL

10. Tüm çiçeklerden birer demet alırsam kaç TL öderim?

A) 53 TL 50 Kr
B) 54 TL 50 Kr
C) 52 TL 50 Kr

Selimer Yayınları

LIVEWORKSHEETS