Latihan Ujian Celik Minda

6 Tahun

Subjek: Matematik



Nama :

Kelas :

PASTI :

LIVEWORKSHEETS

Latihan Matematik

1. Kira dan tulis bilangannya.



2. Padankan dengan kumpulan yang sama dan bilangannya yang betul.

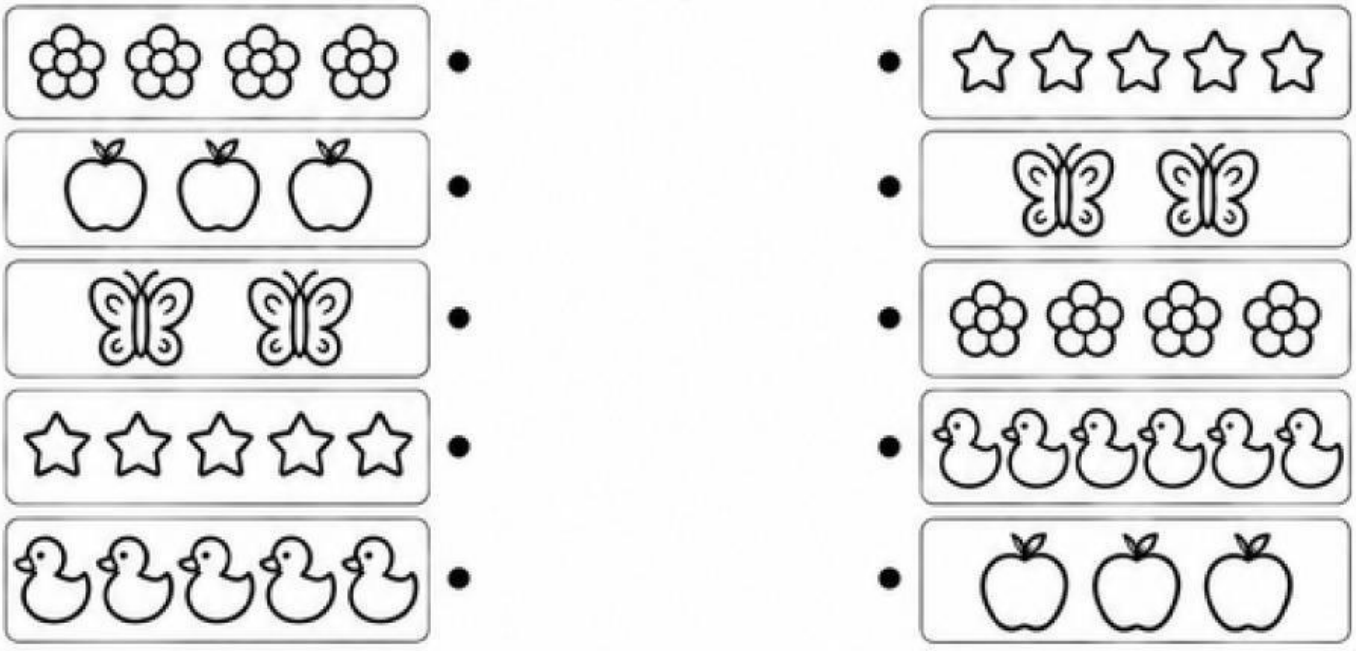

3. Tulis nilai angka yang betul.

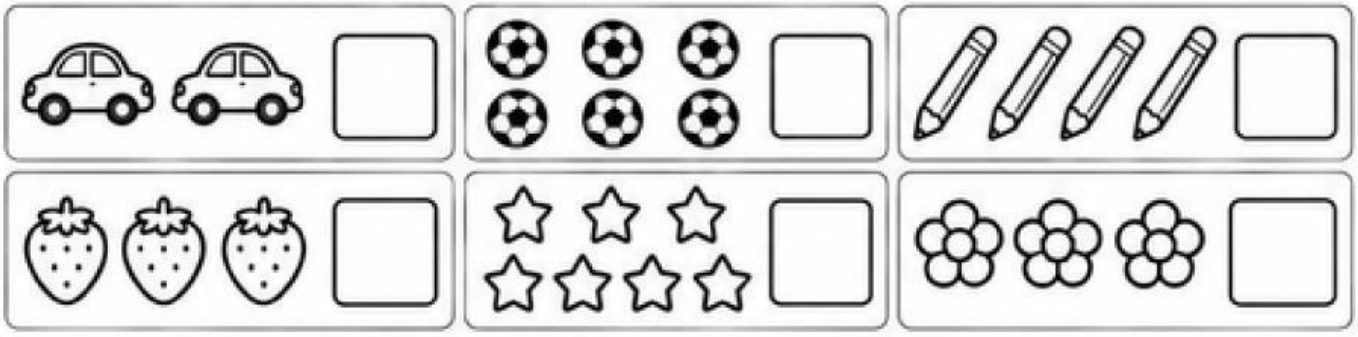

LIVEWORKSHEETS

Latihan Matematik

1. Kira dan tulis bilangannya.



2. Padankan dengan kumpulan yang sama dan bilangannya yang betul.

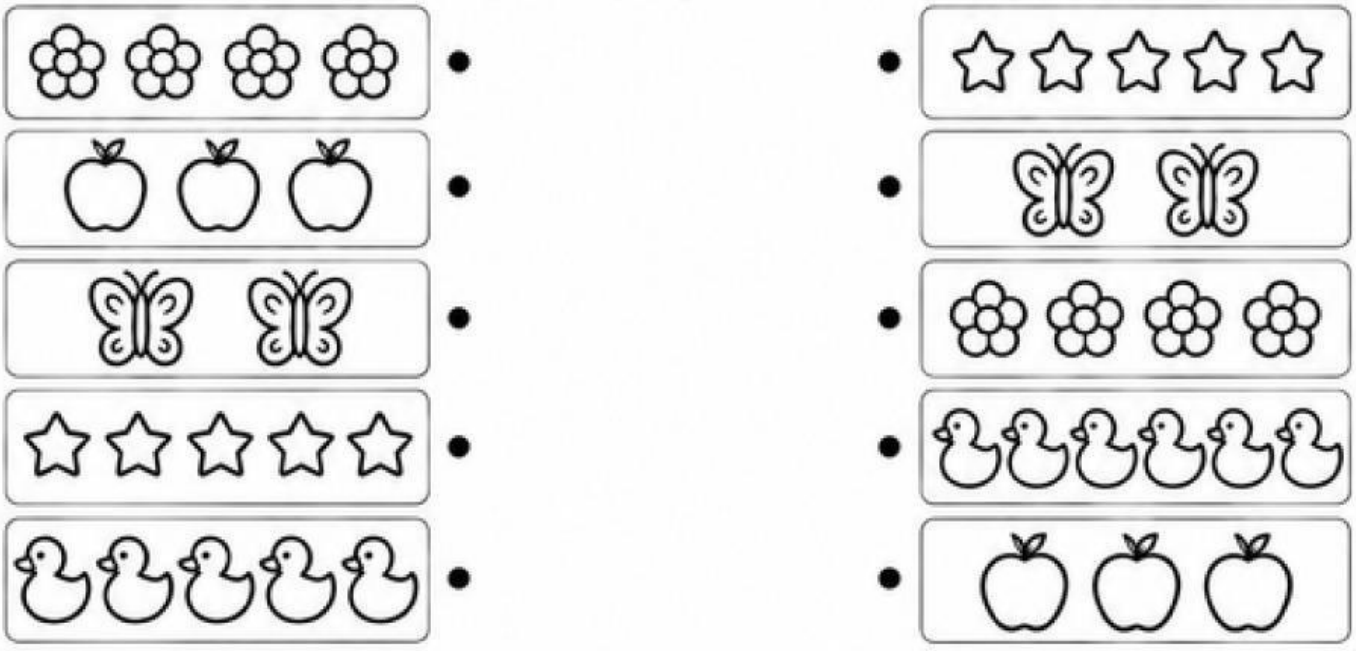

3. Tulis nilai angka yang betul.

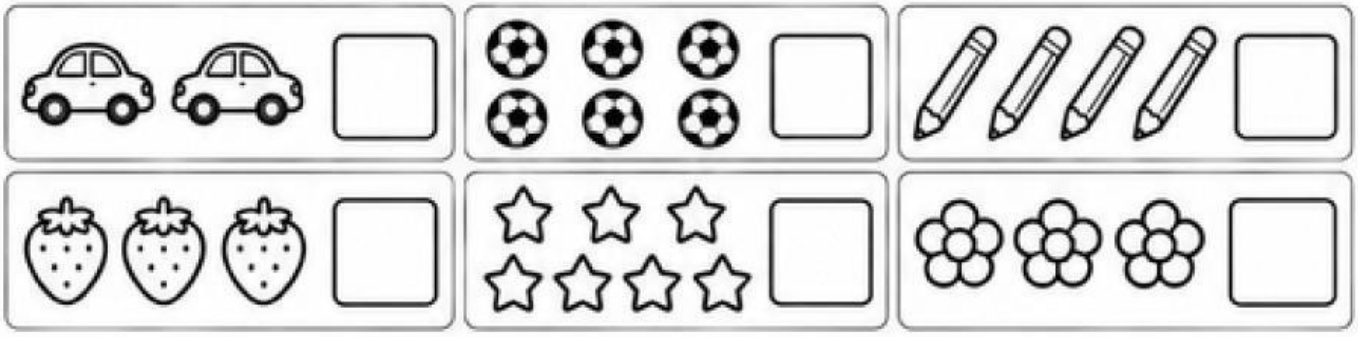

LIVEWORKSHEETS

Latihan Matematik

1 Lengkapkan urutan nombor menaik.

Tulis nombor yang tertinggal.

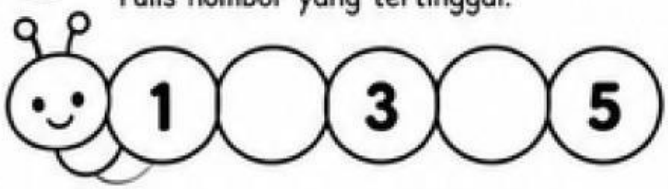



2 Lengkapkan urutan nombor menurun.

Tulis nombor yang tertinggal.





3 Padankan nombor dengan perkataan yang betul.

1	•	• tiga	6	•	• tujuh
2	•	• satu	7	•	• enam
3	•	• dua	8	•	• sepuluh
4	•	• lima	9	•	• lapan
5	•	• empat	10	•	• sembilan

4 Tulis nombor dalam perkataan.

6	_____	9	_____
7	_____	10	_____
8	_____		



5 Tuliskan angka bagi perkataan nombor berikut.

satu ☐	dua ☐	tiga ☐	empat ☐	lima ☐
enam ☐	tujuh ☐	lapan ☐	sembilan ☐	sepuluh ☐

LIVEWORKSHEETS

Latihan Matematik

1. Kira dan tulis jawapan.

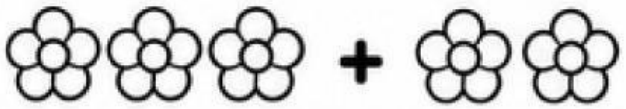

3 + 2 = ☐

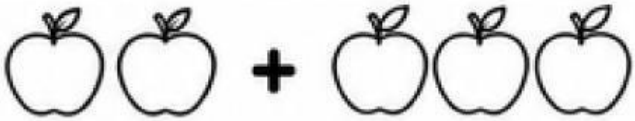

2 + 3 = ☐



4 + 1 = ☐



2 + 3 = ☐

2. Selesaikan operasi tambah.

1 + 2 = ☐	3 + 4 = ☐	5 + 1 = ☐
2 + 3 = ☐	4 + 2 = ☐	6 + 3 = ☐
3 + 1 = ☐	5 + 2 = ☐	7 + 1 = ☐
4 + 4 = ☐	6 + 2 = ☐	8 + 2 = ☐

3. Kira dan tulis jumlah.

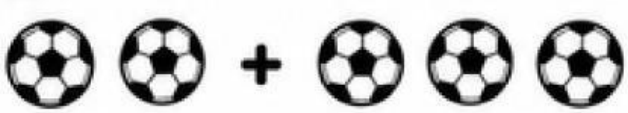

☐ + ☐ = ☐



☐ + ☐ = ☐



☐ + ☐ = ☐

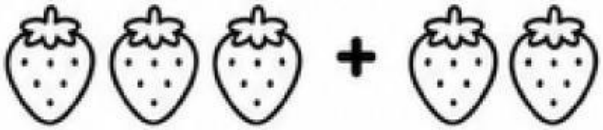

☐ + ☐ = ☐

LIVEWORKSHEETS

Latihan Matematik

1 Kira dan tulis jawapan.



5 - 2 = ☐



5 - 2 = ☐



4 - 1 = ☐

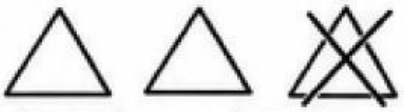

3 - 1 = ☐

2 Tulis ayat matematik operasi tolak berdasarkan gambar.



☐ - ☐ = ☐



☐ - ☐ = ☐



☐ - ☐ = ☐



☐ - ☐ = ☐

3 Selesaikan operasi tolak.

5 - 2 = ☐	4 - 1 = ☐	3 - 2 = ☐	5 - 1 = ☐
6 - 3 = ☐	7 - 2 = ☐	8 - 4 = ☐	9 - 1 = ☐
10 - 2 = ☐	6 - 1 = ☐	7 - 3 = ☐	8 - 5 = ☐

4 Selesaikan masalah operasi tolak.

Ada 6 biji epal. 2 biji epal dimakan.
Berapa biji epal yang tinggal?



☐ - ☐ = ☐

Ada 5 ekor burung di atas dahan.
3 ekor burung terbang pergi.
Berapa ekor burung yang tinggal?



☐ - ☐ = ☐

LIVEWORKSHEETS

Latihan Matematik

1 Bimbing dan sebut nombor. Ikut titik-titik.

1 2 3 4 5 6 7 8 9 10

11 12 13 14 15 16 17 18 19 20

2 Lengkapkan urutan nombor menaik.

11 ☐ 13 ☐ 15 ☐ 17 ☐ 19 ☐

1 ☐ 3 ☐ 5 ☐ 7 ☐ 9 ☐

3 Lengkapkan urutan nombor menurun.

20 ☐ 18 ☐ 16 ☐ 14

10 ☐ 8 ☐ 6 ☐ 4

4 Kira dan tulis jawapan yang betul.

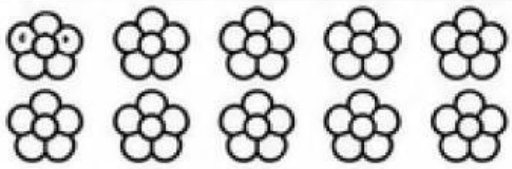

Ada ☐ bunga.



Ada ☐ kek.



Ada ☐ epal.

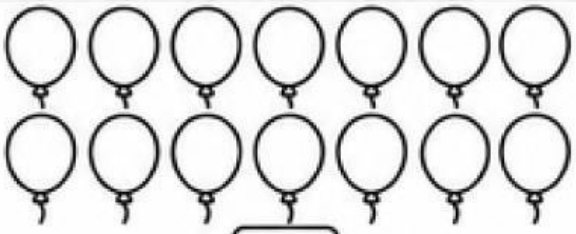

Ada ☐ belon.

LIVEWORKSHEETS

Latihan Matematik

1 Padankan nombor dengan perkataan yang betul.

10	•	•	tiga puluh
20	•	•	sepuluh
30	•	•	lima puluh
40	•	•	dua puluh
50	•	•	empat puluh

60	•	•	lapan puluh
70	•	•	enam puluh
80	•	•	seratus
90	•	•	tujuh puluh
100	•	•	sembilan puluh

2 Lengkapkan nombor yang tertinggal.

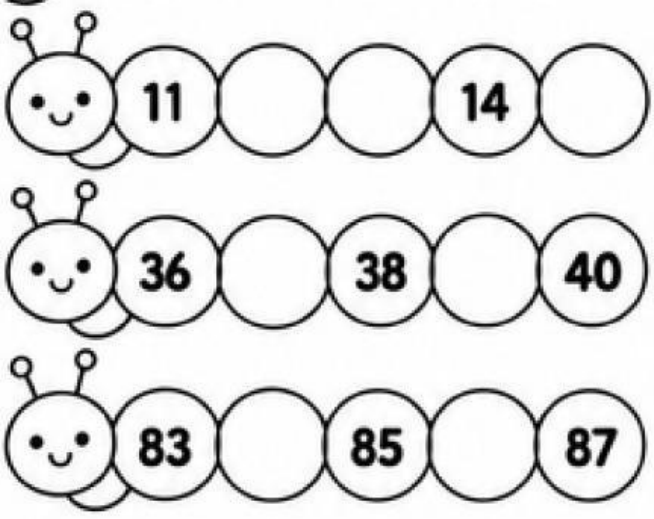

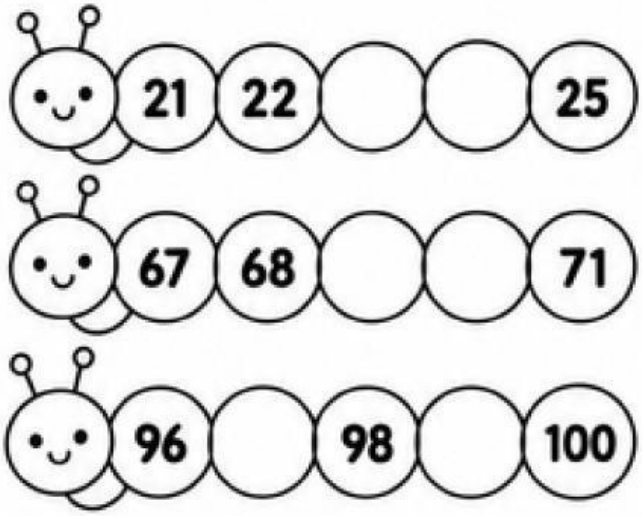

3 Kira dan tulis nombor. (Mengira sepuluh - sepuluh)

Tuliskan nombor yang tertinggal.







LIVEWORKSHEETS

Latihan Matematik

1 Tulis ayat matematik berdasarkan gambar.



□ + □ = □



□ + □ = □



□ - □ = □



□ - □ = □

2 Kira dan tulis jawapan yang betul. (Tambah)

2 + 3 = □	4 + 5 = □	6 + 1 = □	7 + 2 = □
3 + 4 = □	5 + 2 = □	8 + 1 = □	9 + 3 = □
6 + 4 = □	7 + 5 = □	8 + 6 = □	9 + 7 = □

3 Kira dan tulis jawapan yang betul. (Tolak)

5 - 2 = □	8 - 3 = □	7 - 4 = □	9 - 1 = □
6 - 1 = □	10 - 2 = □	8 - 5 = □	9 - 3 = □
4 - 3 = □	7 - 2 = □	10 - 6 = □	10 - 5 = □

4 Selesaikan operasi tolak.



□ - □ = □



□ - □ = □



□ - □ = □



□ - □ = □

LIVEWORKSHEETS

Latihan Matematik

1 Sebut dan kenal mata wang Malaysia.

Warnakan dan sebut nilai setiap syiling.



2 Tulis nilai wang yang betul.

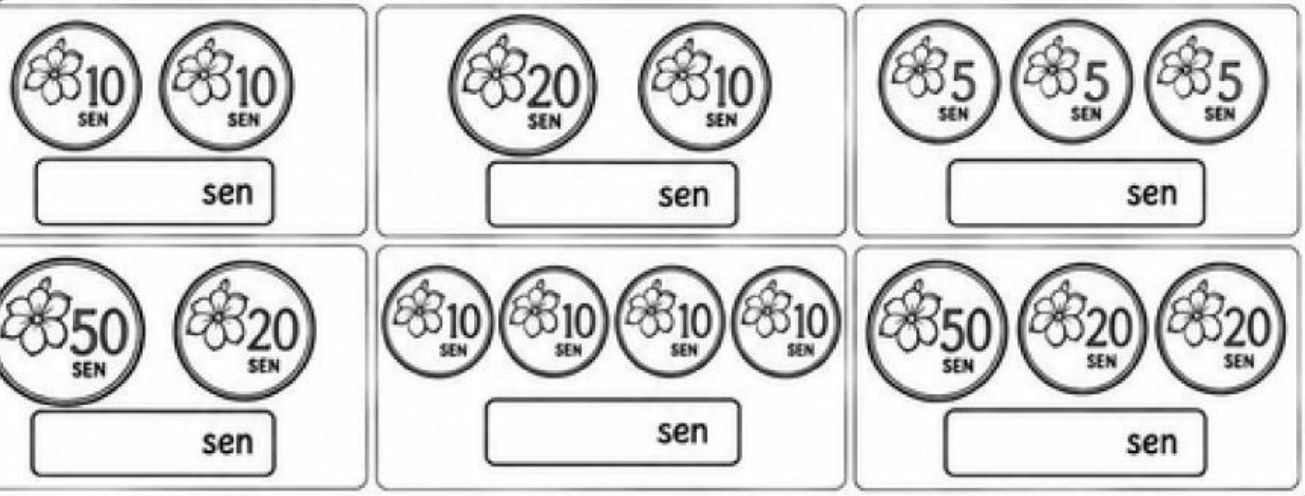

3 Aktiviti jual beli.

Tulis harga dan kira jumlah wang yang perlu dibayar.



4 Kira jumlah wang.

Tulis jumlah wang bagi setiap pilihan.

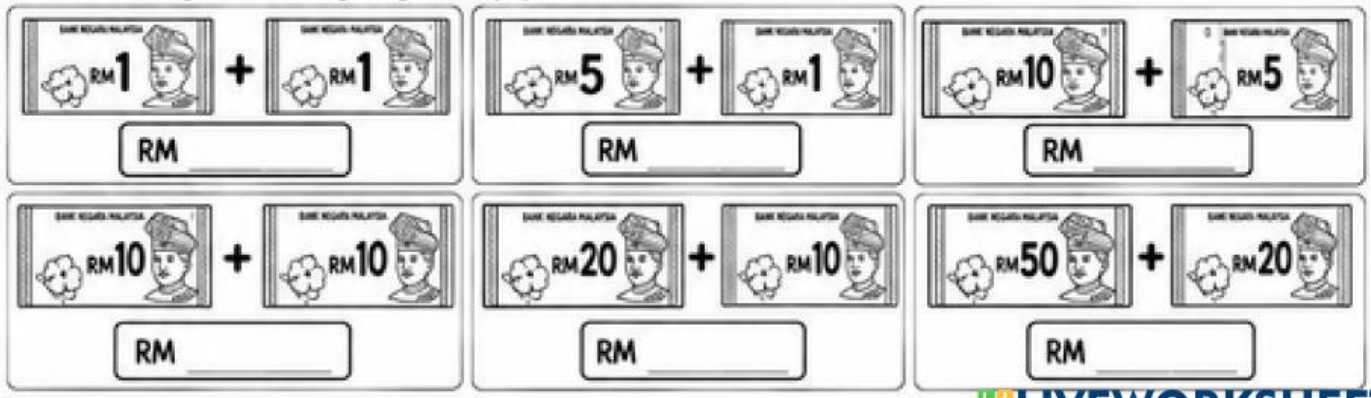

LIVEWORKSHEETS

Latihan Matematik

1 Tulis waktu yang ditunjukkan oleh jarum jam.



2 Padankan waktu dengan aktiviti harian yang betul.

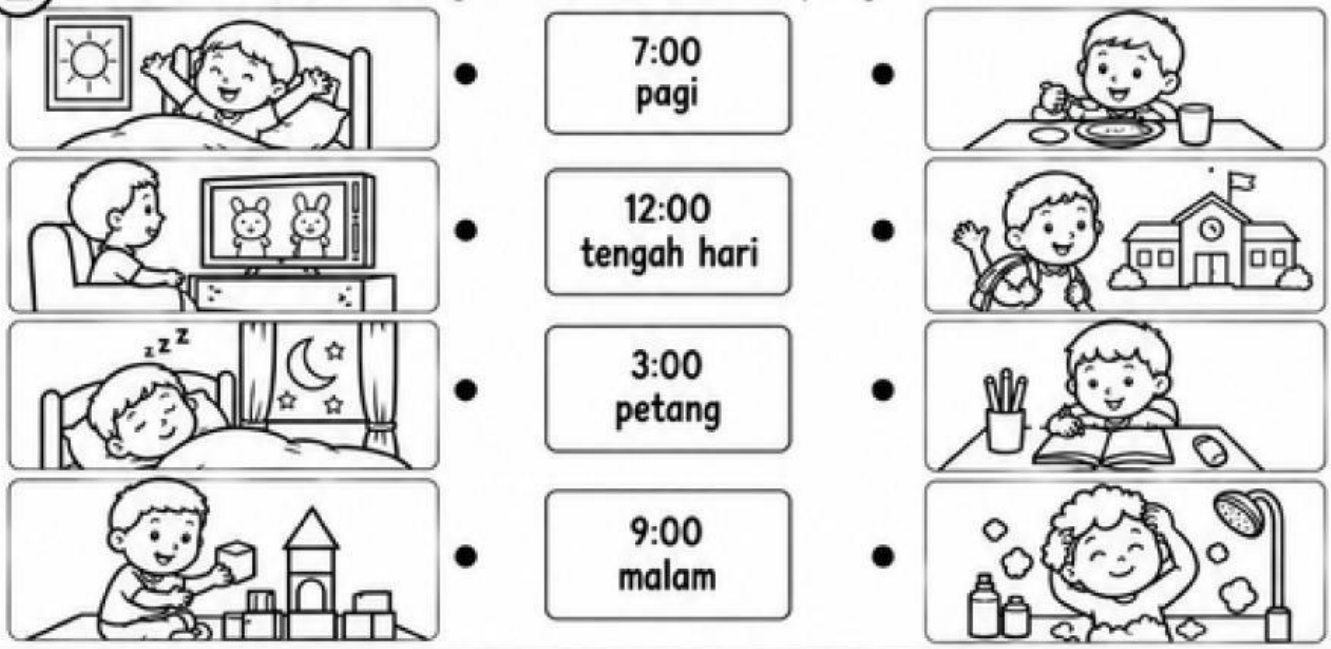

3 Pilih nama bentuk yang betul dan tulis pada tempat kosong.

bintang | bulatan | segi empat sama | segi empat tepat | segi tiga | bujur

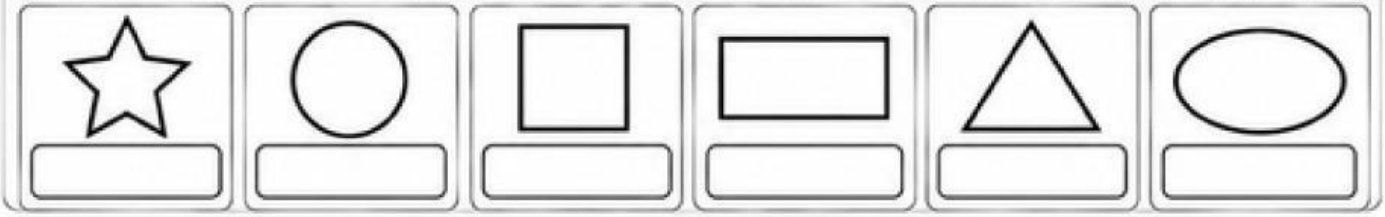

4 Kira dan tulis jumlah setiap bentuk.

Warnakan bentuk yang sama dengan warna yang sama.

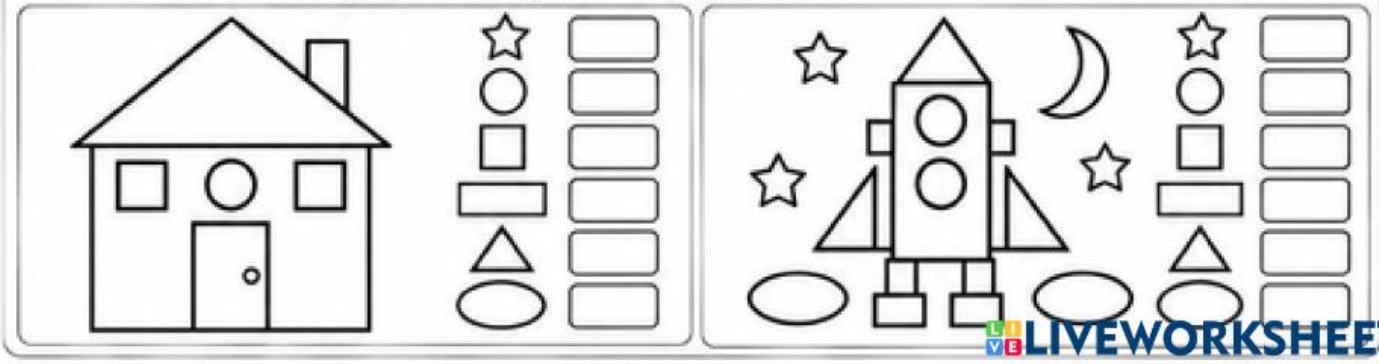

LIVEWORKSHEETS