25. Rajah di bawah menunjukkan unjuran ortogon pada satah *MNOP*. Tandakan (√) bagi unjuran ortogon yang betul dan (*X*) bagi yang salah.

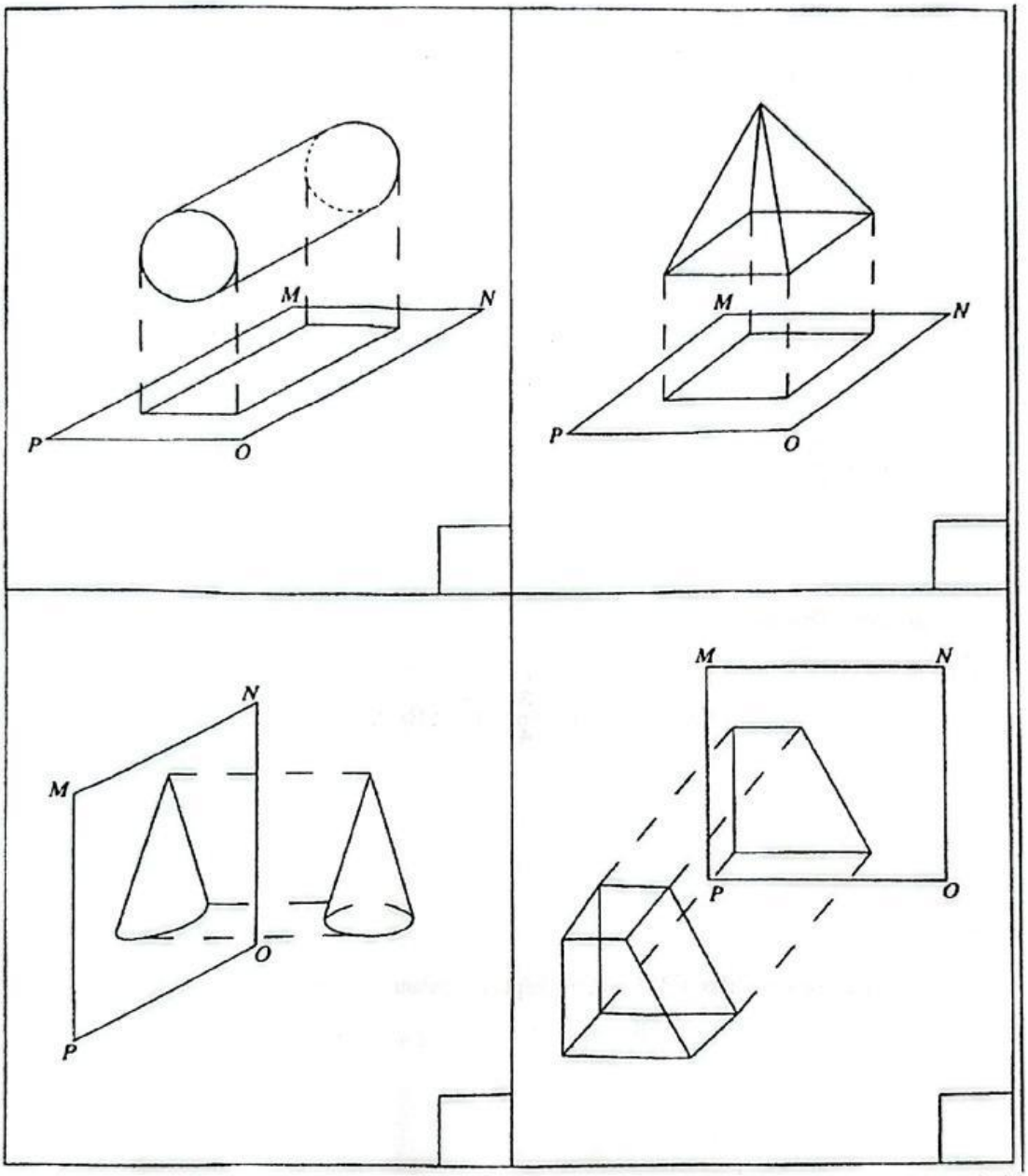

[4 markah]

LIVEWORKSHEETS

23. Diberi garis lurus $2y = x + 10$. Tandakan (√) pada titik yang terletak pada garis lurus itu dan (X) pada titik yang tidak.

(i) $(2, -8)$ ☐ (ii) $(-3, 16)$ ☐

(iii) $(-4, 3)$ ☐ (iv) $(1, 12)$ ☐

[4 markah]

24. (a) Rajah di bawah menunjukkan sebuah sisi empat kitaran, *PQRS*. *PQU* dan *RST* ialah garis lurus.

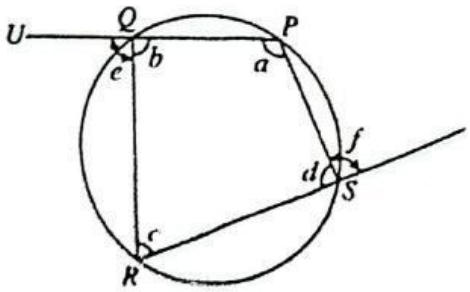

Tandakan (√) pada pernyataan yang betul dan (X) bagi pernyataan yang tidak betul.

$a = f$	
$b + d = 180^0$	

[2 markah]

(b) Dalam rajah di bawah, *PR* dan *QR* masing-masing ialah tangen kepada bulatan yang berpusat O.

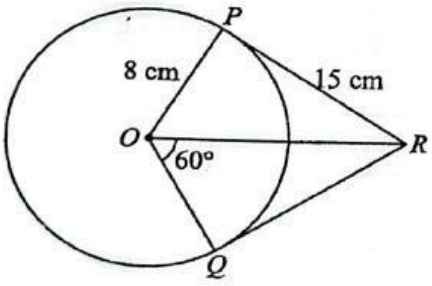

Tandakan (√) pada pernyataan yang betul dan (X) bagi pernyataan yang tidak betul.

$\angle PRQ = 60^0$	
Perimeter sisiempat *POQR* ialah 46cm.	

[2 markah]

LIVEWORKSHEETS