ULANG KAJI BAHAGIAN B PSV

Isi tempat kosong di bawah dengan bahagian-bahagian Wau Bulan dengan betul.

Sayap	Kepala	Pinggang
Bilah ekor	Leher	Bulan penuh

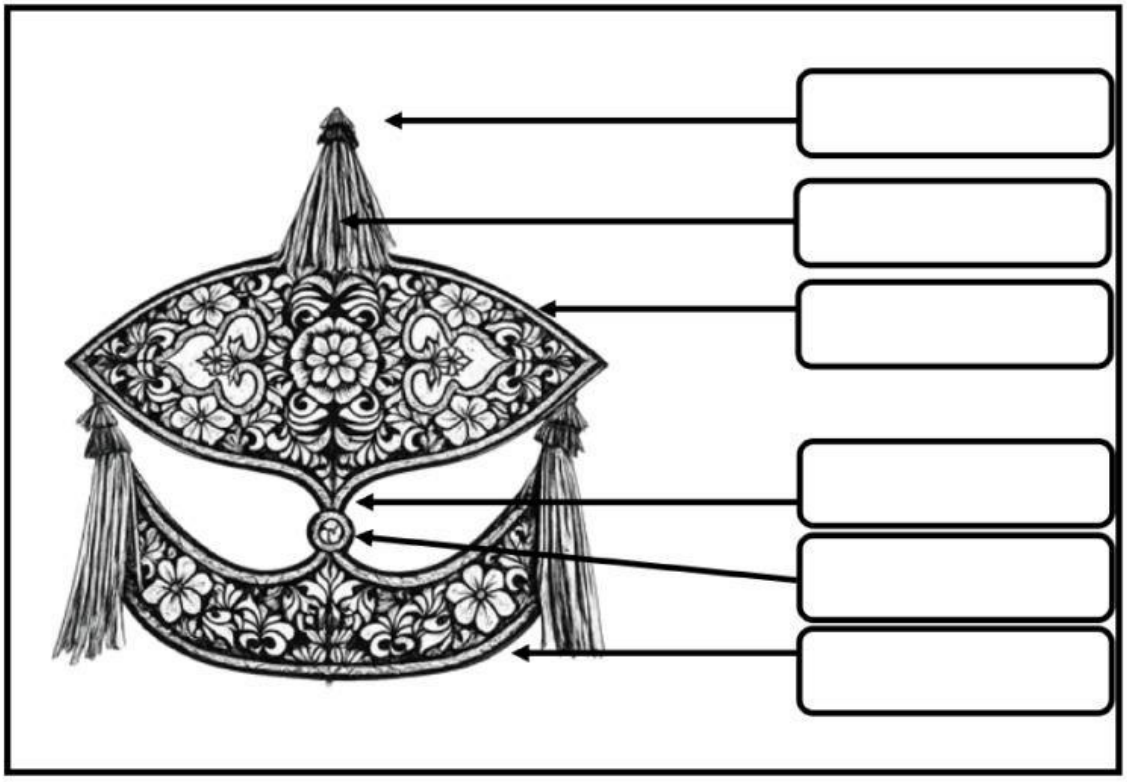

LIVEWORKSHEETS

Namakan jenis susunan corak terancang berdasarkan gambar di bawah.

Susunan sisik ikan	Susunan berpancar
Susunan orgee	Susunan turun separa

a)



b)



c)



d)



LIVEWORKSHEETS

Namakan alat perhiasan diri di bawah dengan betul.

Dokoh	Gelang kaki	Gelang tangan
Pending	Cucuk sanggul	

a) 

b) 

c) 

d) 

e) 

LIVEWORKSHEETS

Namakan jenis susunan corak tidak terancang berdasarkan gambar di bawah.

Ikatan dan celupan	Tiupan	Titisan
Lipatan dan guntingan	Renjisan dan percikan	

a)



b)



c)



d)

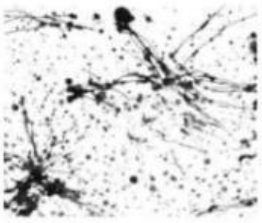

e)



LIVEWORKSHEETS

Hasilkan satu lakaran **CORAK BATIK** yang menarik dengan susunan dan pemilihan warna mengikut kreativiti anda.



LIVEWORKSHEETS

LATIHAN ULANG KAJI BAHAGIAN A

1. Garisan X ialah _____



2. Bahasa seni visual yang boleh dikaitkan dengan gambar ialah _____



3. Bentuk ilusi bersifat dua dimensi boleh digambarkan melalui berikut, kecuali
   A. ilustrasi
   B. gambar foto
   C. poster
   D. arca tiga dimensi

4. Nilai estetik dalam karya seni bermaksud _____
   _____

5. Selain teknik stensilan, susunan corak terancang juga boleh dihasilkan melalui
   _____.
   I. kolaj
   II. capan
   III. lukisan
   IV. anyaman buluh
6. Warna panas terdiri daripada _____.
7. Apakah contoh media kering dalam seni visual?
   A. Krayon
   B. Cat air
   C. Dakwat
   D. Cat poster
8. Hiasan yang tergantung di rantai leher dan diperbuat daripada emas atau perak serta batu permata ialah _____ .
9. Motiif yang biasa digunakan dalam menghias wau bulan ialah
   _____.
10. Bentuk ilusi bersifat dua dimensi boleh digambarkan melalui berikut, kecuali
    A. ilustrasi
    B. gambar foto
    C. poster
    D. arca tiga dimensi

LIVEWORKSHEETS