KELILING DAN LUAS BANGUN DATAR

KELAS 4 SEMESTER II

NURMARA NATALIA, S.Pd

SD NEGERI 1 SETAIL

LIVEWORKSHEETS

Keliling dan Luas Bangun Datar

Nama :

No. Absen :

A. Input Video

B. Input MP3

Ketik playmp3: lalu pilih file



C. Open Answer

Cukup buat kotak selesai

LIVEWORKSHEETS

D. Drop Down

1. *Ketik* choose:opsi1/opsi2/opsi3/*opsi4
2. *Beri tanda * pada kunci jawaban*

Pilihlah salah satu jawaban yang benar !

sebuah persegi memiliki Panjang sisi 6 cm. berapakah keliling persegi tersbut ?

E. Pilihan Ganda

Ketik select:yes *di kunci jawaban,* select:no *yang salah*

Segitiga yang salah satu sudutnya membentuk sudut 90° disebut

- Segitiga Sama Kaki
- Segitiga Sembarang
- Segitiga Siku siku
- Segitiga Sama sisi

F. Kontak Centang

Ketik tick:yes *di kunci jawaban,* tick:no *yang salah*

Sebuah Persegi Panjang memiliki ukuran Panjang 12cm dan lebar 8cm. Berapakah Luas persegi Panjang tersebut ?

- 20 CM^2
- 96 CM^2
- 40 CM^2
- 48 CM^2

LIVEWORKSHEETS

G. Menjodohkan dengan Garis

Ketik join:1 untuk dipasangkan dengan join:1

Pasangkan dengan menarik garis !

Tentukan luas bangun datar dibawah ini !

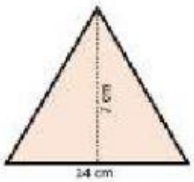

A. 64 cm^2



B. 49 cm^2

C. 120 cm^2

H. Drag & Drop

Ketik drag:1 untuk digeser ke drop:1 tempat melepasnya!

Klik/sentuh rumus berikut ini, kemudian letakkan sesuai dengan bangun datarnya!

½ x a x t

P x l

s x s

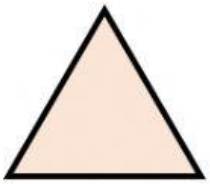

LIVEWORKSHEETS

LIVEWORKSHEETS