Họ và tên:……Lớp:……

PHIẾU ÔN TẬP CUỐI TUẦN

Mục tiêu

✓ Ôn tập bảng nhân 7, chia 7

✓ Bảng nhân, bảng chia 8, 9

PHẦN 1. TRẮC NGHIỆM

Bài 1. Cho dãy số sau: 8; 16; 24; 32;….;….;….; 64. Số thích hợp vào chỗ chấm là:

A. 33; 34; 35 B. 40; 48; 56 C. 33; 49; 57 D. 40; 50; 60

Bài 2. Có 60 kg gạo chia đều vào 6 bao. Hỏi mỗi bao đựng bao nhiêu ki-lô-gam gạo?

A. 10kg gạo B. 360kg gạo C. 54kg gạo D. 66kg gạo

Bài 3. Mai có 7 gói kẹo, mỗi gói có 8 cái kẹo. Vậy Mai có số cái kẹo là:

A. 12 cái kẹo B. 26 cái kẹo C. 54 cái kẹo D. 56 cái kẹo

Bài 4. Mỗi thùng dầu có 5*l* dầu. Hỏi 8 thùng dầu như thế có tất cả bao nhiêu lít dầu?

A. 24*l* dầu B. 40*l* dầu C. 16*l* dầu D. 6*l* dầu

Bài 5. Tính *(Theo mẫu)*

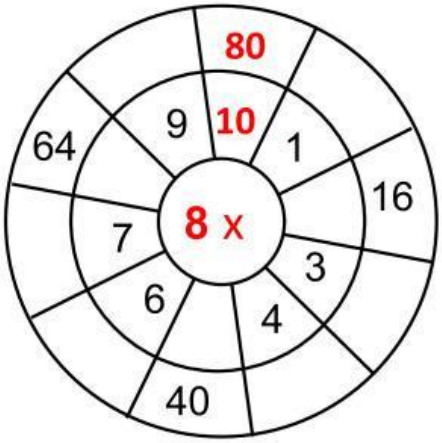

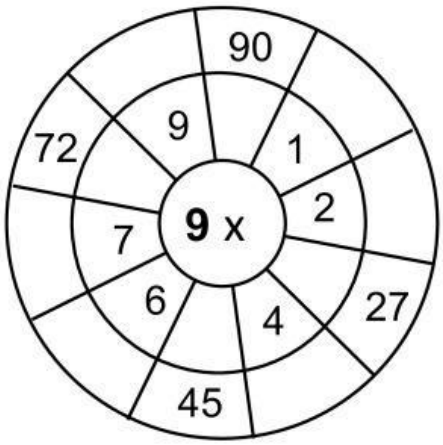

Bài 6. Viết số thích hợp vào ngôi sao trong bảng sau:

:	27	90	36	45	72
	9	9	9	9	9
	★	★	★	★	★

LIVEWORKSHEETS

Bài 7. Số?



PHẦN 2. TỰ LUẬN

Bài 1. Chú gấu sẽ lấy được bao nhiêu chiếc bánh có kết quả bé hơn 40?

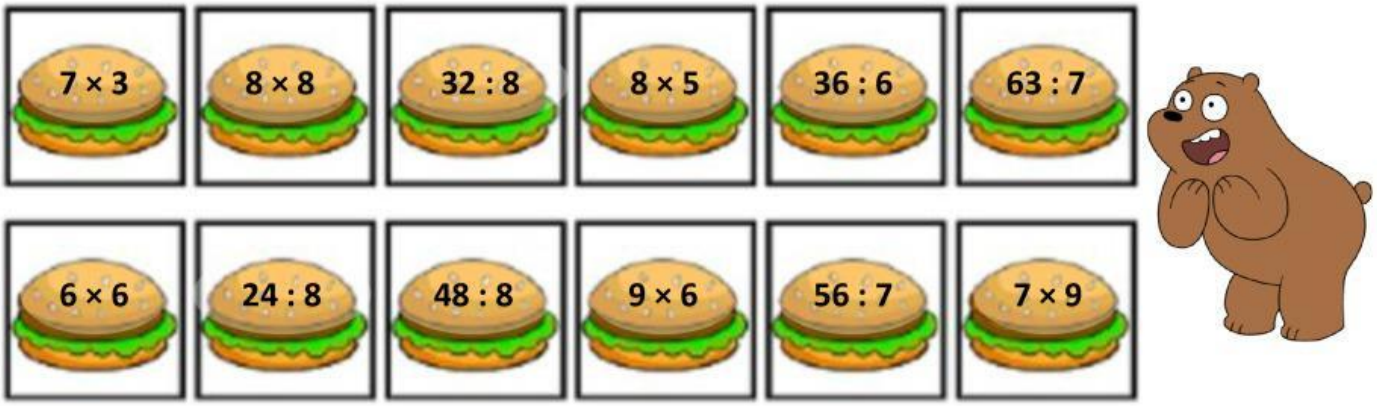

Trả lời: Chú gấu lấy được …… chiếc bánh.

Bài 2. Số?

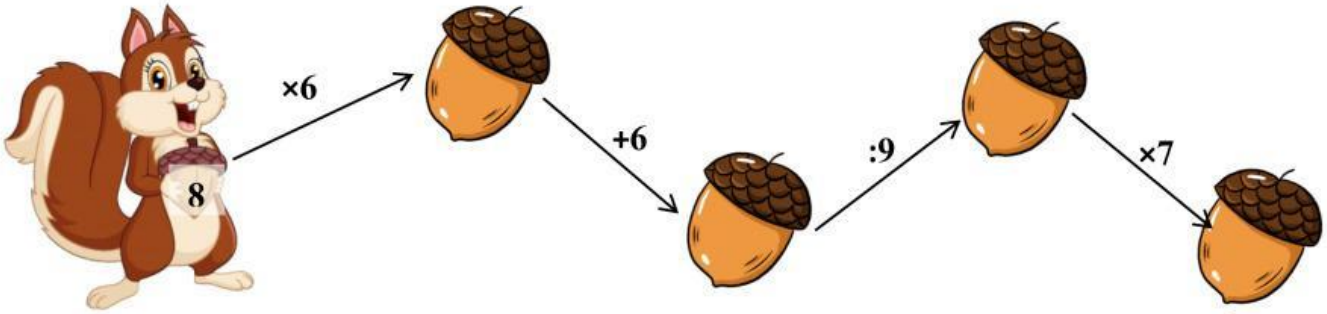

LIVEWORKSHEETS

Bài 3. Phép tính nào có kết quả bằng nhau?

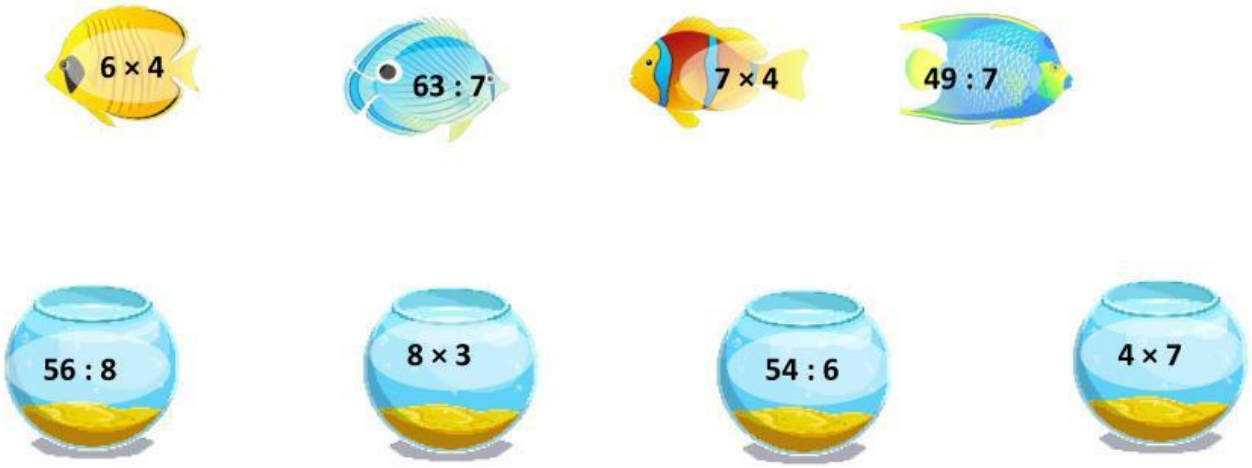
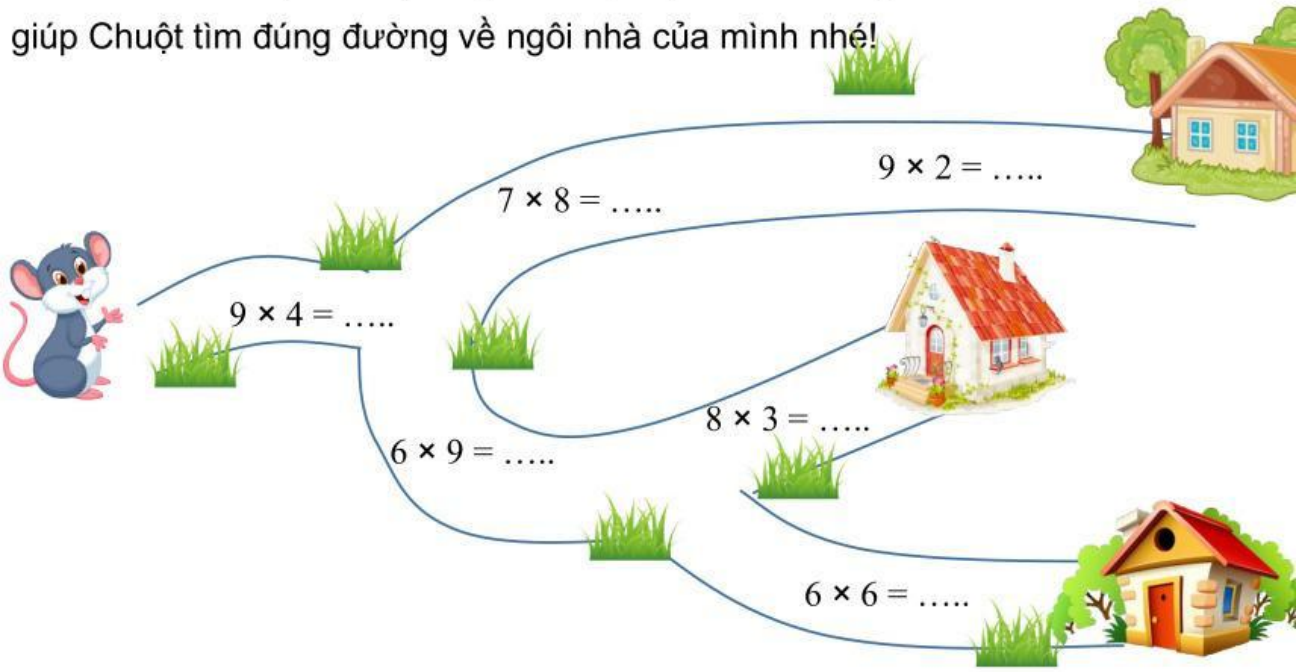
Bài 4. Nhà của bạn Chuột đi qua các phép tính có kết quả lớn hơn 35. Hãy giúp Chuột tìm đúng đường về ngôi nhà của mình nhé!