แกนสมมาตร

ชื่อ.....นามสกุล.....

ให้หาจำนวนเส้นแกนสมมาตรของรูปเรขาคณิตต่อไปนี้

1)



จำนวนเส้นแกนสมมาตร ____ แกน

2)



จำนวนเส้นแกนสมมาตร ____ แกน

3)

จำนวนเส้นแกนสมมาตร ____ แกน

4)



จำนวนเส้นแกนสมมาตร ____ แกน

5)

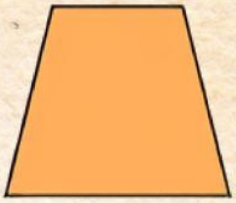

จำนวนเส้นแกนสมมาตร ____ แกน

6)



จำนวนเส้นแกนสมมาตร ____ แกน



7.) จำนวนแกนสมมาตร _____ แกน

LIVEWORKSHEETS