تحليل الدوال

القسم الأول

الفترات

1 2025 — تجميع تلو ★★★

ما الفترة التي تُمثل المتباينة $5 > x \geq -3$ ؟

أ $[-3,5]$ ب $(-3,5)$ ج $[-3,5)$ د $(-3,5]$

2 2025 — تجميع تلو ★★★

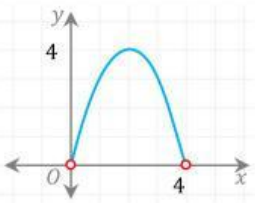
ما المتباينة التي تُمثل الفترة $(-\infty,8]$ ؟

أ $x \leq 8$ ب $x \geq 8$ ج $x < 8$ د $x > 8$

تحليل التمثيل البياني للدوال

3 2025 — تجميعات تلو ★★★

ما مدى الدالة $f(x)$ الممثلة في الشكل؟

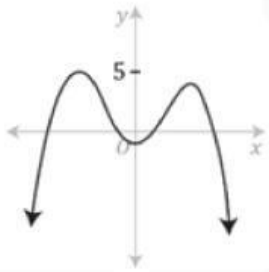


أ $(0,4)$ ب $(0,4]$

ج $[0,4]$ د $(-4,4)-\{0\}$

4 2025 — تجميع تلو ★★★

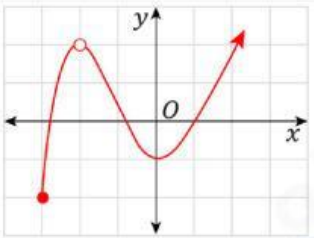
في الشكل ما مدى الدالة؟



أ $(5,\infty)$ ب $(-\infty,5]$ ج $[0,0]$ د $(0,5)$

5 2021 — تجميعات تلو ★★★

ما مجال الدالة $y = f(x)$ في الشكل؟

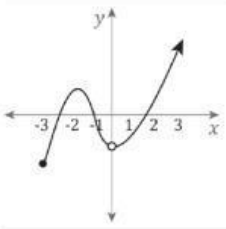


أ $[-3,-2) \cup (-2,\infty)$ ب $(-\infty,-3) \cup (-3,\infty)$

ج $(-3,-1) \cup (-1,\infty)$ د $[-\infty,-2) \cup (-2,\infty)$

6 2023 — تجميعات تلو ★★★

حدد مجال الدالة من الشكل التالي:

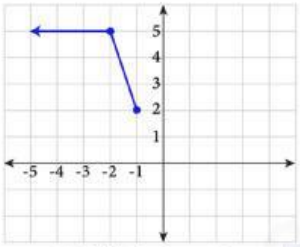


أ $[-3,0) \cup (0,\infty)$ ب R^+

ج R د $R-\{1\}$

7 2024 — تجميعات تلو ★★★

مدى الدالة في الشكل:

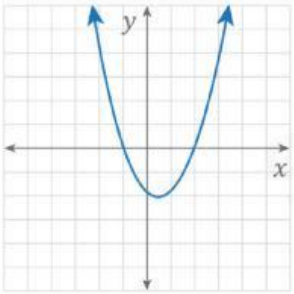


أ $\{f(x)|f(x) \geq 0\}$ ب $\{f(x)|f(x) \geq 5\}$

ج $\{f(x)|f(x) \geq 2\}$ د $\{f(x)|2 \leq f(x) \leq 5\}$

8 2023 — تجميعات تلو ★★★

أي التالي يمثل الدالة...



أ $(x+2)(x-1)$ ب $(x-2)(x+1)$

ج $(x-2)(x-1)$ د $(x+2)(x+1)$

9 2024 — تجميعات تلو ★★★

الدالة $\frac{y^3}{x^5} = -5$ ...

أ متماثلة حول x ب متماثلة حول نقطة الأصل

ج متماثلة حول محور y د غير متماثلة

10 2025 — تجميع تلو ★★★

أوجد مقطع y للدالة $f(x) = x^2 + 5x + 6$.

أ 0 ب 11 ج 5 د 6

11 2025 — تجميع تلو ★★★

منحنى الدالة: $y = 2x^2 - 5x + 3$ يقطع محور y عند النقطة ..

أ $(0,2)$ ب $(0,3)$ ج $(0,5)$ د $(0,10)$

الدوال الفردية والزوجية

12 2021 — تجميعات تلو ★★★

الدالة $f(x) = x^3 - 4x$ تُعد ..

أ فردية ب زوجية

ج فردية وزوجية د ليست فردية ولا زوجية

13 2023 — تجميعات تلو ★★★

الدالة $f(x) = x^5 + 5x^2 - x$ دالة...

أ فردية وزوجية معاً ب ليست فردية أو زوجية

ج زوجية د فردية

LIVEWORKSHEETS

14 **2024** تجميعات تلو ★★★

الدالة $f(x) = x^5 + x^3 + x$ تعتبر...

أ	ليست فردية ولا زوجية	ب	فردية وزوجية معاً
ج	زوجية	د	فردية

15 **2024** تجميعات تلو ★★★

ما نوع الدالة $f(x) = \frac{x^2+x}{x}$ ؟

أ	فردية	ب	ليست فردية ولا زوجية
ج	زوجية	د	فردية وزوجية معًا

16 **2023** تجميعات تلو ★★★

الدالة $f(x) = 5x^3 + x^5 - x$ تُعد دالة ..

أ	فردية	ب	زوجية
ج	فردية وزوجية معاً	د	لا فردية ولا زوجية

17 **2025** تجميعات تلو ★★★

الدالة $f(x) = x^3 + 5x^2 - x$ دالة...

أ	فردية وزوجية معًا	ب	ليست فردية ولا زوجية
ج	زوجية	د	فردية

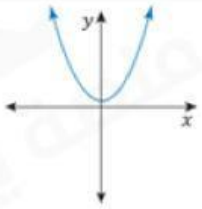
18 **2023** تجميعات تلو ★★★

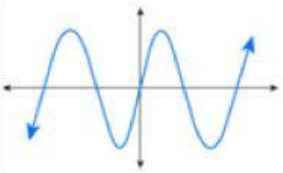
إذا كانت $f(x)$ دالة فردية، فأي مما يأتي دالة فردية؟

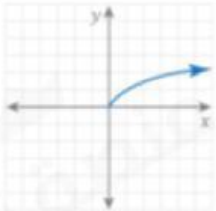
أ	$-f(x)$	ب	$\lvert f(x)\rvert$
ج	$-\lvert f(x)\rvert$	د	$f(\lvert x\rvert)$

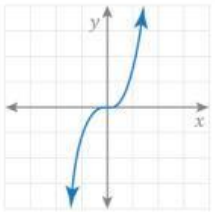
19 **2025** تجميعات تلو ★★★

أي الدوال التالية زوجية؟

أ 

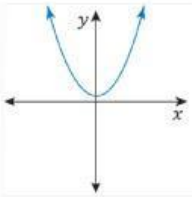
ب 

ج 

د 

20 **2024** تجميعات تلو ★★★

الدالة الممثلة في الشكل...



أ	فردية	ب	لا فردية ولا زوجية
ج	زوجية	د	متماثلة حول محور x

21 **2023** تجميعات تلو ★★★

الدالة $f(x) = x^5 - 3x^3 + x$ دالة...

أ	فردية وزوجية معاً	ب	ليست فردية أو زوجية
ج	زوجية	د	فردية

LIVEWORKSHEETS