El plano cartesiano

1 **Lee y responde. El Capitán Valiente escondió el cofre del tesoro en una isla misteriosa. ¡Sigue las pistas y la encontrarás! Usa el plano cartesiano y dibuja el cofre en el punto donde está el tesoro.**

A. Comienza en el punto (1, 2)
B. Avanza 3 unidades hacia la derecha
C. Sube 2 unidades.
D. Avanza 2 unidades hacia la derecha.
E. Sube 3 unidades.
F. Avanza 1 unidad hacia la derecha.
G. Sube 1 unidad.
H. Avanza 1 unidad hacia la derecha.

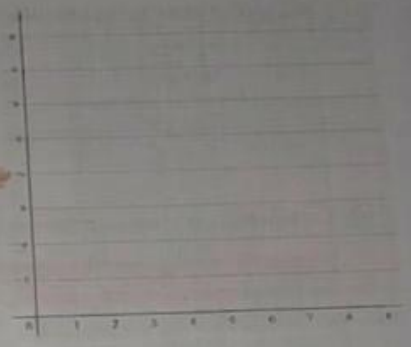

- ¿En qué punto está el tesoro? .....

2 **Lee y responde. Cuatro amigas viven en un edificio de 4 pisos. Ruth vive en el 4.º piso. Eva, un piso más arriba que Bina y un piso más abajo que Sandra.**

Piso	Amiga	Coordenadas
4.º		
3.º		
2.º		
1.º		

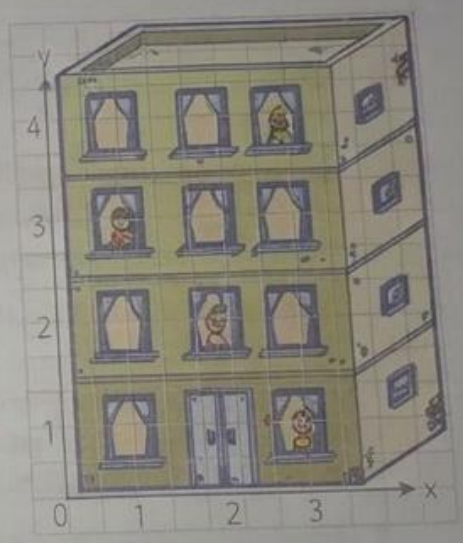

- Completa la tabla con las coordenadas de cada una e indica en qué piso y departamento viven.
  - Ruth piso ....., depto. .....
  - Sandra piso ....., depto. .....
  - Eva piso ....., depto. .....
  - Gina piso ....., depto. .....

3 **Ubica los pares ordenades, únelos con líneas rectas en orden alfabético y encuentra la figura. Luego, pintala a tu gusto.**

B (6; 6)	C (2; 4)	F (2; 4)
A (8; 4)	D (1; 5)	G (6; 2)
E (1; 3)	H (7; 3)	I (7; 5)

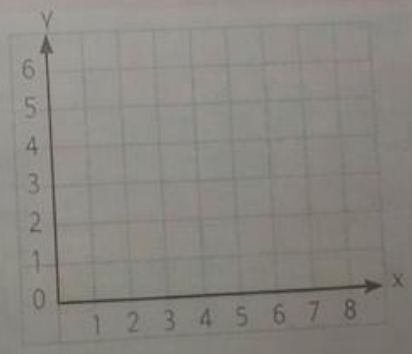

LIVEWORKSHEETS