ชื่อ.....เลขที่.....ชั้น อนุบาล3

ใบงาน

เรื่อง ตัวเลขกับจำนวน 1-10

ชุดที่ 10

คำชี้แจง ให้เด็กๆเติมตัวเลขให้เท่ากับจำนวนสัตว์

1	2	3	4	5
6	7	8	9	10











ครูมาศ
โรงเรียนบ้านดงเดง

LIVEWORKSHEETS