ชื่อ.....เลขที่.....ชั้น อนุบาล3

ใบงาน

เรื่อง ตัวเลขกับจำนวน 1-10

ชุดที่ 9

คำชี้แจง ให้เด็กๆเติมตัวเลขให้เท่ากับจำนวนผลไม้

1	2	3	4	5
6	7	8	9	10













ครูมาศ
โรงเรียนบ้านควนจง

LIVEWORKSHEETS