MATEMÁTICA 4° AÑO 2021

TRIÁNGULOS RECTÁNGULOS

1) Observa los siguientes triángulos y selecciona la opción correcta:

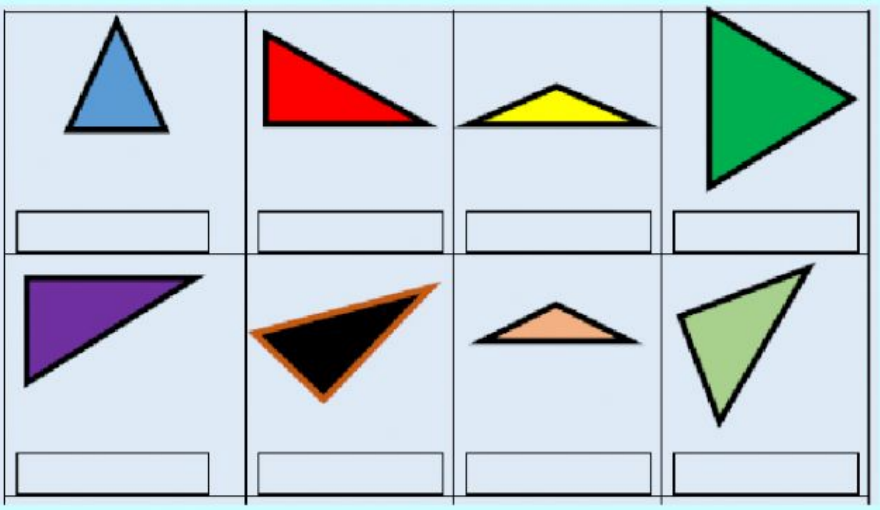

2) Dados los siguientes triángulos rectángulos, ubica el nombre del lado correspondiente según el ángulo agudo marcado:

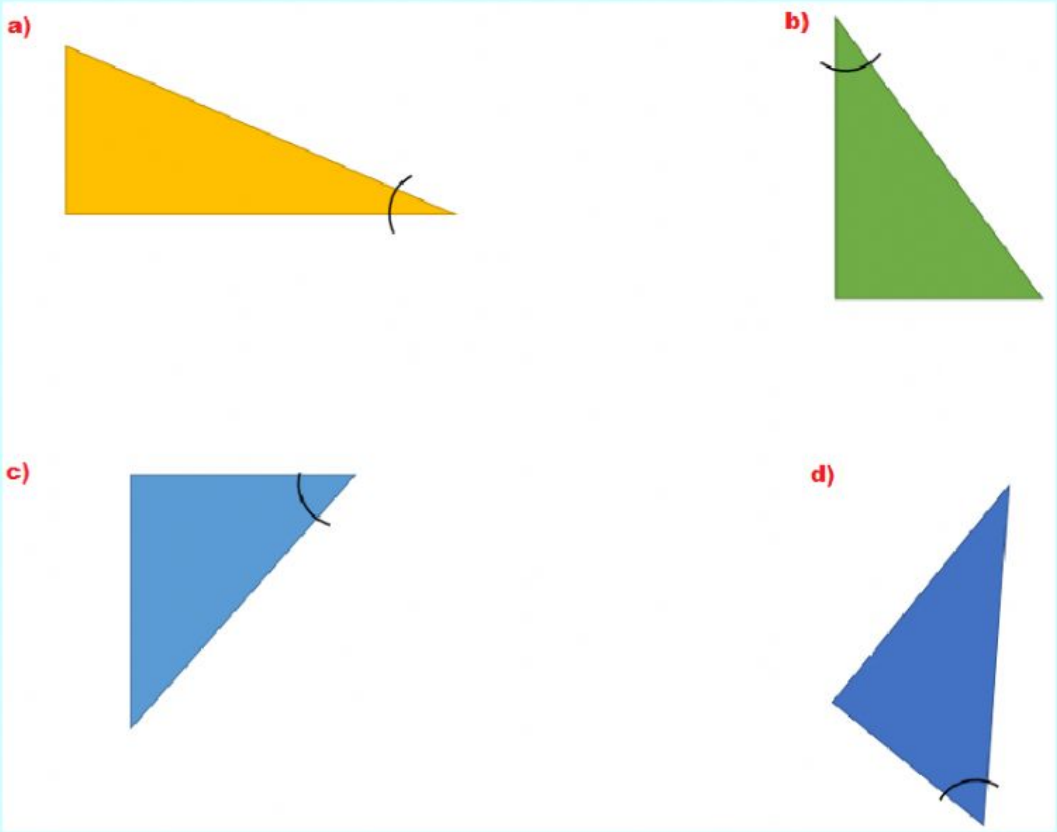

LIVEWORKSHEETS

3) **Dado el siguiente triángulo:**

a) **Selecciona en la tabla el lado que corresponda según la razón trigonométrica dada.**

b) **Arrastra a la tabla las opciones presentadas según el ángulo que corresponda:**

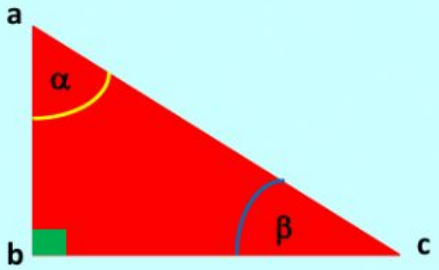

Razón trigonométrica		Ángulo α	Ángulo β
Seno	_____	$\frac{\lvert\widehat{bc}\rvert}{\lvert\widehat{ac}\rvert}$	
Coseno	_____	$\frac{\lvert\widehat{ab}\rvert}{\lvert\widehat{ac}\rvert}$	
Tangente	_____		

Opciones:

$\frac{\lvert\widehat{ba}\rvert}{\lvert\widehat{ac}\rvert}$ $\frac{\lvert\widehat{bc}\rvert}{\lvert\widehat{ca}\rvert}$ $\frac{\lvert\widehat{ab}\rvert}{\lvert\widehat{cb}\rvert}$ $\frac{\lvert\widehat{cb}\rvert}{\lvert\widehat{ba}\rvert}$

LIVEWORKSHEETS