82 Десяток. Числа 11 – 15

ФікСики

Вивчаю нове

Давай разом з Фіксиками вивчати числа!

1. Полічи кубики. Прочитай назви чисел. Запиши суми.

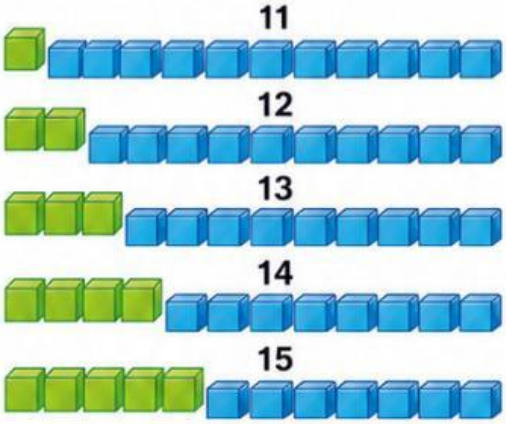

Одинадцять	1 + 10 = 11
Дванадцять	☐ + ☐ = ☐
Тринадцять	☐ + ☐ = ☐
Чотирнадцять	☐ + ☐ = ☐
П'ятнадцять	☐ + ☐ = ☐

1	2	3	4	5	6	7	8	9	10	11	12	13	14	15

Тренуюсь

2. Заповни таблицю.

11	одинадцять	☐
12	п'ятнадцять	☐
13	дванадцять	☐
14	чотирнадцять	☐
15	тринадцять	☐

3. Запиши пропущені числа.

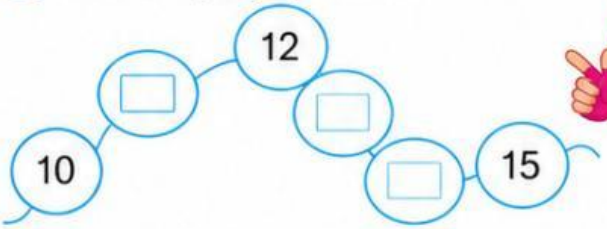

Розв'язую задачі

4. В автобусі їхало 8 пасажирів. На зупинці вийшло 3 пасажири. Скільки пасажирів і пасажирок залишилося в автобусі?

Відповідь: ☐ пасажирів і пасажирок.

Будую фігури

5. Відтвори малюнок.

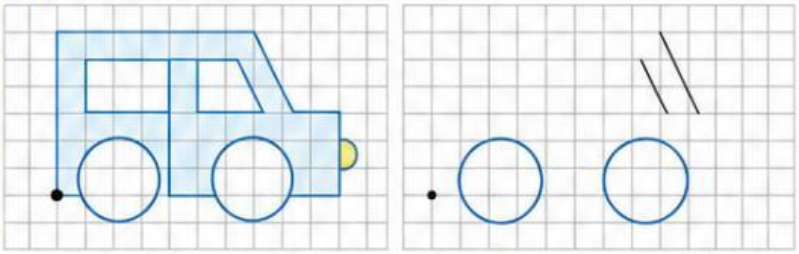

Повторюю

6. Запиши склад числа 8.

Міркую

7. Олесь і Руслан мають однакову кількість маркерів. Визначте, скільки маркерів міститься в пеналі.

У пеналі ☐ маркери.

LIVEWORKSHEETS