LEMBAR KERJA MURID

Ilmu Pengetahuan Alam

Tema: Sistem Pencernaan Manusia

Nama: _____



LIVEWORKSHEETS

VIDEO

Pembelajaran

https://youtu.be/8gvvB9POcVQ?si=Azn9W862vlCOtGzx

LIVEWORKSHEETS

Jawablah pertanyaan berikut dengan benar!

Kegiatan 1.

1. **Proses dimana tubuh mengubah makanan yang kita makan menjadi energi dan nutrisi yang dibutuhkan. Proses ini dimulai dari mulut dan berakhir di anus**

.....

.....

.....

.....

2. **Sebutkan urutan organ <u>saluran pencernaan</u> pada manusia secara berurutan dari awal hingga akhir!**

.....

.....

.....

.....

.....

3. **Bagian akhir dari saluran pencernaan yang berfungsi menyerap air dan garam dari sisa makanan yang tidak dapat di cerna?**

.....

.....

.....

.....

.....

LIVEWORKSHEETS

Petunjuk :

Pasangkanlah nama organ sesuai dengan gambar organ pencernaan dibawah ini dengan benar! Dengan cara menarik garis dari gambar kemudian disesuai dengan nama organ sistem pencernaan.

Kegiatan 2.

Anus

Lambung

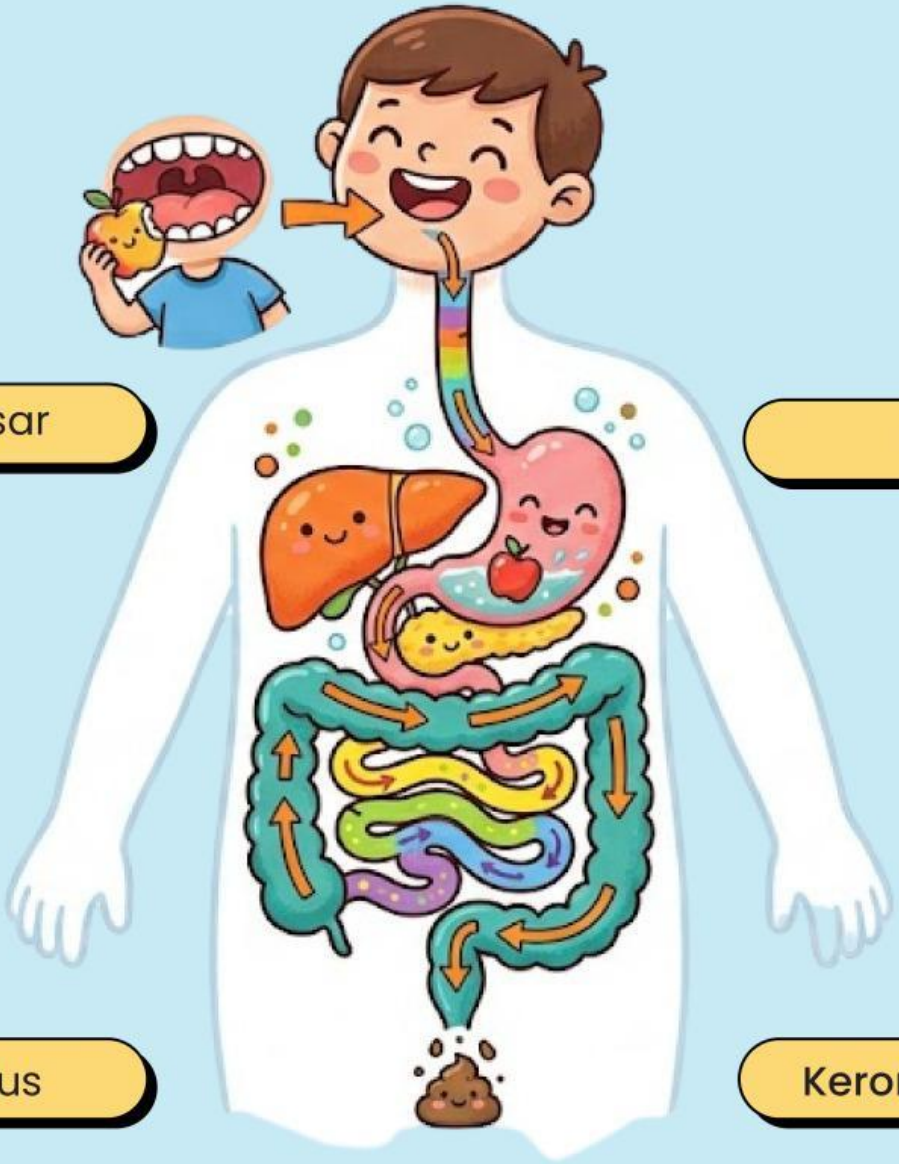

Usus Besar

Mulut

Usus Halus

Kerongkongan

LIVEWORKSHEETS

Pilihlah nama organ yang sesuai dengan fungsi organ perncernaannya

Kegiatan 3.

Nama Organ



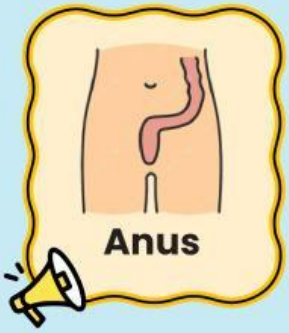

Fungsi Organ

- Tempat Masuknya Makanan
- Tempat proses pencernaan makanan secara kimiawi
- Mengubungkan Rongga mulut dengan lambung
- Lubang tempat keluarnya feses dari dalam tubuh
- Penyerap nutrisi makanan
- Penyerap air,vitamin dan mineral dari sisa makanan

LIVEWORKSHEETS

Kegiatan 4.

A Urutkan Proses Pencernaan Makanan

B Seret dan letakkan organ percernaan sesuai urutan pencernaan yang benar

1

2

3

4

5

6

Anus

Usus Halus

Kerongkongan

Mulut

Lambung

Usus Besar

LIVEWORKSHEETS