HỌ VÀ TÊN.....LỚP.....

Dạng 1: Trắc nghiệm nhiều lựa chọn

Câu 1: Thành phần nào có ở cả tế bào nhân sơ và tế bào nhân thực?

A. Màng sinh chất B. Màng nhân C. Lục lạp D. Không bào trung tâm

Câu 2: Bào quan nào thực hiện quá trình quang hợp ở tế bào thực vật?

A. Ti thể B. Lục lạp C. Ribosome D. Nhân tế bào

Câu 3: Từ 1 tế bào ban đầu, sau khi trải qua 3 lần phân chia liên tiếp sẽ tạo ra bao nhiêu tế bào con?

A. 4 tế bào B. 6 tế bào C. 8 tế bào D. 16 tế bào

Dạng 2: Bài tập Đúng - Sai

Đề bài: Xác định các nhận định sau là Đúng hay Sai:

Nhận định	Đúng	Sai
a. Tất cả các loài sinh vật trong tự nhiên đều được cấu tạo từ nhiều tế bào.		
b. Màng sinh chất bao bọc tế bào và kiểm soát các chất đi vào, đi ra khỏi tế bào.		
c. Tế bào nhân sơ đã có màng nhân bao bọc vật chất di truyền.		
d.Sự lớn lên và phân chia của tế bào là cơ sở cho sự phát triển của cơ thể sinh vật.		

Dạng 3: Bài tập Ghép đôi (Nối)

Đề bài: Nối thành phần ở Cột A với chức năng tương ứng ở Cột B.

1. Màng sinh chất	a. Nơi diễn ra hầu hết các hoạt động sống của tế bào
2. Tế bào chất	b. Bao bọc và kiểm soát các chất đi vào, đi ra khỏi tế bào
3. Nhân tế bào	c. Quy định hình dạng vững chắc cho tế bào thực vật
4. Thành tế bào	d. Chứa vật chất di truyền, điều khiển mọi hoạt động

Dạng 4: Điền khuyết / Kéo - thả

Đề bài: Điền các từ cho sẵn vào vị trí thích hợp (1), (2), (3), (4) trong đoạn văn

kích thước **sinh trưởng** **phân chia** **hai tế bào con**

"Tế bào mới hình thành có kích thước nhỏ. Nhờ quá trình trao đổi chất, tế bào tăng dần về (1) _____, quá trình này gọi là sự (2) _____ của tế bào. Khi đạt đến một kích thước nhất định, tế bào thực hiện sự (3) _____ để tạo ra (4) _____ ."

LIVEWORKSHEETS

Dạng 5: Tìm từ khoá về nội dung bài

Cho bảng chữ cái bên dưới, hãy tìm **5 từ khóa** viết tắt không dấu liên quan đến chủ đề Tế bào (KHTN 6).

T	E	B	A	O	L
H	K	N	M	U	T
L	N	H	C	K	U
P	H	L	K	A	R
H	A	E	D	V	B
P	N	J	M	S	Q

Dạng 6: Nhìn hình đoán tên

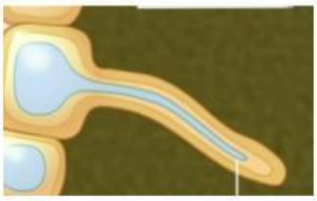

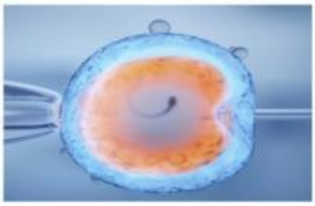

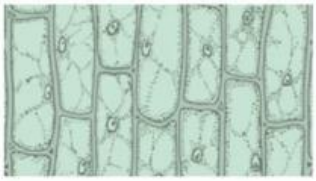

LIVEWORKSHEETS