Họ và tên: .....

Ngày …. tháng …. năm 202…

PHIẾU PHÁT TRIỂN TƯ DUY
(SỐ 19)

1. Đếm số các hình sau và viết số thích hợp vào ô trống.



2. Con hãy khoanh vào bóng của bạn Sâu và bạn Hổ nhé!





3. Khoanh vào hình phù hợp quy luật







LIVEWORKSHEETS