BÀI 7

ĐO GÓC, ĐƠN VỊ ĐO GÓC

Tiết 1

1 Quan sát thước đo góc rồi viết số đo của mỗi góc vào chỗ chấm.

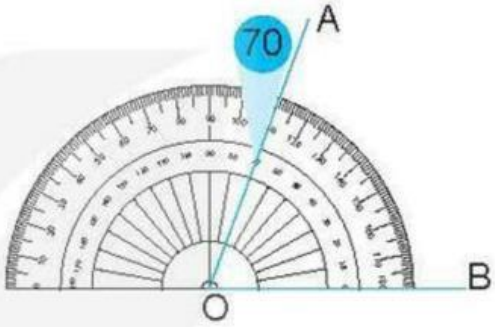

Góc đỉnh O; cạnh OA, OB bằng .....

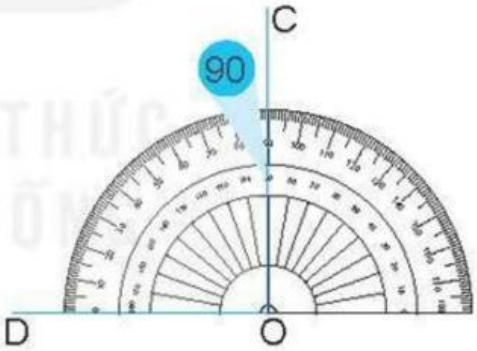

Góc đỉnh O; cạnh OC, OD bằng .....

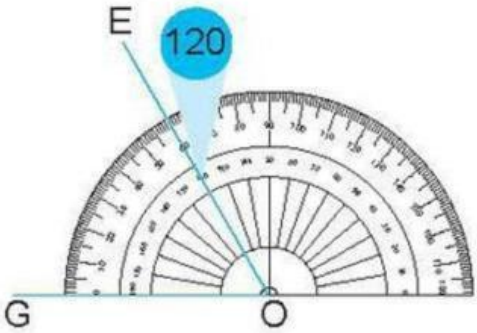

Góc đỉnh O; cạnh OE, OG bằng .....

LIVEWORKSHEETS

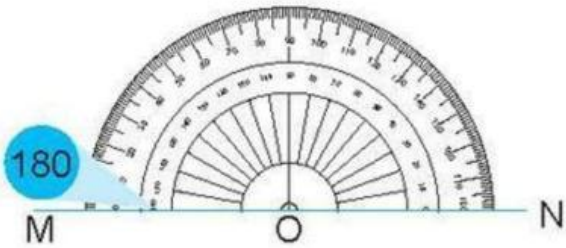

Góc đỉnh O; cạnh OM, ON bằng .....

2

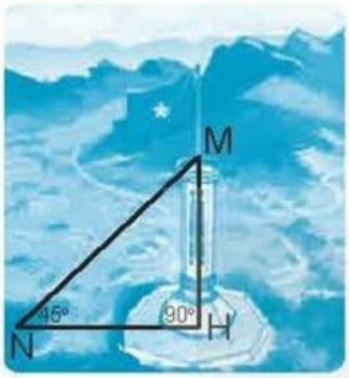

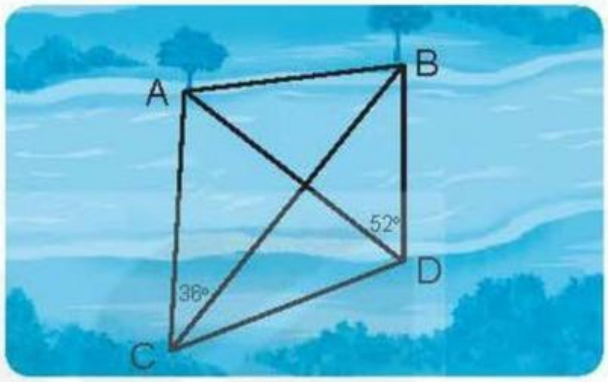

a) Quan sát tranh rồi viết số đo các góc sau:

– Góc đỉnh N; cạnh NM, NH bằng .....

– Góc đỉnh H; cạnh HM, HN bằng .....

– Góc đỉnh C; cạnh CA, CB bằng .....

– Góc đỉnh D; cạnh DA, DB bằng .....

b) Viết tiếp vào chỗ chấm cho thích hợp.

Trong các góc ở câu a, góc có số đo bé nhất là góc đỉnh .....

.....

Tiết 2

1 Viết số đo góc vào ô trống.

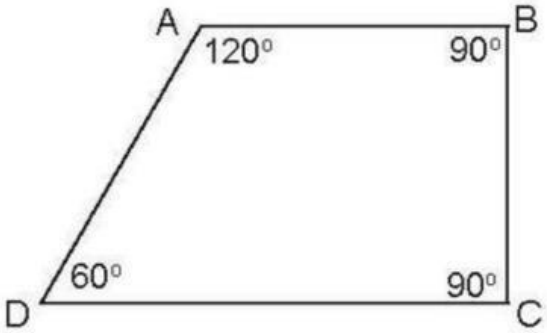

LIVEWORKSHEETS

Góc	Số đo góc
Góc đỉnh A; cạnh AB, AD	
Góc đỉnh B; cạnh BA, BC	
Góc đỉnh C; cạnh CB, CD	
Góc đỉnh D; cạnh DA, DC	

2 Dùng thước đo góc để đo các góc rồi viết vào chỗ chấm.

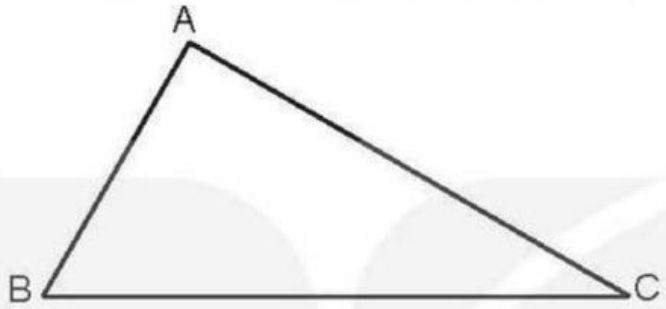

Góc đỉnh A; cạnh AB, AC bằng .....

Góc đỉnh B; cạnh BA, BC bằng .....

Góc đỉnh C; cạnh CA, CB bằng .....

3 Dùng thước đo góc để đo góc được tạo bởi hai kim đồng hồ.



A B C D

a) Viết số đo góc vào chỗ chấm cho thích hợp.

Hai kim đồng hồ ở đồng hồ A tạo ra góc .....

Hai kim đồng hồ ở đồng hồ B tạo ra góc .....

Hai kim đồng hồ ở đồng hồ C tạo ra góc .....

Hai kim đồng hồ ở đồng hồ D tạo ra góc .....

b) Khoanh vào chữ đặt dưới đồng hồ có hai kim đồng hồ tạo ra góc có số đo lớn nhất.

LIVEWORKSHEETS

BÀI 8 GÓC NHỌN, GÓC TÙ, GÓC BẸT

Tiết 1

1 Viết tiếp vào chỗ chấm cho thích hợp (theo mẫu).

Mẫu: Góc tù

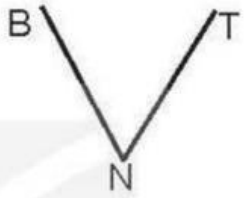

Góc .....



Góc .....

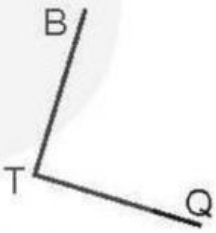

Góc .....

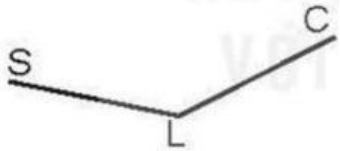

Góc .....

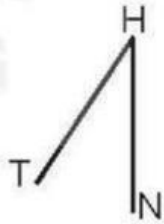

Góc .....

2 Bạn Nam vẽ hai mũi tàu như hình sau. Em hãy ghi chữ A vào con tàu có mũi là một góc tù và chữ B vào con tàu có mũi là một góc nhọn.

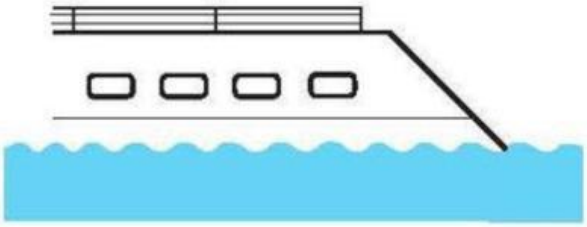

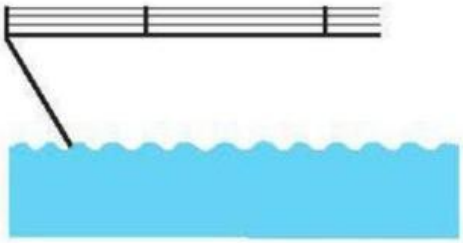

LIVEWORKSHEETS

3 Rô-bốt cắt chiếc bánh hình tròn thành 3 miếng như hình vẽ dưới đây. Bạn Linh lấy một miếng. Biết rằng:

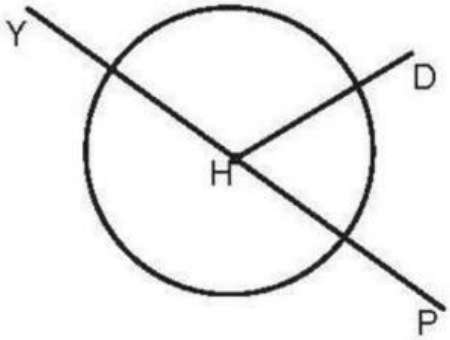

– Linh không lấy miếng bánh lớn nhất.

– Miếng bánh mà Linh lấy có góc ở đỉnh H không phải là góc nhọn.

Em hãy tô màu cho miếng bánh mà Linh đã lấy.

4 Viết tên hình tứ giác thích hợp vào chỗ chấm.

Hình tứ giác ..... có 2 góc nhọn và 2 góc tù. Hình tứ giác ..... có 2 góc vuông.

5 a) Vẽ thêm đoạn thẳng XZ để tạo với đoạn thẳng XY một góc nhọn.

b) Vẽ thêm đoạn thẳng OA để tạo với đoạn thẳng OB một góc tù.

c) Vẽ thêm đoạn thẳng IH để tạo với đoạn thẳng IK một góc bẹt.

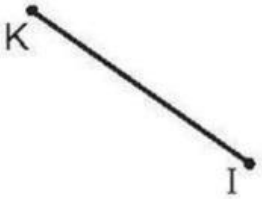

LIVEWORKSHEETS

Tiết 2

1 Viết tiếp vào chỗ chấm cho thích hợp.

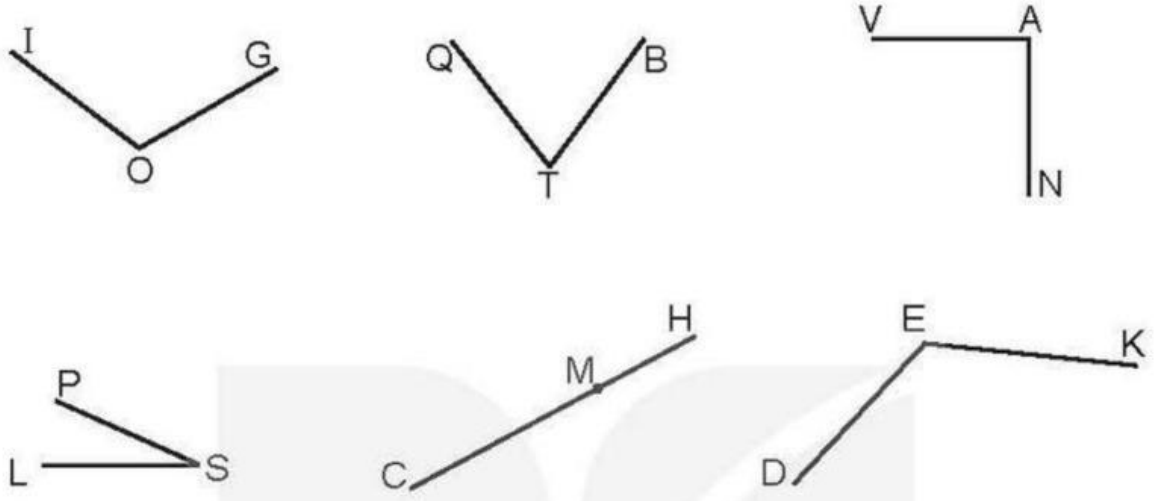

Trong các góc trên:

– Các góc nhọn là: .....

– Các góc tù là: .....

– Góc bẹt là: .....

– Góc vuông là: .....

2 a) Viết số thích hợp vào chỗ chấm.

Hình bên có ..... góc nhọn, ... góc vuông, ... góc tù.

b) Em hãy hoàn thành bảng ghi lại số góc mỗi loại tìm được ở câu a bằng các gạch, mỗi gạch là một góc.

	Góc nhọn	Góc vuông	Góc tù
Số góc			

LIVEWORKSHEETS

3 Viết tiếp vào chỗ chấm cho thích hợp (theo mẫu).

Quan sát các mặt đồng hồ sau và cho biết trong các đồng hồ đó, khi nào kim giờ và kim phút tạo thành góc nhọn, góc vuông, góc tù và góc bẹt.

Mẫu: Lúc 3 giờ, kim giờ và kim phút tạo thành góc vuông.

Lúc ....., kim giờ và kim phút tạo thành góc nhọn.

Lúc ....., kim giờ và kim phút tạo thành góc tù.

Lúc ....., kim giờ và kim phút tạo thành góc bẹt.

4 Miệng của chiếc hộp đựng dế than, dế lửa và dế út tiêu có dạng là các hình tứ giác như hình sau.

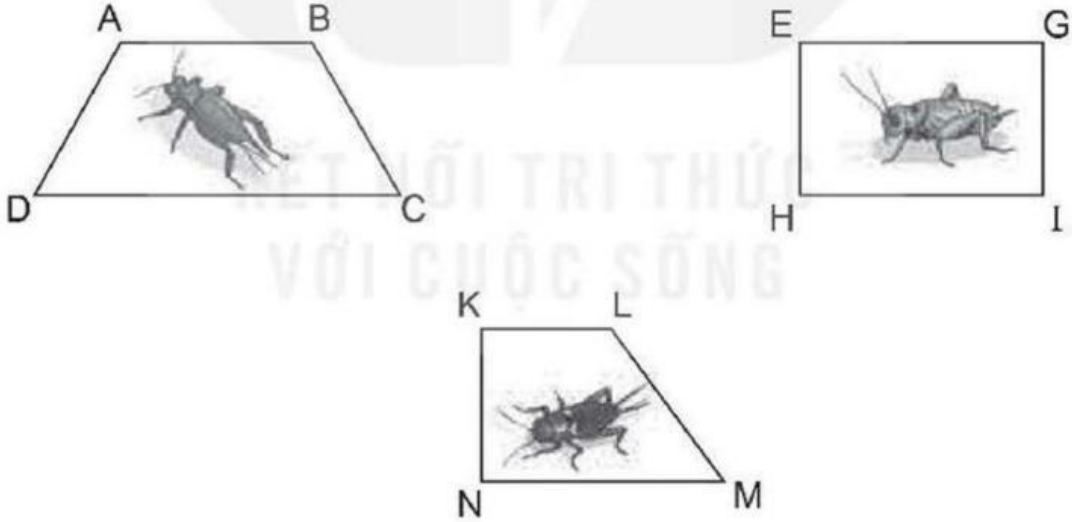

a) Viết tiếp vào chỗ chấm cho thích hợp.

Hình tứ giác có nhiều góc nhọn nhất là .....

b) Biết miệng chiếc hộp đựng dế út tiêu có cả góc vuông, góc tù và góc nhọn. Em hãy khoanh vào hình là miệng chiếc hộp ấy.

LIVEWORKSHEETS

5 Khoanh vào chữ đặt trước câu trả lời đúng.

Ở một ngã tư, bốn anh em chia tay nhau, mỗi người đi theo một con đường dẫn đến các vương quốc Hoa Đỏ, Rồng, Suối Ếch và Bếp Sắt. Anh cả đi đến vương quốc Rồng. Em út đi theo con đường không tạo với con đường của anh cả một góc bẹt hay góc nhọn.

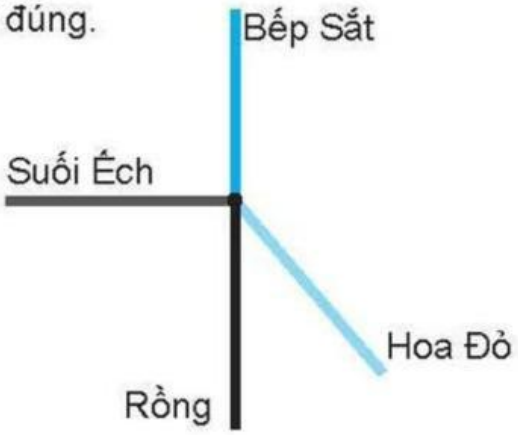

Vậy em út đi đến vương quốc nào?

A. Suối Ếch B. Bếp Sắt C. Hoa Đỏ

Tiết 3

1 Hãy tìm 1 góc tù, 1 góc nhọn và 1 góc bẹt trong hình bên rồi viết tiếp vào chỗ chấm cho thích hợp.

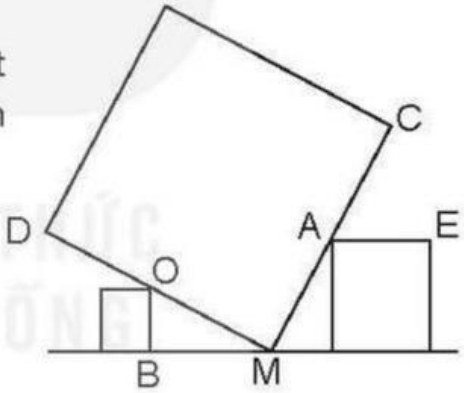

Góc đỉnh .....; cạnh ....., ... là góc tù.

Góc đỉnh .....; cạnh ....., ... là góc nhọn.

Góc đỉnh .....; cạnh ....., ... là góc bẹt.

2 Viết số thích hợp vào chỗ chấm.

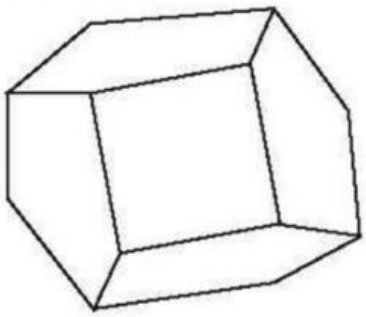

Hình trên có ..... góc nhọn, ... góc vuông, ... góc tù.

LIVEWORKSHEETS

3 a) Vẽ thêm đoạn thẳng OP để đoạn thẳng OP tạo với đoạn thẳng OA một góc tù, đồng thời tạo với đoạn thẳng OB một góc nhọn.

b) Vẽ thêm đoạn thẳng OQ để đoạn thẳng OQ tạo với mỗi đoạn thẳng OA và OB một góc nhọn.

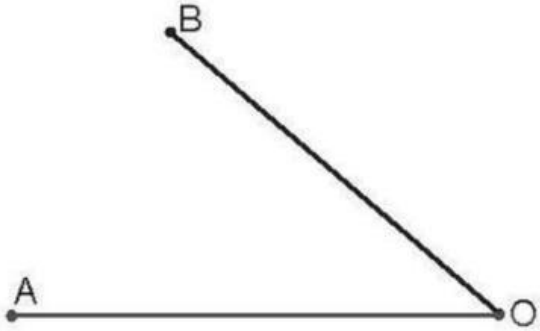

4 Viết số thích hợp vào chỗ chấm.

Quan sát các bước hướng dẫn gấp một tờ giấy hình vuông như hình dưới đây.

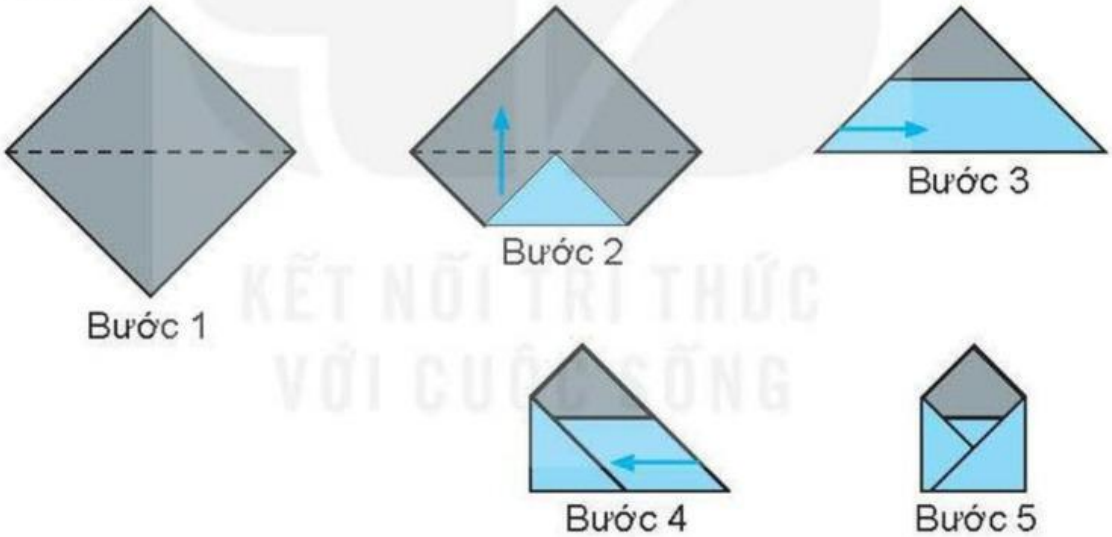

Sau bước thứ năm, hình thu được có ..... góc vuông và ..... góc tù ở các đỉnh.

5 Khoanh vào chữ đặt trước câu trả lời đúng.

Hai bạn đứng dựa lưng vào nhau rồi mỗi bạn đi thẳng về phía trước. Đường đi của mỗi bạn tạo ra một đoạn thẳng. Góc tạo bởi hai đoạn thẳng đó là góc gì?

A. Góc nhọn B. Góc vuông C. Góc tù D. Góc bẹt

LIVEWORKSHEETS

BÀI 9 LUYỆN TẬP CHUNG

Tiết 1

1 Nối mỗi góc với số đo của góc đó.

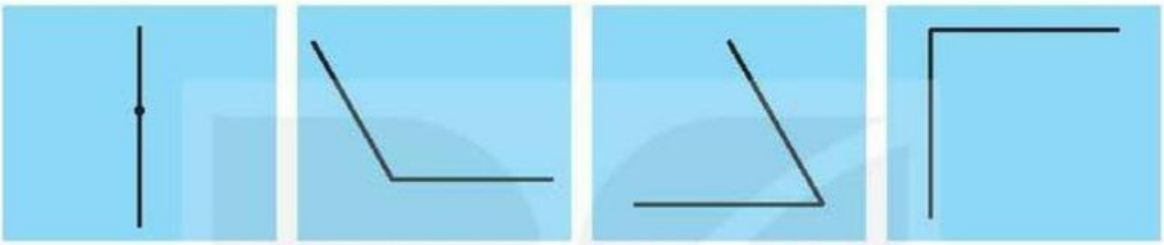

90° 60° 180° 120°

2 Đo rồi viết số đo góc thích hợp vào chỗ chấm.

– Góc đỉnh O; cạnh OC, OD bằng .....

– Góc đỉnh A; cạnh AC, AD bằng .....

– Góc đỉnh B; cạnh BC, BD bằng .....

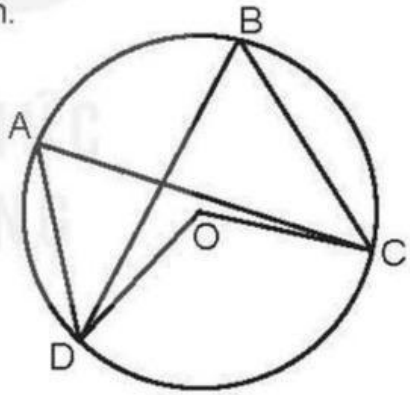

3 Khoanh vào chữ đặt trước câu trả lời đúng.

Mai dùng ê ke vẽ góc đỉnh O; cạnh OM, ON có số đo 90°, góc đỉnh O; cạnh ON, OP có số đo 30° và góc đỉnh O; cạnh OP, OQ có số đo 60°. Hỏi góc đỉnh O; cạnh OM, OQ là góc gì?

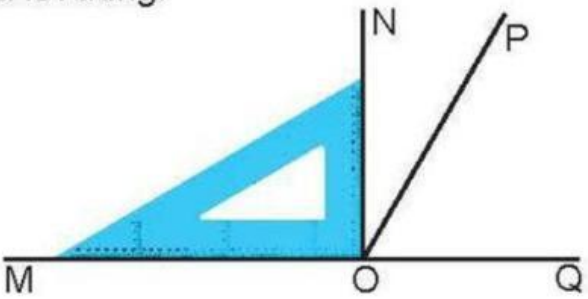

A. Góc nhọn B. Góc vuông C. Góc bẹt

LIVEWORKSHEETS

4 Viết tiếp vào chỗ chấm cho thích hợp.

Mi cắt giấy màu các chữ cái tiếng Anh sau:

- Chữ ..... và ..... có đúng hai góc nhọn.
- Chữ ..... và ..... có nhiều góc vuông nhất.
- Chữ ..... có nhiều góc tù nhất.

Tiết 2

1 Nối ba điểm sau để được hai đoạn thẳng tạo thành một góc nhọn.

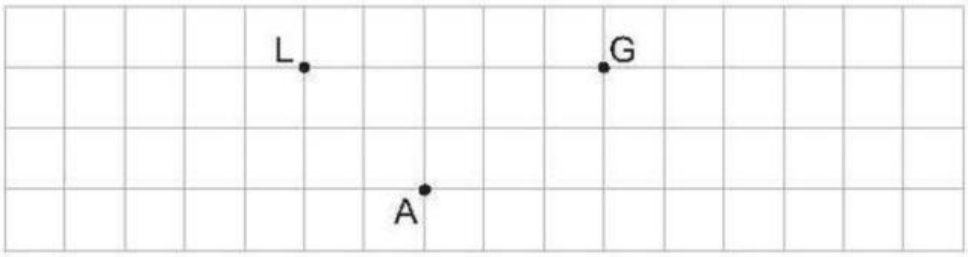

LIVEWORKSHEETS

2 Khoanh vào chữ đặt trước câu trả lời đúng.

Hoàng Hậu hẹn Thỏ Trắng đến dự tiệc trà. Biết tiệc trà bắt đầu lúc kim giờ và kim phút tạo thành một góc bẹt. Hỏi trong các đồng hồ dưới đây, đồng hồ nào chỉ lúc tiệc trà bắt đầu?

A.

B.

C.

D.

3 Viết số đo góc thích hợp vào chỗ chấm.

Để đo chiều cao một cái cây, người ta xác định 3 điểm O, A và B như trong hình vẽ dưới đây.

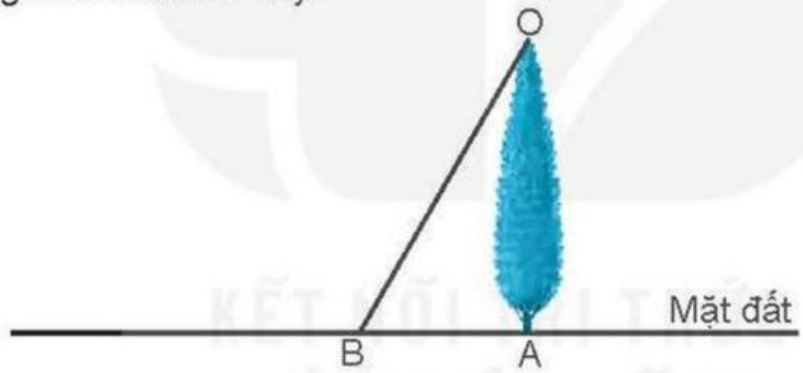

Góc đỉnh B; cạnh BA, BO bằng .....

Góc đỉnh A; cạnh AB, AO bằng .....

4 Viết số thích hợp vào chỗ chấm.

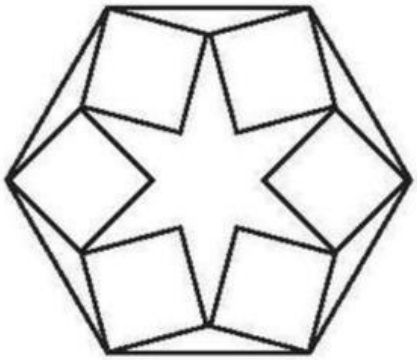

Trong hình trên có ..... góc nhọn, ... góc vuông và ..... góc tù.

LIVEWORKSHEETS

BÀI 10 SỐ CÓ SÁU CHỮ SỐ. SỐ 1 000 000

Tiết 1

1 Hoàn thành bảng sau.

Hàng trăm nghìn	Hàng chục nghìn	Hàng nghìn	Hàng trăm	Hàng chục	Hàng đơn vị	Viết số
1	4	0	4	2	1	
						370 280
5	0	0	0	3	0	
						700 046

2 Viết số tiền ở mỗi hình vào chỗ chấm.

a)

.....

b)

.....

c)

.....

3 Viết số thích hợp vào chỗ chấm.

a) 384 200 = 300 000 + ... + 4 000 + 200

b) 180 455 = ... + 80 000 + 400 + ... + ...

c) 470 080 = 400 000 + ... + ...

LIVEWORKSHEETS

4 Nối các bóng nói với thẻ giá thích hợp.

Ba trăm nghìn đồng.	199 000 đồng
Một trăm chín mươi chín nghìn đồng.	300 000 đồng
Hai trăm bảy mươi lăm nghìn đồng.	275 000 đồng

5 Viết số thích hợp vào chỗ chấm.

An viết 1 số có hai chữ số và 1 số có bốn chữ số cạnh nhau thì được 1 số có sáu chữ số là: 140 293.

Vậy An đã viết số ..... và số .....

Tiết 2

1 Số ?

a)

99 999 | [ ] | [ ] | 100 002 | [ ] | 100 005 | [ ]

b)

300 000 | 350 000 | [ ] | 450 000 | 500 000 | [ ] | 600 000 | [ ]

2 Số ?

Chín trăm hai mươi ba triệu bảy trăm [ ]

Bảy trăm nghìn ba trăm hai mươi tư [ ]

Một triệu [ ]

LIVEWORKSHEETS

3 Viết (theo mẫu).

Mẫu: 738 930 = 700 000 + 30 000 + 8 000 + 900 + 30

a) 394 001 = ...

b) 500 600 = ...

c) 341 504 = ...

d) 123 456 = ...

4 Viết số thích hợp ứng với mỗi cách đọc lên các tấm bìa.

5 Viết tiếp vào chỗ chấm cho thích hợp.

Dùng các tấm thẻ sau có thể ghép được số có sáu chữ số.

Các số có sáu chữ số có thể ghép được là: .....

.....

LIVEWORKSHEETS