E-LKPD

Biologi

Struktur dan Jaringan Tumbuhan

Nama: _____

Kelas: _____

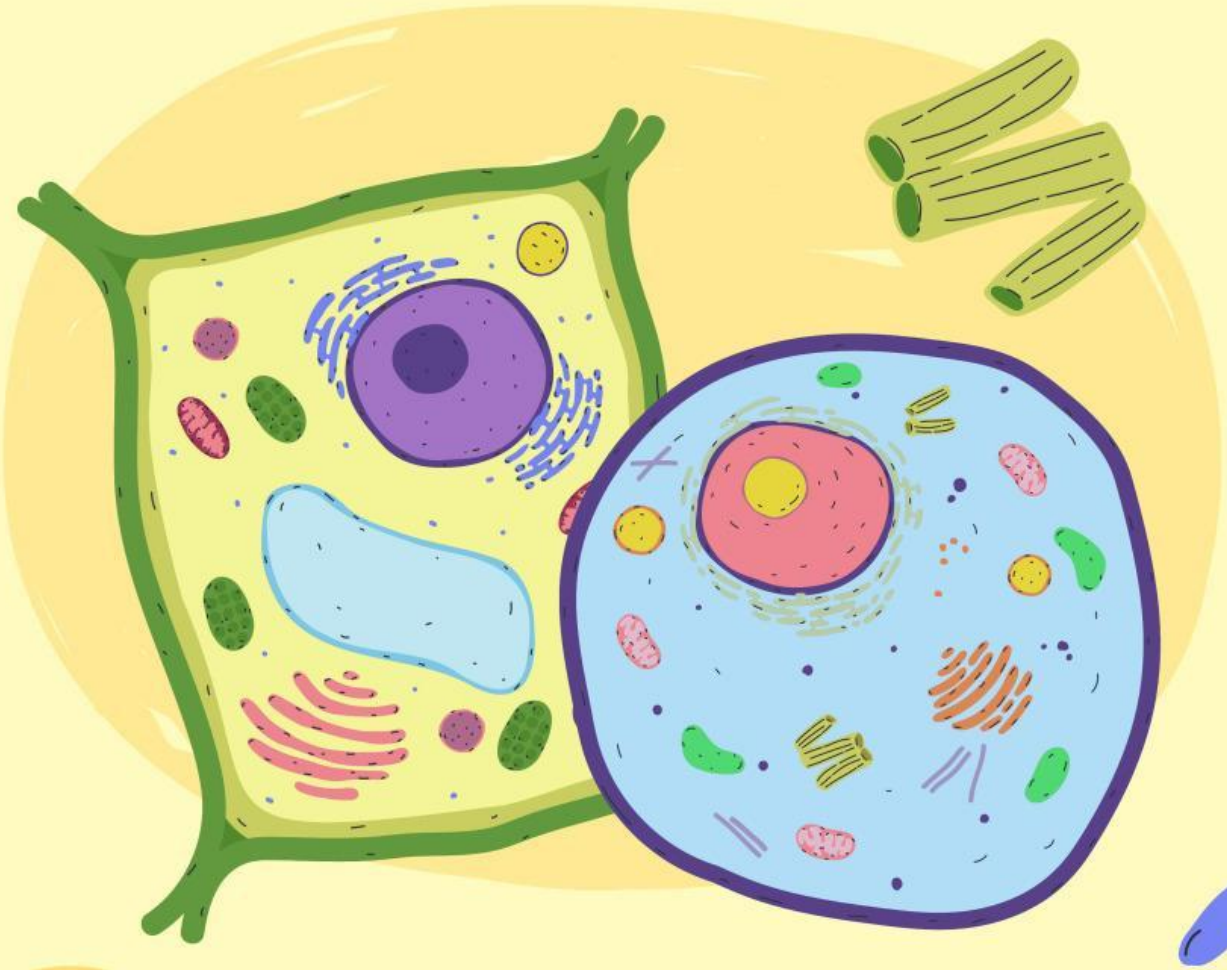

LIVEWORKSHEETS

Ayo Pikirkan!

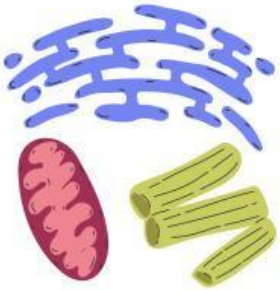

Jawablah pertanyaan di bawah ini.

Pertanyaan:

1. Mengapa sel disebut sebagai unit struktural dan fungsional kehidupan?
   Jawab: _____

2. Bagaimana ciri-ciri yang dimiliki oleh sel?
   Jawab: _____

3. Apa perbedaan utama antara sel prokariotik dan sel eukariotik?
   Jawab: _____

4. Apa saja struktur dasar yang dimiliki oleh semua jenis sel?
   Jawab: _____

5. Apa saja struktur organel pada sel?
   Jawab: _____

6. Apa peran dinding sel pada tumbuhan? Mengapa hewan tidak memilikinya?
   Jawab: _____

7. Mengapa mitokondria disebut sebagai “pembangkit energi” sel?
   Jawab: _____

8. Bagaimana hubungan antara struktur dan fungsi sel dalam mendukung kehidupan organisme?
   Jawab: _____

LIVEWORKSHEETS

Menemukan

Tulislah nama organel-organel pada sel sesuai dengan yang ditunjuk.

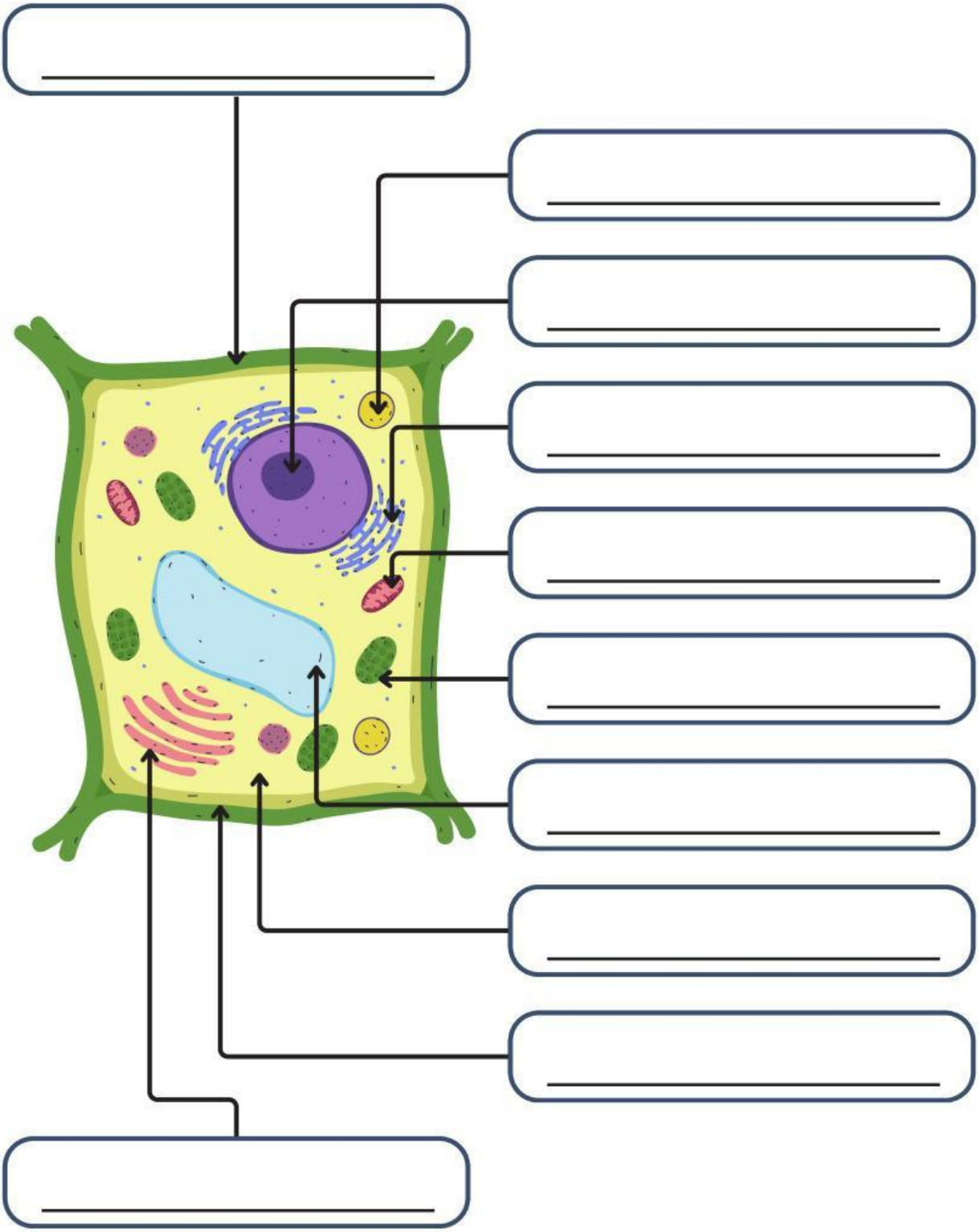

LIVEWORKSHEETS

Menulis

Tulislah fungsi dari struktur dasar sel di bawah ini.

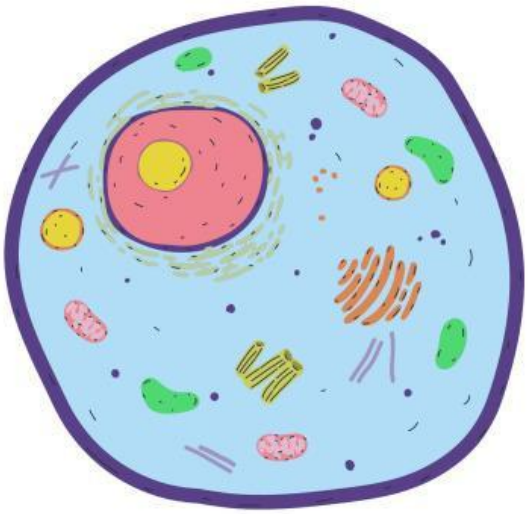

Membran Sel	Sitoplasma	Nukleus

LIVEWORKSHEETS