Repaso contenidos: **Los Griegos**
Historia 3°

1.-Completa cada línea con la palabra correcta

2 El presente mapa nos muestra la ubicación geográfica de la civilización griega. A partir este recurso, responde las siguientes preguntas.

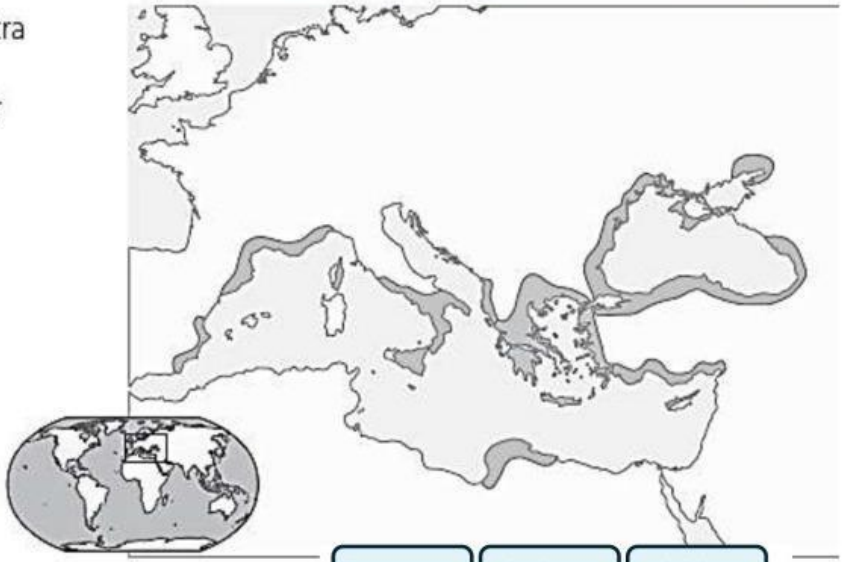

a. ¿En qué continente se ubica la civilización griega? _____ Europa | Asia | Africa _____

b. ¿Con qué continentes limitan los griegos? _____ Europa | Asia | Africa _____

c. ¿En qué mar se posicionaron los griegos? _____ Egeo | mediterraneo | mar negro _____

LIVEWORKSHEETS

Repaso contenidos: **Los Griegos**
Historia 3°

3 Escribe en los cuadros de la imagen las partes que componen la polis griega. Utiliza el listado que se te presenta. (4 puntos).

Puerto
Ágora
Acrópolis
Zona urbana



4.-Resuelve el siguiente crucigrama con los contenidos vistos

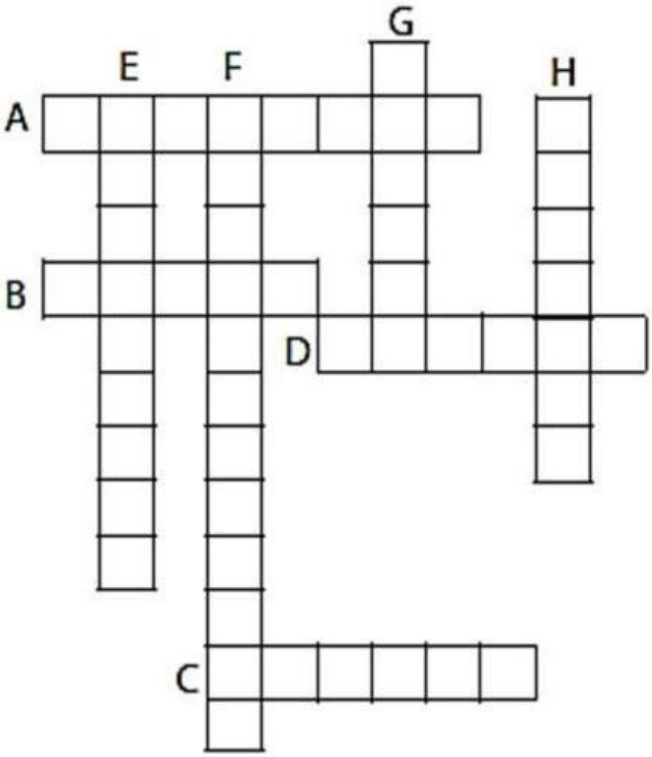

A. Península en donde se desarrolló la cultura griega.
B. Nombre de las ciudades-Estado griegas.
C. Principal cultivo de los griegos.
D. Se realizaban comedias y tragedias.
E. Parte de la ciudad. Es el sector alto de la ciudad y se encuentra amurallada.
F Sociedad que ha alcanzado un alto desarrollo político, económico, social y cultural.
G. Espacio geográfico de los griegos.
H. Polis griega que se caracteriza por ser una ciudad guerrera.

BALCANES
POLIS
ACROPOLIS
HELADE
ESPARTA
CIVILIZACIÓN
TEATRO
OLIVOS

LIVEWORKSHEETS

Repaso contenidos: **Los Griegos**
Historia 3°

5 Completa el siguiente mapa conceptual con el contenido del legado griego. (1 punto c/u).

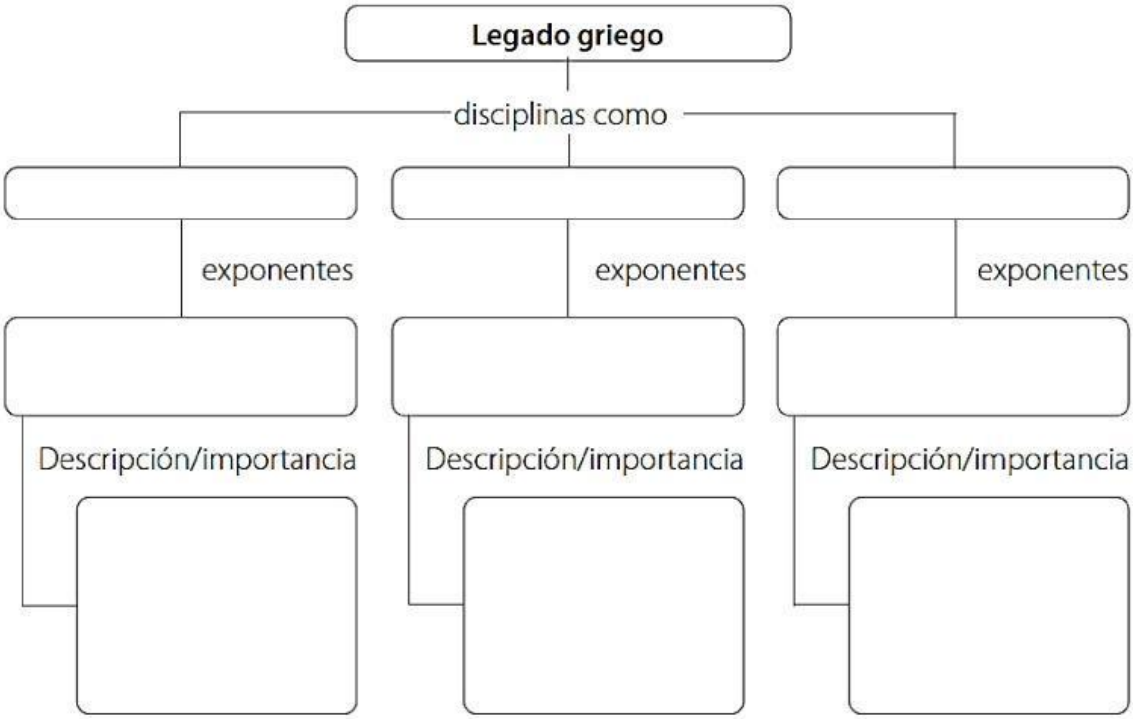

Ciencias

Aportaron al desarrollo de ciencias como la geometría, la medicina y geografía.

Heródoto

Sócrates, Platón y Aristóteles

Filosofía

Historia

Ayuda a conocer el pasado de un pueblo y registrar los hechos históricos.

Estudiar sobre temas que siempre le han interesado al ser humano, como el origen del mundo y de la vida.

Tales de Mileto, Hipócrates, Eratóstenes

LIVEWORKSHEETS

Repaso contenidos: **Los Griegos**
Historia 3°

6.-Une cada definición con su concepto

La península balcánica posee una gran cantidad de cadenas montañosas, lo que limitó el traslado de los griegos y los espacios para cultivar.	**Clima**
Zona climática templada, por lo que tiene estaciones bien definidas, con inviernos húmedos y veranos secos y calurosos.	**Agricultura**
Por su relieve motañoso, había pocos terrenos planos para cultivar. Desarrollaron la agricultura de olivos, trigos y vinos en los valles.	**Montañas**

7.-Verdadero o Falso. Lee las siguientes oraciones y responde si son verdaderas (V) o falsas (F)

	a. El entorno geográfico de Grecia se caracterizaba por los pocos terrenos montañosos y una variedad de valles.
	b. Los atenienses consideraban ciudadanos a todos los hombres libres, las mujeres y niños griegos, incluyendo a los extranjeros.
	c. La educación de los niños en Grecia era muy diferente al de las niñas.
	d. Entre los aportes literarios de la Antigua Grecia encontramos los poemas épicos *La Ilíada* y *La Odisea*.
	e. Los estadios deportivos actuales no tienen relación con el legado arquitectónico de los antiguos griegos.

LIVEWORKSHEETS