Коло, вписане в трикутник

7 клас

1. На якому рисунку зображено коло, вписане в трикутник?

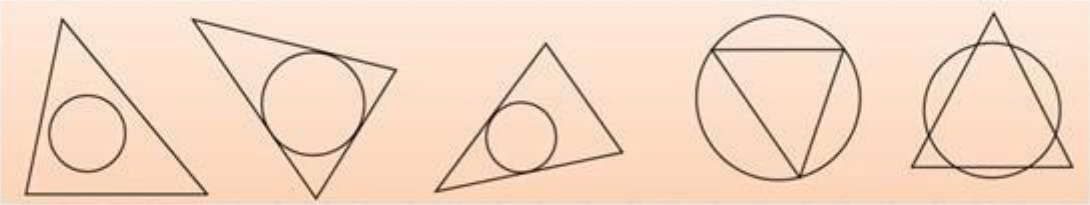

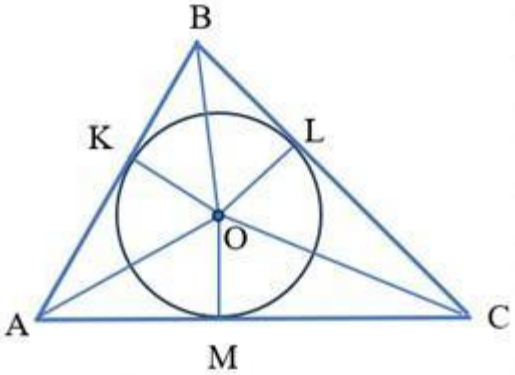

2. На рисунку точка O – центр кола, вписаного в трикутник ABC, точки M, K, L – точки дотику. Доповніть записи:

1)Δ AOK =Δ
2)Δ MOC=Δ
3)Δ OLB=Δ

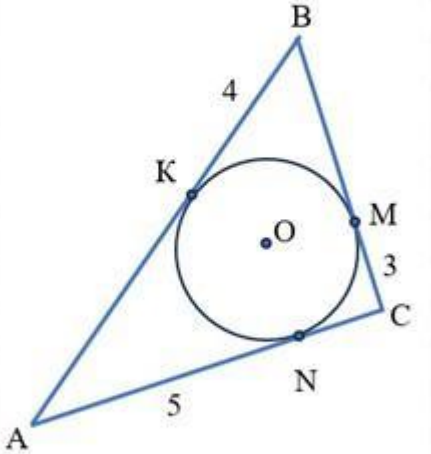

3. Знайди периметр трикутника. *(впиши лише число)*

LIVEWORKSHEETS