Дотична до кола, її властивості 7 клас

1. На якому малюнку пряма m є дотичною до кола?

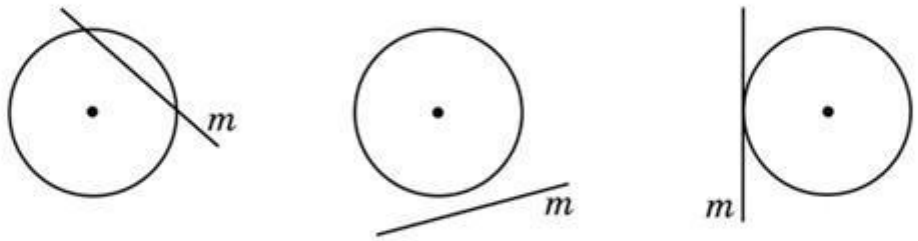

2. На малюнку КР – дотична до кола, точка О – центр кола. Знайдіть $\angle OMN$, якщо $\angle NMP = 40°$

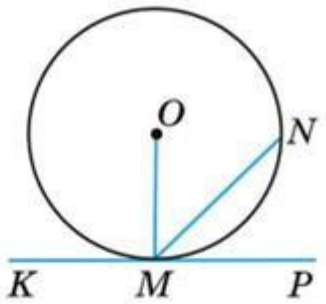

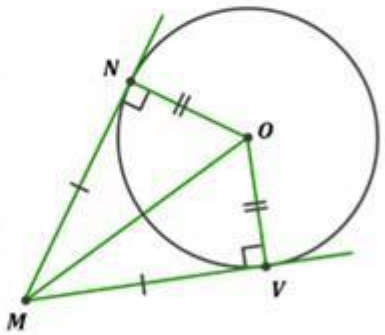

3. Які відрізки рівні за властивістю відрізків дотичних, проведених з однієї точки кола?

LIVEWORKSHEETS